令和８年度

社　会　問題用紙

注　意

(1)　放送による指示があるまでは，問題用紙に手をつけてはいけません。

(2)　「やめ」といわれたら，すぐにやめなさい。

(3)　えんぴつまたはシャープペンシル，消しゴムだけを机の上に出しなさい。

(4)　えんぴつや消しゴムなどを貸したり，借りたりしてはいけません。

(5)　何か質問があるときや物を落としたときは，声を出さずに静かに手をあげなさい。

(6)　解答用紙は，机の中央に置いて書きなさい。

(7)　計算などをするときは，問題用紙のあいているところを使いなさい。

(8)　問題は【１】から【６】まで，９ページあります。

答えを書くときの注意

(1)　答えは，解答用紙の示されたところに，はっきりと書きなさい。わくからはみだしたり，読みにくい字を書いたりしてはいけません。

(2)　答えは，とくに示されているほかは，問題の後にあげてある中から**１つだけ**選んで，**ア**，**イ**，**ウ**……などの記号で書きなさい。

【1】 筑波さんは，昨年の日本国際博覧会会場で輪島塗大型地球儀「夜の地球」を見学し，「日本列島の大部分は夜でも明るいこと」を知りました。次の写真は，石川県輪島漆芸美術館が提供している「夜の地球」の一部を示しています（室内の照明の光が反射している部分があります）。これを見て，後の各問いに答えなさい。

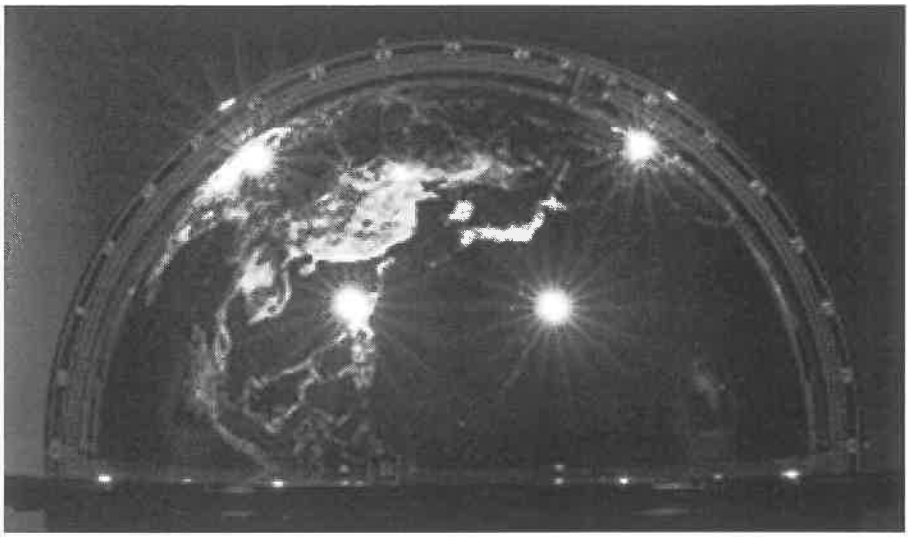

(1) 筑波さんは，万博会場で「夜の地球」の日本列島周辺を見ていた小学生が，「九州の近くに，九州より大きい島がある」と言っているのを耳にしました。筑波さんは，実際は島ではないことを小学生に説明してあげました。あなたなら，なぜ島のように見えてしまったかについて，どのように説明しますか。**２つ**の国名（正式な国名ではなくてもよい）を使って書きなさい。

(2) 写真の地球儀は，2024年1月1日の地震でも奇跡的に無傷で「復興のシンボル」とされています。この地震で大きな被害を受けた半島の名前を次の**ア**～**エ**の中から，その半島の地図（縮尺は同じではありません）を下の①～④の中から選びなさい。

ア 津軽半島　　**イ** 伊豆半島　　**ウ** 知床半島　　**エ** 能登半島

①



②



③



④



【2】 大塚（おおつか）さんは，都道府県別の風力発電と太陽光発電による発電実績を調べていたところ，季節によって発電量が変化していることに気づき，次の**表**のようにまとめました。**A**，**B**はそれぞれ2024年6月，2024年12月のいずれかの発電量を示しており，**表**中の（①），（②）は秋田県，岩手県のいずれかを示しています。**表**を見て，後の各問いに答えなさい。

表　都道府県別発電実績（2024年）

A　（単位：1,000kWh）

	風力	太陽光
青森県	274,146	13,815
（①）県	145,909	3,362
（②）県	87,765	25,404
宮城県	19,221	74,980
山形県	14,978	2,795

B　（単位：1,000kWh）

	風力	太陽光
青森県	69,088	88,167
（①）県	31,951	21,258
（②）県	29,385	86,160
宮城県	5,544	170,043
山形県	3,488	20,129

（資源エネルギー庁ホームページより作成）

(1)　**A**，**B**と**表**中の（①），（②）にあてはまる月と県の組み合わせとして正しいものを，次の**ア**～**エ**の中から選びなさい。

ア　**A**―6月，**B**―12月　　①―秋田，②―岩手
イ　**A**―12月，**B**―6月　　①―秋田，②―岩手
ウ　**A**―6月，**B**―12月　　①―岩手，②―秋田
エ　**A**―12月，**B**―6月　　①―岩手，②―秋田

(2)　大塚さんが**表**中の各県について水力発電による月別発電量を比べたところ，秋田県や山形県では，冬に比べて降水量が少ない4，5月の水力発電の発電量が年間で最も多かったことがわかりました。この理由を考え，簡単に説明しなさい。

【3】 文京（ぶんきょう）さんは，授業で「日本は資源が乏（とぼ）しい国である」と習った時に，「本当にそうだろうか」と疑問に思い，日本の中で豊かでありながら，あまり資源として注目されていないものはないかと考えました。そして日本は国土に占める森林面積の割合が世界と比較してとても高く，国内でも面積に占める森林面積の割合（森林率）が特に高い都道府県があることに気づき，次の**表**のようにまとめました。**表**を見て，後の各問いに答えなさい。

表　都道府県別の森林面積と森林率（2022年3月31日現在）

都道府県名	森林面積（万ha）	森林率（%）
高知県	59	83.6
岐阜県*	86	81.1
（①）県*	107	78.7
島根県	52	78.2
（②）県*	35	78.0
奈良県*	28	76.9
岩手県	117	76.5
（③）県	36	76.5

（林野庁ホームページの統計情報より作成）

注：* 印は，内陸に位置している県であることを示す。

(1) 日本の国土に占める森林面積の割合に最も近いものを，次の**ア**～**エ**の中から選びなさい。

ア　2分の1　　**イ**　3分の2　　**ウ**　4分の3　　**エ**　5分の4

(2) **表**中の（①）～（③）にあてはまる各県は，すべて果実の栽培がさかんであるという共通点があります。（①）～（③）の各県の組み合わせとして正しいものを，次の**ア**～**エ**の中から選びなさい。

ア　①―長野　②―埼玉　③―和歌山
イ　①―長野　②―山梨　③―和歌山
ウ　①―山梨　②―長野　③―愛媛
エ　①―山梨　②―埼玉　③―愛媛

(3) 文京さんは，日本の林業について次のようなまとめをつくりました。［　　］に共通してあてはまる適当な言葉を書きなさい。

○木材の自給率は，1970年には46.7%だったが，2002年には18.8%にまで落ち込んだ。［　　］が大量に利用されたからである。
○しかし，近年は木質バイオマス燃料として国産材の利用が急増したり，［　　］の価格が上昇したりしたことで，木材自給率は上昇しており，2023年は42.9%となっている。

【4】 筑波（つくば）さんは，江戸時代までの日本の歴史について，政治の力を守り続けることが難しかった理由を考え，カードにまとめることにしました。筑波さんが書いた次のカードを見て，後の各問いに答えなさい。

A	B	C
戦乱が起こり，敗れてしまった。	天皇との関係が遠くなった。	宗教勢力の政治への不満が高まった。

D	E	F
政治を支えていた側の人々の力が強くなった。	政治に必要なお金を得るための手段がなかった。	外国とのかかわりが変化して政治が混乱した。

(1) 次の①～④の政治について，A～Fから２つ選んだ組み合わせのうち，２つともそれぞれの政治の力が弱まった理由にあてはまるものを，次のア～エの中から選びなさい。

ア ① 聖武天皇の政治・・・・A と E
イ ② 藤原氏の摂関政治・・・B と F
ウ ③ 北条氏の政治・・・・・C と E
エ ④ 徳川氏の政治・・・・・D と F

(2) A～Fのカードの下線部をすべて**反対の意味の内容**（Aなら「戦乱が起こり，勝利した」，Dなら「政治を支えていた側の人々の力が弱くなった」）に変えたものを（A）～（F）とします。平氏と豊臣氏がどのようにして政治の力を強めたかを説明する場合，反対の意味の内容が最も適当なカードの組み合わせを，次のア～エの中から選びなさい。

ア （A）と（B）と（E）
イ （A）と（C）と（F）
ウ （B）と（C）と（D）
エ （D）と（E）と（F）

【5】 次の**年表**と**図**を見て，後の各問いに答えなさい。

年表

年	できごと
1946	日本国憲法の（　A　）
1953	（　あ　）が日本に復帰する
1956	日本が国際連合に加盟(かめい)する
1958	東京タワーができる
1964	東京オリンピック・（　B　）競技会開催(かいさい)
1968	（　い　）が日本に復帰する
1972	（　う　）が日本に復帰する
1994	日本，（　C　）条約批准(ひじゅん)

図　国際連合の活動費用の負担割合

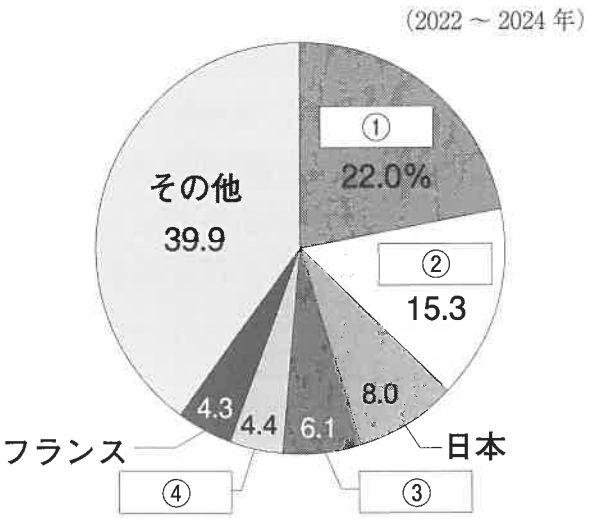

（国際連合広報センター　ホームページより作成）

(1)　**年表**中の（あ）（い）（う）にあてはまる地名の組み合わせとして正しいものを，次の**ア**～**カ**の中から選びなさい。

ア	（あ）台湾(たいわん)	（い）尖閣諸島(せんかく)	（う）沖縄(おきなわ)
イ	（あ）小笠原諸島(おがさわら)	（い）沖縄	（う）竹島
ウ	（あ）竹島	（い）奄美群島(あまみ)	（う）沖縄
エ	（あ）奄美群島	（い）小笠原諸島	（う）沖縄
オ	（あ）尖閣諸島	（い）奄美群島	（う）竹島
カ	（あ）奄美群島	（い）竹島	（う）沖縄

(2) **年表**中の（A）（B）（C）にあてはまる語句の組み合わせとして正しいものを，次の**ア～カ**の中から選びなさい。

ア　（A）公布　（B）デフリンピック　（C）日米安全保障
イ　（A）施行　（B）パラリンピック　（C）子どもの権利
ウ　（A）公布　（B）アビリンピック　（C）障害者権利
エ　（A）施行　（B）デフリンピック　（C）日中平和友好
オ　（A）公布　（B）パラリンピック　（C）子どもの権利
カ　（A）施行　（B）アビリンピック　（C）障害者権利

(3) **図**中の［①］～［④］にあてはまる国について正しく説明しているものを，次の**ア～ク**の中から**2つ**選びなさい。

ア　①は1990年代から日本に日系人が働きに来る人が増えた国である。
イ　②は1972年に国交正常化し，1978年には平和友好条約を結んだ国である。
ウ　③は1872年にできた富岡製糸場でやとった技術者の出身国である。
エ　④は1904年から日本と戦争をした相手国である。
オ　①は野口英世が研究員として医学の研究をした国である。
カ　②は北里柴三郎や志賀潔が医学の研究で留学した国である。
キ　③は1954年から竹島を不法に占拠している国である。
ク　④は1854年に下田と函館の2港を開いた相手国である。

【6】 次の新聞記事を読んで，後の各問いに答えなさい。

・・・国会議員の生態を表す言葉に「金帰火来（きんきからい）」があります。これは衆議院議員の１週間を表しています。東京日程が終わる金曜夕方に選挙区のある地元に戻り，翌週の火曜に上京するケースが多いからです。衆議院の［ A ］は火・金曜が定例日のため，月曜は東京にいる必要があまりないのです。参議院は月，水，金曜が原則［ A ］の定例日です。参議院議員は月曜には国会周辺にいる必要があり，衆議院議員に比べると，週末を地元で過ごす頻度は少ないと言えます。地元入りしたとしても，土曜や日曜夜のうちに東京に戻る議員も多いようです。・・・（以下，省略）

『読売新聞オンライン』(2025 年 5 月 28 日配信記事) より作成

衆議院議員と参議院議員の週末の過ごし方には違いがある



(1) 記事の中の［ A ］には，議院の最終的な意思決定を行う会議があてはまります。この会議の様子を示している写真を，次のア～エの中から選びなさい。

ア



イ



ウ



エ



(2) 筑波さんは，衆議院議員が週末に地元に戻ってどのような活動をしているのかを調べたところ，ある国会議員が次の**資料**のような一日を過ごしていることがわかりました。そして，衆議院議員が頻繁に地元に戻る理由として，右のような＜**仮説**＞を立てました。＜**仮説**＞の［　　］にあてはまる内容を，衆議院と参議院の選挙制度の違いに触れて説明しなさい。

資料　ある国会議員の岡山での一日

7：00	事務所発
7：20	京橋朝市　～8：00
8：20	岡山市展示操法　～8：40
9：00	開成学区マラソン大会　～9：15
9：30	2009とみやま防災訓練　～9：45
10：00	中山八幡宮　祝年祭（厄払い）　～10：30
10：45	恩徳寺　大護摩法要　～11：00
11：30	松林寺子ども会陽はだかまつり　～12：00
12：30	第5回竜之口学区民ふれあいボウリング大会　～13：00
13：30	日本郵政グループ労働組合岡山支部2009旗開き
15：50	西大寺郷土芸能フェスティバル2009
17：00	道文会総会（懇親会）
19：30	（街宣テープ録音等）
20：00	デスクワーク（ホームページの写真選定など）

林芳正・津村啓介『国会議員の仕事』（中公新書）より作成

＜**仮説**＞

衆議院議員が参議院議員に比べて頻繁に地元に戻る理由は，

［　B　］

(3) 筑波さんは，国会議員の収入を調べたところ，次のようなものがありました。前のページの新聞記事の内容をふまえ，国会議員にとって必要な収入を考えて，［　C　］にあてはまる内容を書きなさい。

＜国会議員の主な収入＞
①歳費…月約130万円
②政策活動費（法律の制定などの活動に必要な経費を支払うためのもの）
　…年間約2000万円
③その他…［　C　］のための費用

社 会　解答用紙（令和８年度）

【1】	(1)				
	(2)	半島		地図	

【2】	(1)			
	(2)			

【3】	(1)		(2)	
	(3)			

【4】	(1)		(2)	

【5】	(1)		(2)	
	(3)			

【6】	(1)	
	(2)	
	(3)	

受験番号	
座席番号	—

（社会）

※記入しないこと