社会　令和８年度　渋谷教育学園渋谷中学校入学試験問題

注　・答えはすべて解答らんにおさまるように記入して下さい。
・字数の指定がある問題については、次の①と②に注意して下さい。
①句点（「。」）や読点（「、」）は、それぞれ１字として数えます。
②算用数字を用いる場合は、数字のみ１マスに２字書くことができます。
例１）「２０２６年」と書く場合　20 26 年
例２）「３６５日」と書く場合　36 5 日　または　3 65 日

1　以下の文章を読んで、あとの問題に答えなさい。

皆さんは今、本校渋谷教育学園渋谷中学校の入学試験を受験しています。中学校においても、皆さんは教員（教師）と関わり学校生活を歩んでいきますが、現在日本の学校は、教員不足に悩まされていることを知っていますか。全国公立学校教頭会の調査によると、2024年度は当初時点で約２割の学校で教員不足が生じていたとされています。教員が不足しているということは、もしかしたら教員という仕事・労働の価値が、魅力的に映っていないのかもしれません。社会で働き方改革が進むなかで、より教員の重労働が際立ってしまっていることも理由の一つでしょう。労働について考えることの多い現代。今回は仕事・労働という視点から日本の歴史を見てみましょう。

問１　「労働」という言葉自体は近代以降に生まれたものですが、「生産活動」という意味で労働を捉えれば、人間は原始からずっと労働を行ってきました。以下の写真X ～ Zは、旧石器時代、縄文時代、弥生時代に生産されたものです。写真とそれぞれが生産された時代とを正しく組み合わせたものを、あとのア～カの中から１つ選び、記号で答えなさい。

X



Y



Z



ア　X－旧石器時代　Y－縄文時代　Z－弥生時代
イ　X－旧石器時代　Y－弥生時代　Z－縄文時代
ウ　X－縄文時代　Y－旧石器時代　Z－弥生時代
エ　X－縄文時代　Y－弥生時代　Z－旧石器時代
オ　X－弥生時代　Y－旧石器時代　Z－縄文時代
カ　X－弥生時代　Y－縄文時代　Z－旧石器時代

問２　律令国家の下では、人々は国家によって労働を負担させられました。以下のX～Zは、律令国家の下で人々に課せられた負担から連想できる写真で、あとのア～ウは、それぞれに対する考察です。ア～ウの考察の中から**誤っているもの**を１つ選び、記号で答えなさい。

X

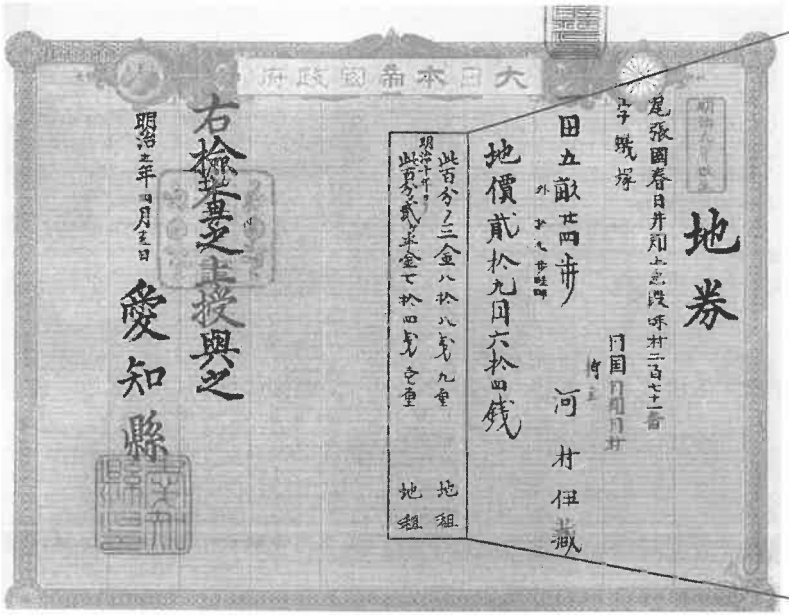

この百分ノ三　金八十八銭九厘　地　租
明治十年ヨリ
この百分ノ二ケ半　金七十四銭一厘　地　租
（※漢字は読みやすいように改めてある。）

Y



Z



考察

ア　Xについて、「租」は、律令国家の頃は稲の収穫物の一部を納める負担を表したが、写真にある明治時代の「地租」など、近代以降も国家に対して人々が負担するものの名前に用いられている。

イ　Yについて、写真の和銅黒谷駅は、中央政府に献上された和銅という銅が産出した遺跡の最寄り駅で、現在の埼玉県にある。和銅が献上されたことを記念して、平安京で和同開珎が鋳造された。

ウ　Zについて、写真にある「調布」という地名は、律令国家の頃の負担である「調」に由来する。「調」は各地の特産物を一定量中央政府に納めるという負担で、この地域では布が特産物であったため、「調布」という地名となった。

問３　平安時代の貴族たちはどのような仕事・労働をしていたのでしょうか。以下は、藤原道長の日記です（文章は読みやすいように改めています）。日記の記述を読んでみると、道長は、「官職に任命（任免）すること」を仕事としていたことがわかります。このような仕事ができるのは貴族の中でも最上位の貴族でした。これに関連して、あとの問題に答えなさい。

> 除目（じもく）*1が終了する。戌（いぬ）時頃であった。除目が行われている間、淡路国の百姓たちからの訴えを承（う）けて、淡路守（あわじのかみ）*2讃岐扶範（さぬきのすけのり）を太政官において尋問して調書を作成する。その調書をもとに討議した貴族たちは、「扶範に代わる者が新たに淡路守に任命されるのが適切である」との意見で合意する。この件を話し合う会議が行われている間、夜はさらに更けた。丑（うし）の二刻に本日の政務のすべてが終了した。

＊１　除目　…　官職に任命する儀式　　＊２　淡路守　…　淡路国の国司のこと

(1)　この日記とその内容・背景について述べた以下のX ～ Zの文章の正誤の組み合わせとして最も適切なものを、あとのア～クより１つ選び、記号で答えなさい。

X　官職の任免については、太政官において貴族たちが話し合って決めていることから、藤原道長の一存だけでは政務を進めているわけではない。

Y　この日記の名前は『御堂関白記』で、この日記名は、藤原道長が平等院鳳凰堂を建立して、「御堂殿」「御堂関白殿」と呼ばれたことに由来する後世の呼称である。

Z　この日記が書かれた頃、現在の大阪府にあったとされる難波津という港を出港する遣唐使船が、淡路国の側を通過していたため、淡路守の官職は他国よりも重要な官職であった。

ア　X－正　Y－正　Z－正　　イ　X－正　Y－正　Z－誤
ウ　X－正　Y－誤　Z－正　　エ　X－正　Y－誤　Z－誤
オ　X－誤　Y－正　Z－正　　カ　X－誤　Y－正　Z－誤
キ　X－誤　Y－誤　Z－正　　ク　X－誤　Y－誤　Z－誤

(2)　すべての政務が終了したとされる「丑の二刻」の時間帯を、以下の資料①・資料②を参考にして考え、解答らんに合うように、答えなさい。なお、現在あなたが解答している社会の解答時間（11時10分～11時40分）は、「午（うま）の刻」にあたる。

資料①



資料②

・午の一刻…11時00分～11時30分
・午の二刻…11時30分～12時00分
・午の三刻…12時00分～12時30分
・午の四刻…12時30分～13時00分

(3)　この日記が書かれた頃、国司は任命された国の支配を一任され、経済的に有利な地位となっていたため、国司の官職を求める貴族たちが多くいました。以下はこの頃国司だった人物の一部です。

赤染時用 （あかぞめのときもち）	大隅守（?～?）など	『栄花物語』の作者　赤染衛門の父
大江雅致 （おおえのまさむね）	越前守（1010～?）など	『和泉式部日記』の作者　和泉式部の父
清原元輔 （きよはらのもとすけ）	肥後守（986～990）など	『枕草子』の作者　清少納言の父

彼らはいずれも、すぐれた文学作品をのこした娘の父であることがわかります。なぜ国司の娘たちはすぐれた文学作品をのこした才能を持っている者が多いのでしょうか、その理由を、問題文と日記の内容をふまえて、以下の文章の空らん［　Ⅰ　］・［　Ⅱ　］に当てはまるように、それぞれ指定の字数で答えなさい。

国司への就任を望んだ貴族たちは、国司の任免権を握る最上位の貴族である［　Ⅰ（2字）　］氏の娘に、自らの妻や娘を女房（にょうぼう）として仕えさせた。

［　Ⅰ　］氏の権力基盤を維持するため、その娘たちは、天皇との間に［　Ⅱ（10字以内）　］が期待された。女房たちは、自らが仕えた娘が天皇と関係を構築できるように働くことが求められたため、文学的才能や教養を持つ者が多く女房として出仕できた。

問4　鎌倉時代、将軍と「御恩」と「奉公」の関係で結ばれた御家人たちにとっては、「奉公」が仕事といえます。これに関連して述べた以下のア～エの中から**誤っているもの**を1つ選び、記号で答えなさい。

ア　将軍が御家人に対して先祖代々の土地の支配を認めることも「御恩」の内容に含まれ、戦時には一族を率いて将軍のもとにかけつけることが「奉公」の内容であった。

イ　御家人は、あくまで将軍と「御恩」と「奉公」の関係で結ばれているため、御家人同士は名目上対等な関係であったが、源頼朝の死後には北条氏が勢力を伸ばしていった。

ウ　元の襲来にも「奉公」としてかけつけた御家人たちであったが、防衛戦のため「御恩」である土地が十分に与えられず、土地をめぐる訴訟が増加したため、御成敗式目が定められた。

エ　「奉公」の際にいち早く武功を上げるため、御家人たちは日ごろから武士の館において笠懸（かさがけ）・流鏑馬（やぶさめ）などの訓練をしていた。

問５　江戸時代の人口の約８割を占めたのは百姓でした。百姓たちは鎌倉･室町時代以来の村に住み、幕府や藩に年貢をおさめるほか、土木工事など諸役と呼ばれる労働を負担していました。これに関連して、あとの問題に答えなさい。

(1)　以下の資料①は、17世紀にある地域に発布された農村法令を要約したもので、資料②は18世紀前半に将軍に提出された政治意見書です。

資料①

17世紀にある地域で発布された農村法令
一、祭礼や仏事などを立派にしてはならない。
一、男女の衣服について。これ以前からの法令で定めてあるように、庄屋は絹･紬(つむぎ)･麻布･木綿を着用せよ。一般の百姓は麻布・木綿を着用することとする。これ以外のぜいたくな衣料は、えりや帯などのところでも用いてはならない。
一、結婚の行事などでも、賀籠（かご）など乗物を用いてはならない。
一、幕領でも、私領でも、本田畑でたばこを栽培しないように申し付ける。
一、馬具などにぜいたくな織物をかけて乗ってはならない。

資料②

18世紀前半に将軍に提出された政治意見書（荻生徂徠『政談』）
昔は農村では特に銭貨が不足し、いっさいの物を銭では買わず、みな米や麦で買っていたことを、私は田舎で見て覚えている。ところが、最近の様子を聞いてみると、元禄のころよりも田舎へ銭が普及し、銭で物を買うようになっている。

問題　たばこのように、自分で消費するのではなく、販売を目的として生産する農作物のことを商品作物といいます。なぜ、資料①の時代ではたばこの栽培が禁じられたのでしょうか。資料②を参考にして以下の文章の空らんに当てはまるように、それぞれ指定の字数で説明しなさい。

たばこのような商品作物の栽培をすると、［　Ⅰ（10字以内）　］ことで、米だけを生産しているときよりも様々なものが手に入るようになる。その結果百姓は商品作物ばかり栽培するようになって、［　Ⅱ（15字以内）　］ことを幕府は恐れたから。

(2)　(1)の資料②が提出された将軍の政策として最も正しいものを、以下のア～エの中から、1つ選び記号で答えなさい。

ア　外国船の度重なる来航に対抗するため、異国船打払令を発布した。
イ　倹約令を出して支出を抑えたうえ、年ごとの収穫高に応じて変えていた年貢率を一定期間固定化した。
ウ　大名が領国と江戸を往復する参勤交代が、武家諸法度に明記され、制度化された。
エ　長崎での貿易を活発化することを求め、キリスト教の布教を解禁し、ヨーロッパ諸国と貿易をした。

問6　明治時代以降は、「労働」という概念が生まれ、浸透していきました。1883年に渋沢栄一らが設立した大阪紡績（ぼうせき）会社の成功によって「企業勃興（きぎょうぼっこう）」と呼ばれる会社設立ブームが起きました。以下の資料を見て、大阪紡績会社が成功をおさめた要因について述べたX・Yの文章の正誤について、あとのア～エの中から最も適切なものを1つ選び、記号で答えなさい。

資料①（大阪紡績会社の写真）



資料②（江戸時代の紡績の様子）



X　大阪紡績会社の設立時は日清戦争の従軍で男手が取られていたため、労働者は女性がほとんどだった。
Y　大阪紡績会社のように機械化された工場で紡績業が営まれる前は、手作業によって各家庭で紡績業が営まれており、工場で生産されることはなかった。

ア　X－正　Y－正　　イ　X－正　Y－誤　　ウ　X－誤　Y－正　　エ　X－誤　Y－誤

問7　日本をはじめとする資本主義の社会では、労働をすればするだけ、賃金を多く受け取ることができ、より多くお金などの財産を蓄えられます。しかしながら、蓄えた財産を自由に使うことを悪とするスローガンが大々的に出されていた時代もありました。以下のAは1939年のポスターで、Bは1940年の写真です。

A



B





問題　なぜこの時代では、蓄えた私有財産を自由に使うことを悪とするスローガンが大々的に出されたのでしょうか、Bの写真の空らんに当てはまる言葉を使って50字以内で説明しなさい。

問8　第二次世界大戦後、「経済の民主化」や「労働組合の結成奨励」など、さまざまな改革が行われました。以下のア～オの第二次世界大戦後の労働に関するできごとを、時代の古いものから順に並び替えたときに、3番目となるものを選び、記号で答えなさい。

ア　少子高齢化が進む中、ひとりひとりが多様で柔軟な働き方を自分で選択できるようにするため、残業時間の上限を法律で規制するなど働き方改革が行われた。

イ　高度経済成長を迎え、都市の労働者が増加し、鉄道は「通勤地獄」と呼ばれる乗車率300%超えの状況を迎えた。

ウ　バブル景気で株価と土地の価格が上がっていく中で、ほとんどの労働者の賃金も上がっていったが、5年ほどで株価と土地の価格が急落すると、賃金の伸びも停滞した。

エ　郵政民営化など「構造改革」を掲げる小泉純一郎内閣によって、非正規雇用（アルバイトなど）の労働者が増えて、格差の拡大という社会問題が深刻化した。

オ　労働基準法が公布され、週40時間労働・1日8時間労働・週1日以上の休日など、労働の最低条件が定められた。

2　以下の文章を読んで、あとの問いに答えなさい。

日本で働く外国人労働者の数が、2023年には230万人を超え、12年連続で過去最多となっています。このような状況下で、①政府は「技能実習制度」に代わる新たな仕組みとして、「育成就労制度」を設けることを決めました。これにともない、技能実習法や出入国管理法などの関連する②法律も改正されました。

現在、外国人労働者の働く現場では、③さまざまな課題も指摘されており、外国人が安心して働くことができる環境をつくることが求められています。外国人労働者も、④基本的人権を持ち、⑤労働者が持つ権利も含めて基本的人権が守られることが社会の公正さにつながるため、重要な課題であると考えられます。

問1　下線部①について、「技能実習制度」には様々な課題があったことをふまえ、「育成就労制度」に改められます。制度を改めた背景について述べた文Ⅰ・Ⅱについて、その正誤の組み合わせとして正しいものを、あとのア～エの中から1つ選び、記号で答えなさい。

Ⅰ：「技能実習制度」はその名称に反し実態として長時間労働などの問題があったため、改善が必要とされた。

Ⅱ：「技能実習制度」は主にアジアの国からの技術者や研究者など高い専門性を持つ人を対象としており、対象者を拡大する必要にせまられた。

ア　Ⅰ－正　Ⅱ－正　　イ　Ⅰ－正　Ⅱ－誤

ウ　Ⅰ－誤　Ⅱ－正　　エ　Ⅰ－誤　Ⅱ－誤

問2　下線部②について、法律の制定について述べた文Ⅰ・Ⅱについて、その正誤の組み合わせとして正しいものを、あとのア～エの中から1つ選び、記号で答えなさい。

Ⅰ：法律案は議員からも内閣からも提出することができ、提出された法律案は最初に本会議で審議される。

Ⅱ：法律案について衆議院で可決されたものが参議院で否決された場合、衆議院で出席議員の3分の2以上の多数で再可決すれば成立する。

ア　Ⅰ－正　Ⅱ－正　　イ　Ⅰ－正　Ⅱ－誤

ウ　Ⅰ－誤　Ⅱ－正　　エ　Ⅰ－誤　Ⅱ－誤

問３　下線部③について、表１・２はそれぞれ外国人労働者と日本全体における労働中に発生した事故の死傷者数の割合を種類別に示したものです。表１・２を読み取った上での先生と生徒Ａ・Ｂの会話文をふまえ、あとの問題に答えなさい。

【表１】外国人労働者

事故の種類	割合（%）
はさまれ、巻き込まれ	24.0
転倒	13.9
動作の反動、無理な動作	12.0
切れ、こすれ	11.7
墜落・転落	9.2
その他	29.2

厚生労働省「令和５年外国人労働者の労働災害発生状況」より作成

【表２】日本全体

事故の種類	割合（%）
転倒	26.6
動作の反動、無理な動作	16.3
墜落・転落	15.3
はさまれ、巻き込まれ	10.3
切れ、こすれ	5.6
その他	25.9

厚生労働省「令和５年労働災害発生状況の分析等」より作成

先生　：「表１と表２を比べてみよう。どんな違いに気づくかな？」

生徒Ａ：「外国人労働者は『はさまれ、巻き込まれ』が24.0%で、日本全体の10.3%よりも高い点が気になります。」

生徒Ｂ：「逆に、日本全体では『転倒』が一番高くなっています。」

先生　：「なるほど。外国人労働者の方が、機械にかかわる事故にあっているように読み取れますね。どのようにしたら、外国人労働者が労働中にそのような事故にあいにくくなるでしょうか？」

問題　下線部の問いに、下の図１・２をふまえて30字以内で答えなさい。

【図１】



【図２】



厚生労働省「外国人労働者の労働災害防止のための表示をご活用ください。」より作成

問４　下線部④について、日本国内に住む外国籍の人が持つ権利としてあてはまるものを、以下のア～オの中から**すべて**選び、記号で答えなさい。

ア　衆議院議員選挙・参議院議員選挙に立候補することができる。
イ　公立の小中学校に無償で通うことができる。
ウ　日本で裁判を受けることができる。
エ　日本人労働者と同じ額の最低賃金が適用される。
オ　日本人に比べて低い消費税率が適用される。

問５　下線部⑤について、外国人労働者の権利が守られない場合があることも深刻な課題です。以下の資料を読み、空らん【　X　】に入る語句を**日本国憲法で使われている表現で**漢字４字で答えなさい。

〈資料〉

ある大学で雇用されている外国人教員が労働組合に加入して、大学に【　X　】を申し入れたという事案において、組合側は英語の使用を求めましたが、大学側は日本語の使用を求め、通訳も組合側で手配するよう求めました。実際の【　X　】では、組合側が英語で話し、大学側が日本語で話したため、円滑な意思疎通ができず、【　X　】は打ち切りとなり、自治体の労働委員会が不当労働行為（労働者の持つ権利をないがしろにする行為）として認定しました。

問６　外国人労働者の受け入れ数は増えています。【表３】は一都三県（東京都・埼玉県・千葉県・神奈川県）における各産業に占める外国人労働者の割合です。東京都にあてはまるものを、ア～エの中から１つ選び、記号で答えなさい。

【表３】　（単位：％）

	建設業	製造業	情報通信業	宿泊業・飲食サービス業	教育・学習支援業	医療・福祉
ア	13.3	30.6	1.1	6.9	2.0	5.4
イ	12.7	22.5	3.8	13.1	2.5	6.2
ウ	12.3	23.0	0.8	8.3	1.9	7.4
エ	4.6	5.8	12.4	20.1	4.6	2.5

厚生労働省「『外国人雇用状況』の届出状況まとめ（令和６年10月末時点）」より作成

問７　諸外国における移民について述べた文Ⅰ・Ⅱについて、その正誤の組み合わせとして正しいものを、あとのア～エの中から１つ選び、記号で答えなさい。

Ⅰ：EU（ヨーロッパ連合）加盟国では移民を積極的に受け入れ、共生社会が実現し、選挙において移民問題が争点になることはない。

Ⅱ：アメリカでは、トランプ大統領が選挙時から不法移民の大規模強制送還を公約にかかげているが、反発からデモも起きている。

ア　Ⅰ－正　Ⅱ－正　　イ　Ⅰ－正　Ⅱ－誤

ウ　Ⅰ－誤　Ⅱ－正　　エ　Ⅰ－誤　Ⅱ－誤

3　日本の料理に関して、あとの問題に答えなさい。

問1　次の２つの表は、2024年の小麦とそばのいずれかの生産上位10位までの都道府県を示したものです。表中の（い）～（お）は、愛知県、岩手県、長野県、福岡県のいずれかです。

Aの生産

1	（あ）
2	（い）
3	佐賀県
4	（う）
5	群馬県
6	埼玉県
7	滋賀県
8	三重県
9	茨城県
10	熊本県

Bの生産

1	（あ）
2	（え）
3	茨城県
4	福井県
5	山形県
6	福島県
7	秋田県
8	栃木県
9	（お）
10	青森県

「作物統計調査」より作成

(1)　次の説明文は、AとBのいずれかを原料として生産する麺を説明したものです。説明文の麺はAとBのどちらを原料として作られたものか１つ選び、記号で答えなさい。また、麺の名称を**ひらがな**で答えなさい。

【説明文】

粉に水と塩を加えてこねたものに、植物油を塗って細く引き伸ばし、天日干しにした極細の麺。三輪や播州、小豆島などの名がつく製品がある。

(2)　表中の（あ）にあてはまる都道府県を答えなさい。

(3)　以下のア～エは、表中の（い）～（お）の県を代表する麺料理にまつわる説明です。（お）にあてはまるものを、ア～エの中から１つ選び、記号で答えなさい。

ア



十返舎一九の『東海道中膝栗毛』でも紹介される。

イ



「平民宰相」として知られる原敬が好んだとも言われる。

ウ



細く切られた麺の発祥地が、県内の中山道本山宿とする説がある。

エ



やわらかい麺が、大陸との玄関口となるまちの商人たちに食されてきた。

問2　江戸の人々は、次の図中の黒い場所（■）に出店された屋台で、すし、てんぷら、うなぎ、そばなどを楽しみました。この場所は1657年に江戸で起こった災害を機に整備された空間です。整備された目的を15字以内で説明しなさい。

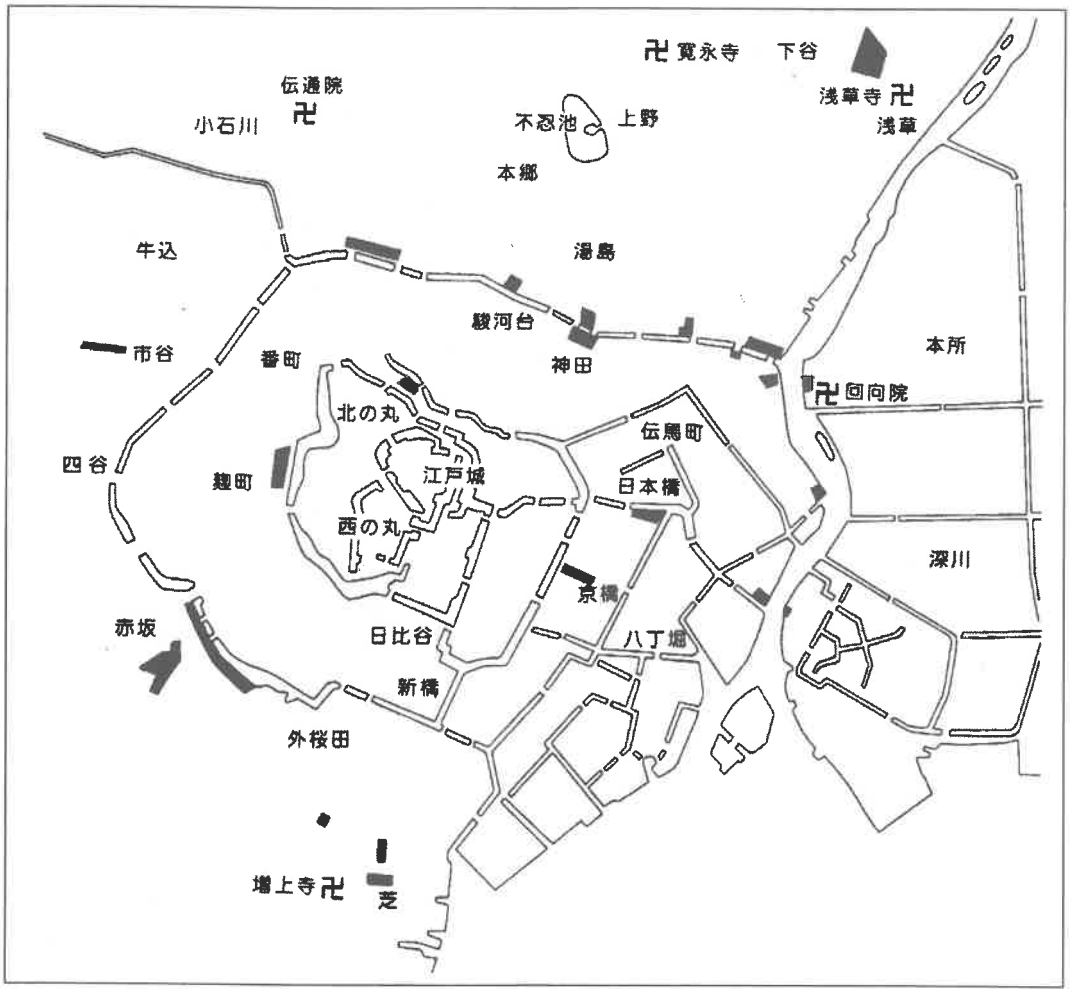

千葉正樹氏の論文より引用・改変

問３　江戸時代のてんぷらについて、設問に答えなさい。

(1)　江戸時代のてんぷら油の原料としてもっともふさわしいものを、以下のア～エの中から１つ選び、記号で答えなさい。

ア



イ



ウ



エ



(2)　てんぷらの素材は東京湾でとれた魚介類でした。東京湾でとれた素材として**あてはまらないもの**を、以下のア～エの中から１つ選び、記号で答えなさい（それぞれの図の縮尺は同一ではない）。

ア



イ



ウ



エ



問４　江戸時代、「初物を食べると寿命が七十五日延びる」と言われ、高値で取引されました。次の文章は、初物の野菜を提供するために江戸の砂村（現在の江東区）で行われたことについて説明したものです。文章中の空らんに適する語句を答えなさい。

砂村では、むしろや障子紙などで作物を覆い、現在の［　A　］のような機能を果たす環境を作り出しました。また、肥料としてまいた生ごみからは、［　B　］も発生しました。このような工夫により、［　C　］栽培を行い、江戸のまちに野菜を届けていました。

問題は以上です。

260130

↓ここにシールを貼ってください↓

令和８年度　**社会解答用紙**　渋谷教育学園渋谷中学校

受験番号							番	氏名	

1

問１		問２		
問３	(1)		(2)	時　分～　時　分
	(3)	Ⅰ		Ⅱ
問４				
問５	(1)	Ⅰ		
		Ⅱ		
	(2)			
問６				
問７				
問８				

2

問１		問２	
問３			
問４		問５	
問６		問７	

3

問１	(1)	原料		名称	
	(2)				
	(3)				
問２					
問３	(1)		(2)		
問４	A			B	
	C				