社会　令和５年度　渋谷教育学園渋谷中学校入学試験問題

注
・答えはすべて解答らんにおさまるように記入して下さい。
・字数の指定がある問題については、次の①と②に注意して下さい。
①句点（「。」）や読点（「、」）は、それぞれ１字として数えます。
②算用数字を用いる場合は、数字のみ１マスに２字書くことができます。
例１）「２０２３年」と書く場合　20 23 年
例２）「３６５日」と書く場合　36 5 日　または　3 65 日

1　地図１中のＡ～Ｄの地域に関するそれぞれの問に答えなさい。

地図１

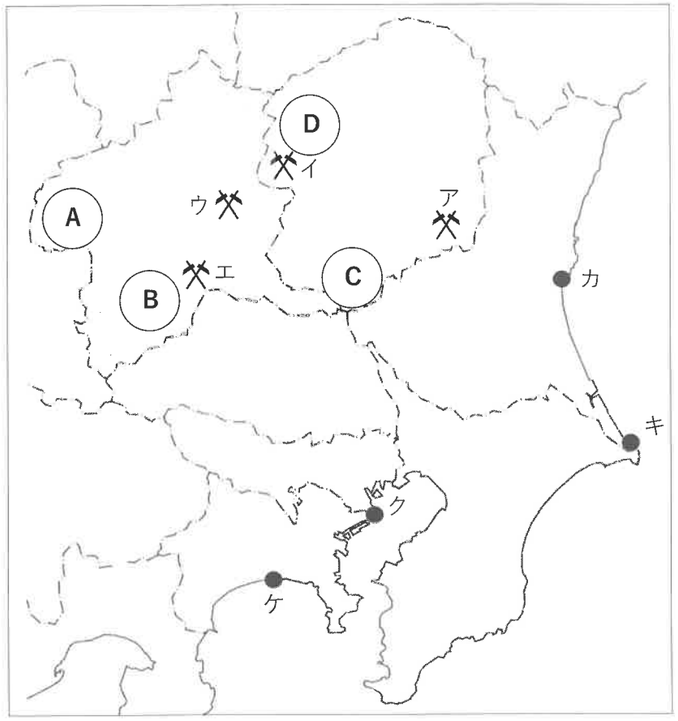

問１　地図１中のAの地域に関する設問に答えなさい。

(1)　1783年の大噴火で、天明の大ききんを引き起こした、Ａの地域の南側の県境に位置する山の名称を答えなさい。

(2)　(1)の山の1783年の噴火によって、その後Ａの地域を流れる吾妻川およびその下流地域では水害が起きやすくなった。その理由を説明しなさい。

(3)　Aの地域にある村で、夏から秋にかけて出荷量が全国１位になる農作物を、次のア～エのうちから一つ選び、記号で答えなさい。

ア.



イ.



ウ.



エ.



問２　地図１中のBの地域に関する次の地図２をみて、設問に答えなさい。

地図２

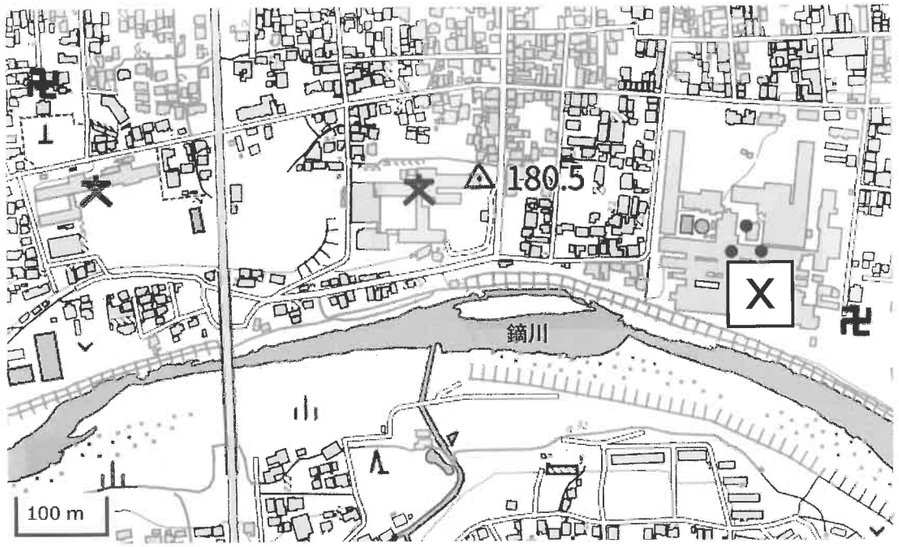

地理院タイル（標高タイル）を加工して作成

(1)　地図２中の［X］は世界遺産に登録されている施設であり、かつては糸が生産されていた。［X］で生産されていた糸の原料の分類にあてはまるものを、次のア～ウのうちから一つ選び、記号で答えなさい。

ア．植物性繊維　　イ．動物性繊維　　ウ．化学繊維

(2)　［X］では、大量の水が必要だった。［X］のすぐ南側には鏑川が流れているが、［X］の建設計画段階では、鏑川からの取水は考えられていなかった。その理由を述べた次の文章中の空らんにあてはまる適切な語句を答えなさい。

［X］と鏑川との間には（　　）があったため。

問３　地図１中のCの地域に関する次の地図３をみて、設問に答えなさい。

地図３

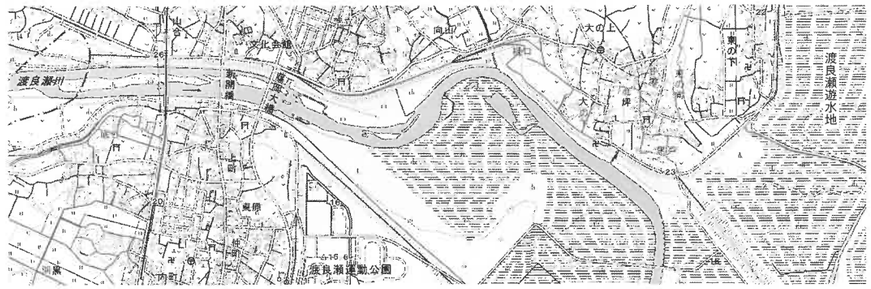

国土地理院　電子地形図25000より一部改変

(1)　地図３中の「渡良瀬遊水地」が造成された背景には、かつて渡良瀬川の上流の鉱山から流れ出た鉱毒が関係している。この鉱毒をもたらした鉱山の位置を地図１中のア～エのうちから一つ選び、記号で答えなさい。

(2)　(1)の鉱山から主に産出される鉱産資源が含まれていないものを、次のア～オのうちから一つ選び、記号で答えなさい。

ア．１円玉　　イ．５円玉　　ウ．10円玉　　エ．100円玉　　オ．500円玉

問４　地図１中のDの地域に関する次の地図４をみて、設問に答えなさい。

地図４

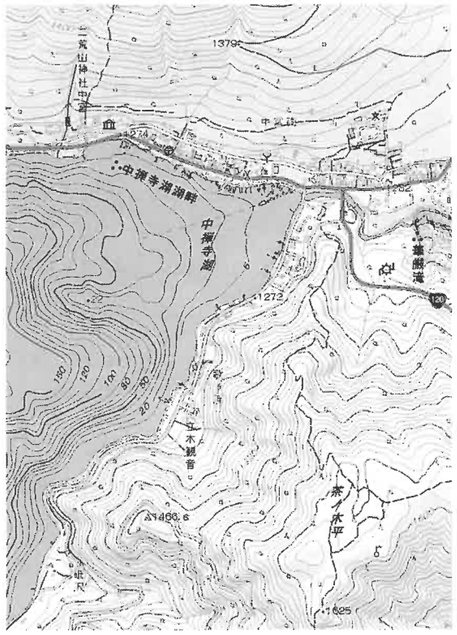

国土地理院　電子地形図25000より

(1)　イギリスの外交官アーネスト・サトウは、1884年に発刊された旅行案内書の中で中禅寺を避暑地として紹介している。その理由を地図４より読み取り、答えなさい。

(2)　中禅寺湖から流れ出る大谷川周辺には、世界遺産に登録されている地区がある。この世界遺産の登録名称を、次の空らんに当てはまるように漢字二字で答えなさい。

（　　）の社寺

問５　地図１中のＡ～Ｄの地域に流れる吾妻川、鏑川、渡良瀬川、大谷川は、１つの河川に合流する。４河川が合流した河川の名称と、河川が合流して海へ流れ出る地点の組み合わせとして正しいものを、次の①～④のうちから１つ選び、記号で答えなさい。ただし、河口の位置（地点）は地図１中のカ～ケのいずれかである。

①名称―利根川　地点―カ　　②名称―利根川　地点―キ
③名称―多摩川　地点―ク　　④名称―多摩川　地点―ケ

問題は次のページに続きます。

2　広告や宣伝は、看板・引札（チラシ）・新聞広告・ポスター・交通広告・映像などといったように、時代によって大きくその形を変えてきた。日本における広告・宣伝の発展に関する次のそれぞれの問に答えなさい。

問１　広告・宣伝は商業と密接に結びついているが、中国の歴史書「魏志倭人伝」には、３世紀の日本列島に関する記述の中に市（いち）が存在していると書かれている。このことについて、次の設問に答えなさい。

(1)　この時期の日本について説明した次の文章を正しく完成させるように、空らんＸには当時の日本を示す遺跡や古墳を、空らんＹには当時のようすの説明をそれぞれ一つずつ選び、記号で答えなさい。

［　Ｘ　］などに関する調査によって、
この頃の日本では［　Ｙ　］ことが分かっている。

＜空らんＸに当てはまる遺跡＞

ア．東京都大森貝塚
イ．青森県三内丸山遺跡
ウ．大阪府大仙陵古墳
エ．奈良県纒向遺跡

＜空らんＹに当てはまる説明＞

オ．人びとが竪穴住居の巨大集落に住み、狩猟・採取・栽培による生活をおくっていた
カ．指導者によってうらないを用いた政治が行われ、現在の日本列島の一部の地域がおさめられていた
キ．指導者の権力が全国的に広がりを見せ、特徴のある大きな墓が各地につくられるようになった
ク．西日本に稲作が伝わりはじめ、人びとが木製のくわや石包丁などを使って農耕をはじめた

(2)　当時、中国の歴史書に書かれた日本の市がどのようなものだったのかは明らかになっていないが、おそらくものの売買といった形ではなく、物々交換という形のものであったと考えられる。

物々交換は旧石器時代から行われていたが、原産地から遠く離れた場所からも発掘されており、交易を示す証拠とされている以下の石器の原料を、漢字で答えなさい。



「野尻湖ナウマンゾウ博物館」ホームページより

問２　宣伝の最初の形ともいえる「看板」の出現は、律令制のもとで政府が運営した市にまでさかのぼる。はじめて政府によって市が運営されたのは、日本で最初の本格的な都城とされる藤原京の時代だと言われている。このことについて、次の設問に答えなさい。

(1)　藤原京に遷都したときの天皇を答えなさい。

(2)　次のⅠ～Ⅲは、藤原京が完成するに至るまでに起きたできごとである。これらのできごとを古いものから時代順に正しく並べたものを、次のア～カのうちから一つ選び、記号で答えなさい。

Ⅰ　中大兄皇子らが蘇我氏をたおし、天皇を中心とした国づくりの改革をはじめた。
Ⅱ　仏教の影響が大きくなり、現存する世界最古の木造建築物とされる法隆寺がつくられた。
Ⅲ　中国では唐が建国され、長安を都とする本格的な律令国家体制が形成された。

ア．Ⅰ→Ⅱ→Ⅲ　　イ．Ⅰ→Ⅲ→Ⅱ　　ウ．Ⅱ→Ⅰ→Ⅲ
エ．Ⅱ→Ⅲ→Ⅰ　　オ．Ⅲ→Ⅰ→Ⅱ　　カ．Ⅲ→Ⅱ→Ⅰ

問3　律令などの法律では、奈良時代から市で看板を立てることが義務付けられていたにも関わらず、鎌倉時代頃まで日本ではその経済発展に比べて看板は多用されなかったことがわかっている。この時期について、次の設問に答えなさい。

(1)　看板が多用されなかった理由としては、中世において一般的であった商売の形式が関連していると考えられている。鎌倉時代の次の資料を見てわかることをもとに、当時看板が多用されなかった理由を説明した、下の文章の空らんを埋めなさい。



国会図書館デジタルコレクションより　※出題の都合上書籍名は省略

当時の店は商品を売る際に［　　］という方法をとっていたため、何を売っているのかを宣伝する必要がなかったから。

(2)　鎌倉時代についての説明とその資料の組み合わせとしてふさわしいものを、次のア～エのうちから一つ選び、記号で答えなさい。ふさわしいものがない場合は、オと答えなさい。

ア.　上皇の近臣であった武士たちの戦乱となり、勝者は武家の棟梁を独占して地位を高めた。



イ.　キリスト教の布教活動のため多くのヨーロッパ人が渡来し、貿易が盛んにおこなわれた。



ウ.　戦乱によって中止されていた京都の伝統的な祭が、町人たちの協力により復興された。



エ.　中国に渡り、技術を学んだ画家が帰国後、日本的な水墨画様式をつくりあげた。



問4　江戸時代には看板も多くつくられるようになり、特に薬種商（薬を売る商人たち）が華々しく競い合った。次に示す看板と江戸時代の看板の歴史について説明した下の文章を読み、それぞれの設問に答えなさい。

A　　B



財団法人吉田秀雄記念事業財団『広告は語る　アド・ミュージアム東京　収蔵作品集』（2005年）より

江戸時代には、薬売りたちが多くのもうけを得るための競争を繰り広げていた。薬は、それまで主に琉球・朝鮮・中国などから輸入していたが、Aの看板を見てみると、アルファベットが書かれていて、西洋の薬も入ってきていたことがわかる。江戸時代、薬は特に、日本が医学などの分野で大いに参考にしていた［　　］から輸入され、重宝されていたようだ。

Bの看板には金箔文字が使われており、豪華な作りとなっている。①1657年に起きた火事の影響で江戸のまちに大きな被害が出たあと、看板はより大きく、豪華に、目立つものが競ってつくられるようになった。しかし、財政不安におちいっていた幕府は豪華な看板を規制することになり、ついに②1682年には禁令が出され、商家の看板に金箔や銀箔、蒔絵、めっきの金物などを使用してはならないということになった。

(1)　文章中の空らんに適切な国名を答えなさい。

(2)　文章中の下線部①について、この時期の元号としてふさわしいものを、次のア～エのうちから一つ選び、記号で答えなさい。

ア．安政　　イ．享保　　ウ．宝永　　エ．明暦

(3)　文章中の下線部②について、この時期のできごととして最もふさわしいものを、次のア～エのうちから一つ選び、記号で答えなさい。

ア．民衆に向けての政策の一環として、生き物を大切にすることが命じられた。
イ．朱子学者が政治に登用され、貿易の制限などが行われた。
ウ．きびしい年貢の取り立てに対して、九州地方のキリシタンらが大規模な一揆をおこした。
エ．きびしく倹約が命じられる一方で、大名の参勤交代が緩和された。

問題は次のページに続きます。

問５　明治時代に入ると、煙草（たばこ）の宣伝合戦が繰り広げられた。外国からの舶来品と、日本の国産品を売る２つの大きな会社が、利益を求めて争っていたようである。







左・中：『広告は語る』（2005年）より

右：谷峯藏『日本屋外広告史』岩崎美術社（1989年）より

しかし、この２つの会社による煙草の宣伝合戦は唐突に終わりを迎えることとなった。次の〈煙草の販売に関する歴史〉の表を参考にしながら、〈煙草の宣伝合戦が終了した理由〉の文章中の空らん(1)～(3)に適切な語句を答えなさい。ただし、同じ番号の空らんには同じ語句が入る。

＜煙草の販売に関する歴史＞

明治９年	煙草税則が決められ、煙草の販売には営業税に加えて、各商品に貼られた印紙からも税金が徴収されるようになった。
明治31年	財政の不足をおぎなうため、「葉煙草 (1)(漢字二字) 法」が施行され、煙草の原料である葉タバコを国が買い上げることになった。
明治37年	「煙草 (1)(漢字二字) 法」が施行され、煙草の製造から販売まですべて国が行うことになった。

＜煙草の宣伝合戦が終了した理由＞

財政不足をおぎなうために政府は煙草にかける税金を増やしていき、ついには (2)(漢字四字) のための (3)(漢字二字) 費をねん出するべく、政府が煙草の製造から販売にまで (1)(漢字二字) 制を取り入れ、民間の会社が関与できなくなってしまったから。

問題は次のページに続きます。

問６　大正時代・昭和時代に入ると、新聞広告やポスターなどあらゆる形での宣伝が多く行われるようになったが、それらがつくられる目的は商品の宣伝だけにとどまらなかった。

次に示すのは、1923（大正12）年に新聞に出された髙島屋呉服店の広告と、同年のある日の新聞の見出しである。広告を出した髙島屋呉服店は、どのような役割を担おうとしていたのか。資料を参考に、当時の社会の状況を考えて、80字以内で説明しなさい。

<1923年当時の髙島屋呉服店の広告>



<左の広告を現代の字になおしたもの>

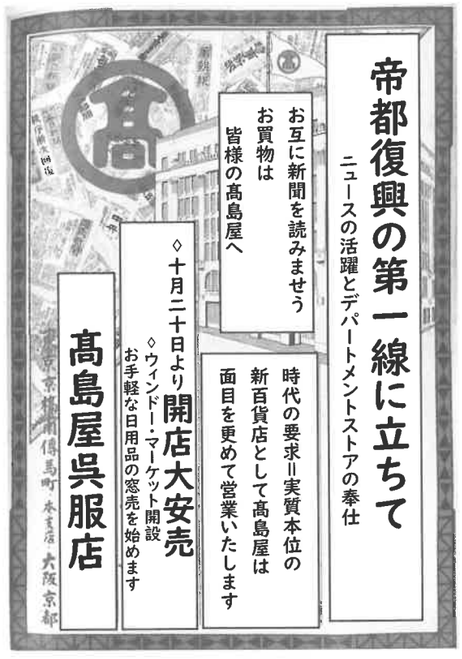

『広告は語る』（2005年）より

<大阪朝日新聞の見出しとそれを現代の字になおしたもの>

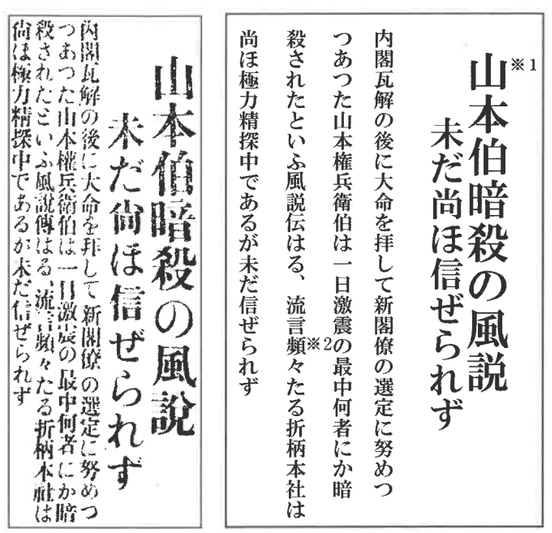

（９月２日の大阪朝日新聞）



（９月５日の大阪朝日新聞）

※１「山本伯」…９月２日に内閣総理大臣になった山本権兵衛のことを指す。

※２「頻々たる」…何度も繰り返されるということ。

3　以下の文章を読んで、次のそれぞれの問に答えなさい。

新型コロナウイルスは人々の働き方に大きな影響を与えた。中でも大きなものに、①テレワークという情報通信技術を活用した、②場所などにとらわれない柔軟な働き方の推進がある。

日本のテレワークは、1990年頃に都心の高い（　X　）を避けて郊外に別のオフィスを構えたことに始まるとされる。しかし、バブル崩壊で（　X　）が下がり、それらのオフィスの多くは閉鎖され、テレワークは定着しなかった。その後、【資料１】にあるように、（　Y　）大震災の被災経験や計画停電の教訓などから徐々にテレワークへの注目が高まっていった。そして、新型コロナウイルスの流行により外出制限が強化される中で、多くの人がテレワークを経験した。

ただし企業のテレワーク導入は大企業が中心であり、しかも③業種によりかなりのばらつきがある。政府が進める④「働き方改革」はテレワークの導入も含んでいるが、その実現までの道のりはまだ遠いと言わざるをえない。テレワークにかかる家庭の電気料金増加に加えて、⑤物価上昇による生活苦が報道される中、よりよい働き方の実現に向けた取り組みが今後も求められている。

【資料１】企業のテレワーク導入率（単位：％）

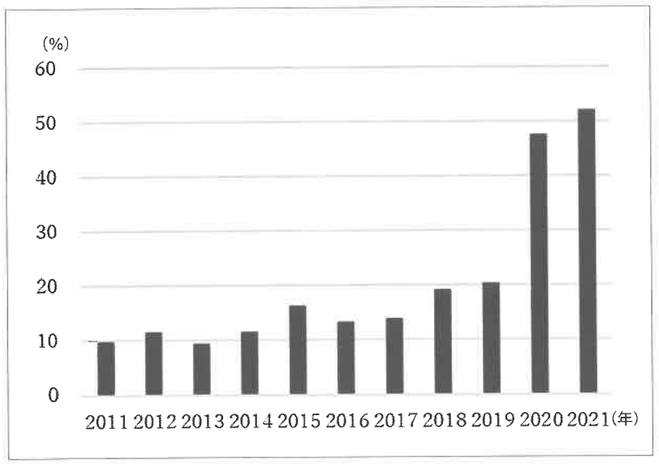

総務省「通信利用動向調査」より作成

問１　上の文中の空らん（　X　）・（　Y　）にあてはまる語句を答えなさい。
ただし、（　X　）は漢字二字、（　Y　）は漢字三字で答えること。

問２　下線部①について、テレワークが進むことで予想される社会の変化について説明した次の文章を読み、空らん（　①　）・（　②　）にあてはまる語句を答えなさい。ただし、（　①　）・（　②　）ともに漢字二字で答えること。

生活費の安い（　①　）で暮らす人が増え、電車や自動車などで（　②　）する人が少なくなることが予想されるが、仕事と日常生活の境目がなくなる可能性がある。

問３　下線部②について、テレワークは、仕事の評価の方法を大きく変える可能性がある。それについて説明した次の文章を読み、空らん（　A　）・（　B　）にあてはまる語句を答えなさい。ただし、（　A　）・（　B　）ともに漢字二字で答えること。

従来の仕事の評価は、定時を過ぎた後の残業代など、（　A　）に基づいて計算される要素が大きかった。しかしテレワークで上司が部下の働きぶりを直接確認できない状況になると、仕事の途中経過ではなく（　B　）で評価する要素を増やすようになり、（　B　）を出すために、より仕事に（　A　）がかかるようになる可能性がある。

問４　下線部③について、テレワークの実施率について説明した以下の文章を読み、【資料２】～【資料４】を参考に、空らん（　１　）～（　４　）にあてはまる語句の組み合わせとしてふさわしいものを、ア～エのうちから一つ選び、記号で答えなさい。

テレワークが難しい業種の（　１　）などが多い（　２　）駅では、通勤客の減少は抑えられた。一方、テレワークしやすい業種の（　３　）などが多い（　４　）駅では、通勤客が大きく減少した。

【資料２】2020年１月を基準とする、朝通勤時間帯（７時～10時）の利用者減少率

	池袋駅	新橋駅
2021年１月	27%減	50%減
2021年７月	16%減	42%減

「JR東日本ニュース」（2021年11月４日）より一部改変

【資料３】業種別・テレワーク実施率（2020年11月の調査）（単位：%）

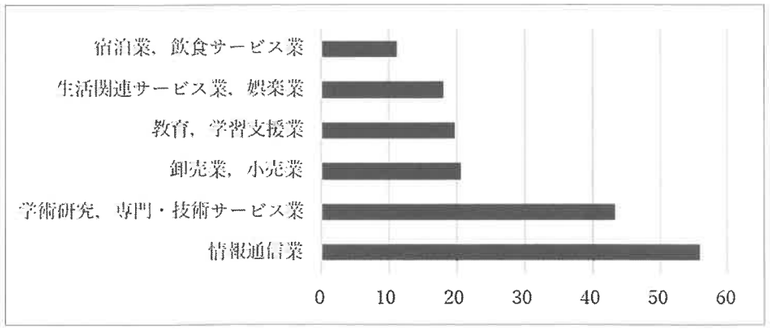

パーソル総合研究所「第四回・新型コロナウイルス対策によるテレワークへの影響に関する緊急調査」より一部改変

【資料４】山手線主要駅のタイプ適合度

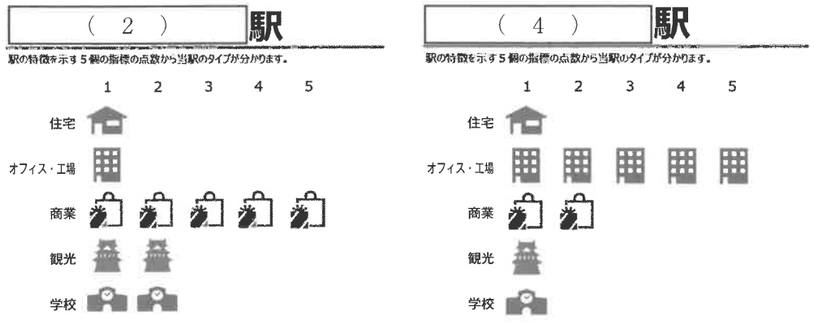

「JR東日本ニュース」（2021年11月４日）より一部改変

※タイプ適合度とは、Suicaの利用傾向（評価指標）のみで判定される駅のタイプで、点数はタイプの規模ではなく特徴の強さを示す。

	（　1　）	（　2　）	（　3　）	（　4　）
ア	宿泊業、飲食サービス業	池袋	情報通信業	新橋
イ	宿泊業、飲食サービス業	新橋	情報通信業	池袋
ウ	情報通信業	池袋	宿泊業、飲食サービス業	新橋
エ	情報通信業	新橋	宿泊業、飲食サービス業	池袋

問題は次のページに続きます。

問５　下線部④に関連した以下の文章の空らんに当てはまる同じ語句を答えなさい。

仕事の内容・責任などに応じて、雇われ方にかかわらず同じ賃金を支払うという同一労働同一賃金の導入が、男女間の格差解消のために必要であると指摘されている。
その理由は、同じ仕事をしても［　　］の人の賃金は安く、特に女性はパートなどの［　　］で働いている割合が男性より高いためである。

問６　下線部⑤について、昨年（2022年）の物価上昇の原因について説明した文章Ｘ・Ｙの正誤の組み合わせとしてふさわしいものを、ア～エのうちから一つ選び、記号で答えなさい。

Ｘ　日本円の価値がドルなどの外国通貨に対して高くなったため、輸入価格も上昇した。
Ｙ　ロシアのウクライナ侵攻により、資源・燃料の国際価格が上昇した。

ア．Ｘ―正　Ｙ―正　　イ．Ｘ―正　Ｙ―誤
ウ．Ｘ―誤　Ｙ―正　　エ．Ｘ―誤　Ｙ―誤

問題は以上です。

↓ここにシールを貼ってください↓

230130

令和５年度　社会解答用紙　渋谷教育学園渋谷中学校

受験番号						番	氏名	

1

問１	(1)			
	(2)			
	(3)			
問２	(1)		(2)	
問３	(1)		(2)	
問４	(1)			
	(2)			
問５				

2

問１	(1)	X		Y		(2)	
問２	(1)			(2)			
問３	(1)						
	(2)						
問４	(1)			(2)		(3)	
問５	(1)		(2)			(3)	
問６							

3

問１	X		Y								
問２	①		②		問３	A		B		問４	
問５											
問６											