社会　令和４年度　渋谷教育学園渋谷中学校入学試験問題

注
・答えはすべて解答らんにおさまるように記入して下さい。
・字数の指定がある問題については、次の①と②に注意して下さい。
①句点（「。」）や読点（「、」）は、それぞれ１字として数えます。
②算用数字を用いる場合は、数字のみ１マスに２字書くことができます。
例１）「２０２２年」と書く場合　20 22 年
例２）「３６５日」と書く場合　36 5 日　または　3 65 日

1　今年（2022年）、日本で最初の鉄道が新橋～横浜間に開業して150周年をむかえます。この150年間に、鉄道の路線網は全国各地へと広がり、現在では通勤・通学や長距離の移動に欠かせないものになっています。鉄道を中心にして、日本の人と物資の移動について考えてみましょう。

問１　鉄道が開業する前は、人の移動は基本的に徒歩が中心でした。次のＡ～Ｃは、江戸時代の五街道のうち、奥州街道、東海道、中山道の断面図です。Ａ～Ｃと街道の組み合わせとして適当なものを、下のア～カの中から１つ選び、記号で答えなさい。

A



B

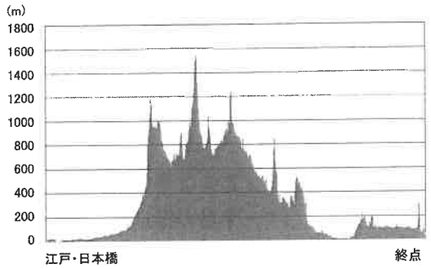

C



ア．Ａ：奥州街道　Ｂ：東海道　Ｃ：中山道
イ．Ａ：奥州街道　Ｂ：中山道　Ｃ：東海道
ウ．Ａ：東海道　Ｂ：奥州街道　Ｃ：中山道
エ．Ａ：東海道　Ｂ：中山道　Ｃ：奥州街道
オ．Ａ：中山道　Ｂ：奥州街道　Ｃ：東海道
カ．Ａ：中山道　Ｂ：東海道　Ｃ：奥州街道

問２　鉄道のルート選びには、その時代の土木技術の水準が影響しています。次の地図は、群馬県と新潟県の県境付近の鉄道のルートを示したものです。地図中の鉄道のルートＡ～Ｃを、建設された時期の古い順に並べたものを、下のア～カの中から１つ選び、記号で答えなさい。

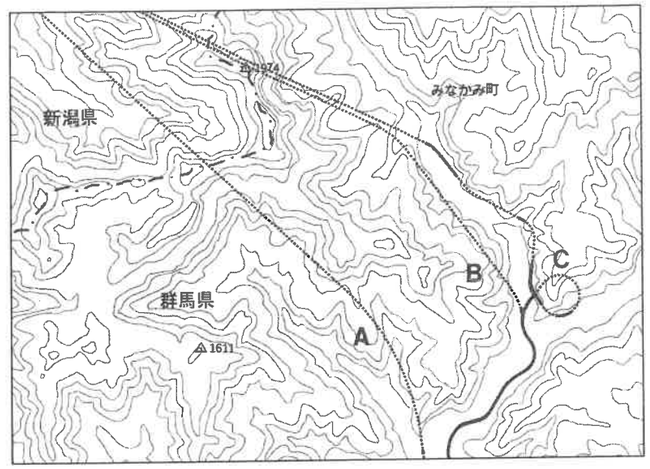

＊点線部はトンネルを示している。　地理院地図より作成

ア．Ａ → Ｂ → Ｃ　イ．Ａ → Ｃ → Ｂ　ウ．Ｂ → Ａ → Ｃ
エ．Ｂ → Ｃ → Ａ　オ．Ｃ → Ａ → Ｂ　カ．Ｃ → Ｂ → Ａ

問３　通勤・通学に利用する交通手段は、都市の規模や主要産業によっても異なります。次の図は、いくつかの都市における代表交通手段を示したもので、図中のア～エは京都市、東京23区、名古屋市、新潟市のいずれかです（データは2010年）。名古屋市に当てはまるものを、ア～エの中から１つ選び、記号で答えなさい。

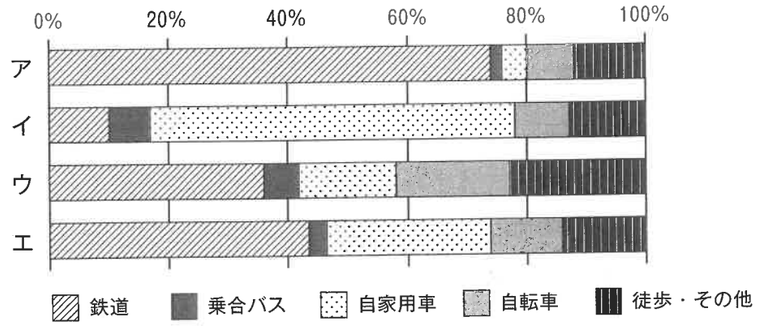

＊「鉄道」と他の交通手段を乗り継ぐ場合は「鉄道」に含む
＊３種類以上の交通手段を利用する場合は「徒歩・その他」に含む
平成22年国勢調査より作成

問４　鉄道網の整備と技術の発達により、移動にかかる所要時間は次第に短くなりました。次の図は、実際の空間距離ではなく、主にJR（1985年までは国鉄）による所要時間で表した「時間距離」によって描かれた地図で、年代別に示したものです。これについて以下の設問に答えなさい。

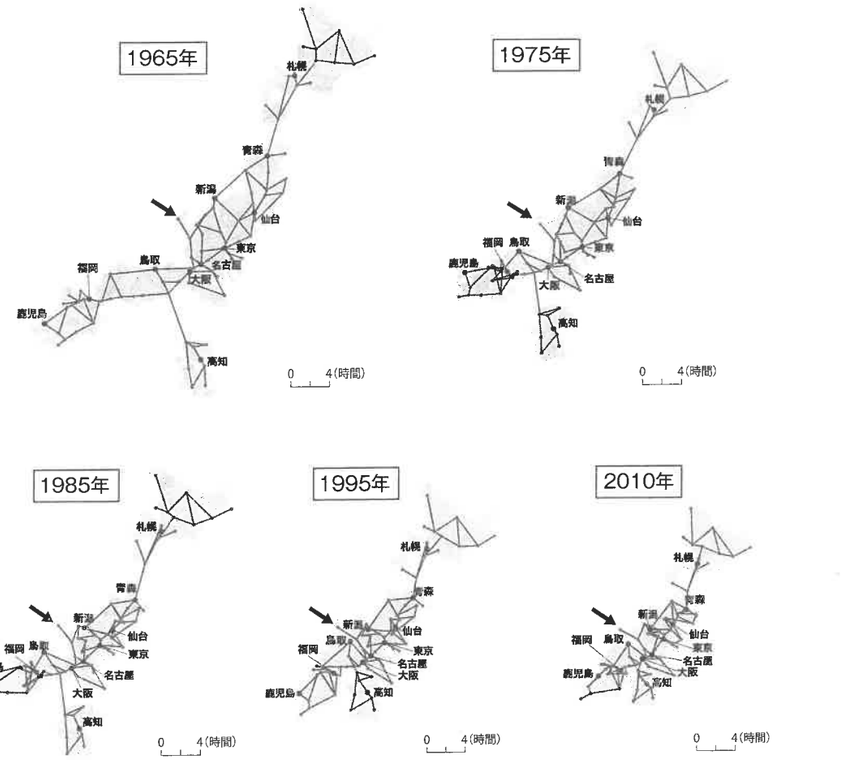

日本経済新聞ウェブサイトより（一部改変）

(1)　図から読み取れることの背景について説明した文として適当でないものを、次のア～エの中から１つ選び、記号で答えなさい。

ア．1965年から1975年の間に、鉄道の高速化によって大阪・福岡間の時間距離が短縮した。
イ．1975年から1985年の間に、海底トンネル開通によって青森・札幌間の時間距離が短縮した。
ウ．1985年から1995年の間に、橋が建設されて大阪・高知間の時間距離が短縮した。
エ．1995年から2010年の間に、鉄道の高速化によって仙台・青森間の時間距離が短縮した。

(2)　1965年から2010年の間に、図中に矢印で示された半島では、時間距離はあまり短縮しませんでした。この半島の名前を答えなさい。

問５　交通網の整備は、人の移動手段にも影響を与えます。次の図１は京阪神地区と熊本県の間のJR線と航空機の旅客数、JR線利用者の占める割合の推移を示したものです。図１を見ると、大きな変化が生じていることがわかります。図２を参考に、その変化の内容と要因を説明しなさい。

図１

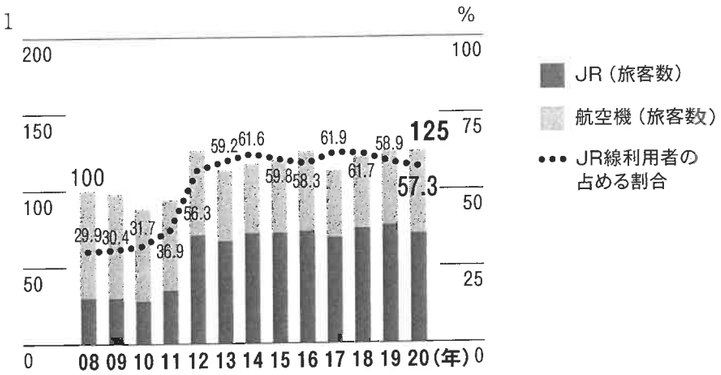

＊旅客数は2008年を100とした数値
（ここでの旅客数はJR線と航空機の旅客数を足したものです）
JR西日本ファクトシート（2021年版）より作成

図２

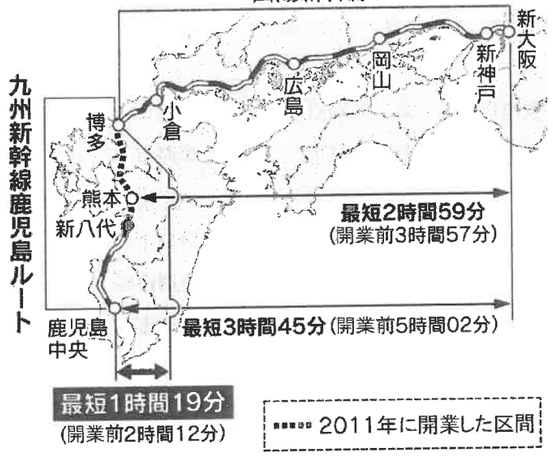

日本経済新聞ウェブサイト2011年２月26日付より
（一部改変）

問6　東海道・山陽新幹線沿いの都市や都府県について、設問に答えなさい。

(1)　次の雨温図Ａ～Ｃは、右の地図中の静岡市、姫路市、米原市のいずれかのものです。Ａ～Ｃと都市名の組み合わせとして適当なものを、下のア～カの中から１つ選び、記号で答えなさい。

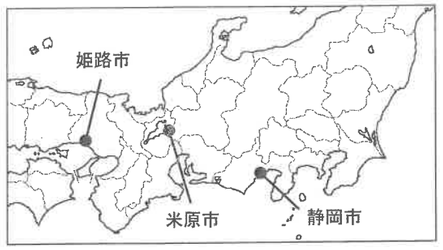

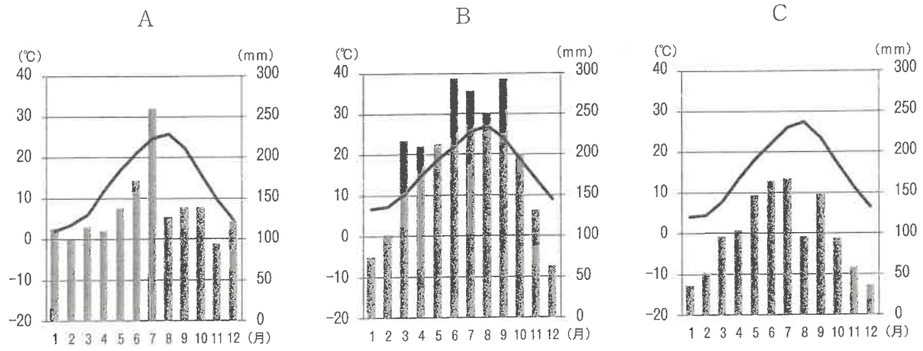

気象庁資料より作成

ア．Ａ：静岡市　Ｂ：姫路市　Ｃ：米原市
イ．Ａ：静岡市　Ｂ：米原市　Ｃ：姫路市
ウ．Ａ：姫路市　Ｂ：静岡市　Ｃ：米原市
エ．Ａ：姫路市　Ｂ：米原市　Ｃ：静岡市
オ．Ａ：米原市　Ｂ：静岡市　Ｃ：姫路市
カ．Ａ：米原市　Ｂ：姫路市　Ｃ：静岡市

(2)　次の表は、いくつかの都市の工業について、パルプ・紙・紙加工品、食料品製造業、鉄鋼業、輸送用機械器具の産業別出荷額（2019年）を示したものであり、表中のア～エは、小田原市、北九州市、広島市、富士市のいずれかです。小田原市に当てはまるものを、ア～エの中から１つ選び、記号で答えなさい。

単位：百万円

	パルプ・紙・紙加工品	食料品製造業	鉄鋼業	輸送用機械器具
ア	6,156	29,841	3,278	9,913
イ	473,477	103,533	40,909	264,922
ウ	13,383	216,379	15,591	2,001,222
エ	17,858	72,785	844,106	160,606

2019年工業統計表　地域別統計表より作成

(3)　次の表は、県別の農業産出額の内訳（2019年）を示しており、表中Ａ～Ｃは愛知県、岡山県、神奈川県のいずれかです。Ａ～Ｃと県名の正しい組み合わせを、下のア～カの中から１つ選び、記号で答えなさい。

単位：%

	米	野菜	果実	畜産
A	5.2	51.6	11.8	20.9
B	22.8	15.3	17.5	40.9
C	9.5	36.1	14.1	27.8

「データブック オブ・ザ・ワールド 2021年版」より作成

ア．Ａ：愛知県　Ｂ：岡山県　Ｃ：神奈川県
イ．Ａ：愛知県　Ｂ：神奈川県　Ｃ：岡山県
ウ．Ａ：岡山県　Ｂ：愛知県　Ｃ：神奈川県
エ．Ａ：岡山県　Ｂ：神奈川県　Ｃ：愛知県
オ．Ａ：神奈川県　Ｂ：愛知県　Ｃ：岡山県
カ．Ａ：神奈川県　Ｂ：岡山県　Ｃ：愛知県

問７　北海道では近年、鉄道の廃止が進んでいます。次の図は、1964年、1987年、2016年における北海道の鉄道路線網を示しています。図を参考に、北海道の交通網について説明した文として最も適当なものを、下のア～エの中から１つ選び、記号で答えなさい。

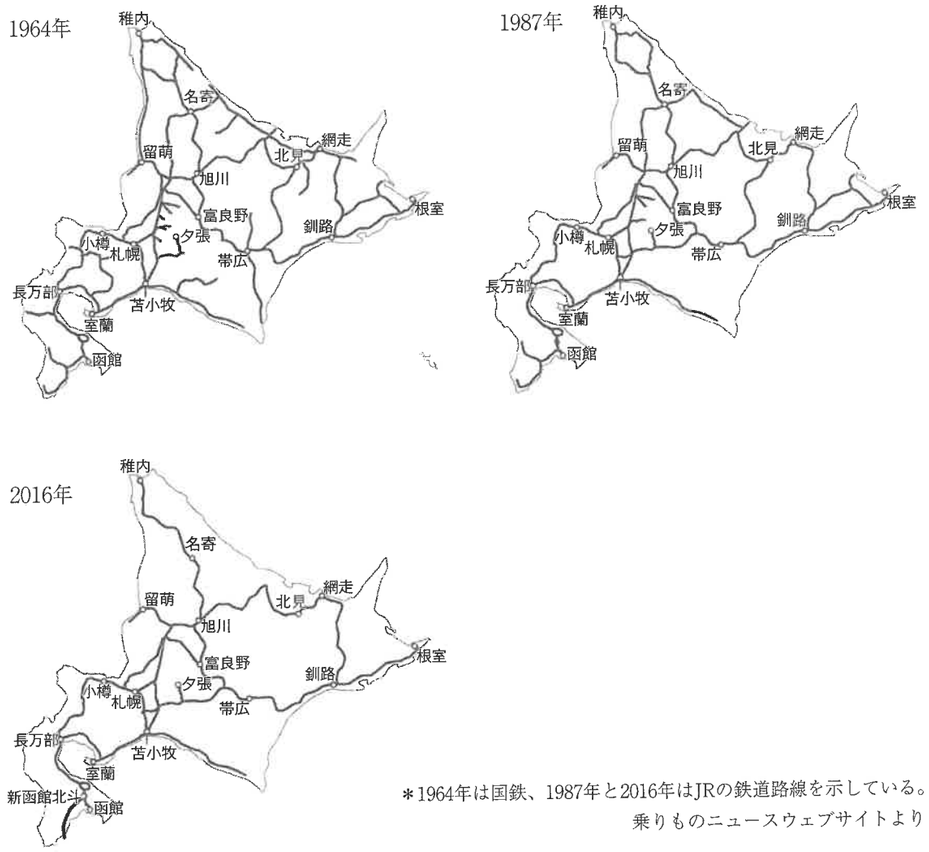

＊1964年は国鉄、1987年と2016年はJRの鉄道路線を示している。
乗りものニュースウェブサイトより

ア．1964年には、稚内周辺で収穫された米を北海道各地に輸送するための鉄道路線がみられる。

イ．1964年から1987年の間に、北海道全域で高速道路が開通したため、鉄道の廃止が進んだ。

ウ．1964年から1987年の間に、札幌と帯広・釧路方面をより短距離で結ぶ鉄道路線が開通した。

エ．1987年から2016年の間に、新たな炭鉱が開山し、北見と帯広を結ぶ鉄道路線が開通した。

問８　近年、貨物輸送において鉄道の利用が見直されています。以下の資料に即して、鉄道貨物輸送の利点を75字以内で説明しなさい。

SDGｓの目標の一部





response.jpより



newswitch.jpより

問題は次のページに続きます。

2　A　江戸時代後期に広大な鉄の産地を形成した東北地方について、以下の地図や資料を参考に、問に答えなさい。



問1　上の地図中のXには、8世紀に蝦夷に対する軍事拠点が設置され、周囲には製鉄炉などがつくられました。この軍事拠点の名称を答えなさい。

問2　現在の岩手県を中心に、東北地方で鉄の生産が拡大された背景には、原材料を運ぶために大きな河川を利用できたことがあります。この地域の鉄生産に大きな役割を果たしたYの河川の名称を答えなさい。

問3　岩手県には、現在まで続く、鉄が使用された特産品があります。これに関して、次の設問に答えなさい。

(1)　下の特産品は、江戸時代に設置されていた藩の名を由来とする名称で知られています。この特産品の名称を答えなさい。



岩手県産株式会社ホームページより

(2)　(1)の特産品がつくられるようになるまで、現在の岩手県でひろまった鉄製品には主要な産地が2か所あり、それぞれの地域でつくられてきたものには特色があります。この特色を説明した下の文章の空らん（　①　）・（　②　）に入る適切なものを、次のア～エのうちから1つ選び、記号で答えなさい。

地域	つくられ始めたきっかけ	つくられていた鉄製品
盛岡	盛岡藩が成立し、甲斐から鋳物師が招かれたこと	茶の湯釜・美術工芸品などが中心
水沢	後三年の役が終わり、近江から鋳物師が招かれたこと	鍋・釜・武器などが中心

盛岡で鉄製品がつくられ始めた時代は（　①　）ため、芸術品や献上品が多くつくられており、水沢で鉄製品がつくられ始めた時代は（　②　）ため、生活や戦いに用いる庶民や武士向けのものが多くつくられていた。

ア．庶民が富裕になり武士団を形成したことで、生活用品と武器の需要が高まっていた
イ．東北地方を舞台にした大きな戦乱が起きた後で、戦後に現地の人々の生活が再興された
ウ．茶の湯が流行し始めた室町時代で、寺院関係者や貴族たちが必要としていた
エ．幕藩体制の確立期で、藩から幕府へ進物を贈る習慣ができていた

問4　幕末になると、外国船の脅威に対応するため、各地で反射炉と呼ばれる鉄の精錬のための設備がつくられるようになりました。1850年、佐賀藩では日本初の反射炉が建設されましたが、これは下の年表においていずれの時期にあたるできごとか、ふさわしいものを年表中のア～オのうちから1つ選び、記号で答えなさい。

ロシア使節が長崎に来航し、沿岸防備の必要性が高まる。
（　ア　）
異国船打払令が出される。
（　イ　）
大坂で、江戸幕府に対する大きな反乱がおこる。
（　ウ　）
アヘン戦争がおこり、清がイギリスに敗北する。
（　エ　）
ペリーが再び来航し、日米和親条約がむすばれる。
（　オ　）

B　金・銀・銅などの金属は、世界中で貨幣として用いられており、各国で需要が高かったために、貿易品として重要な価値をもっていました。これらの金属をめぐる貿易について、問に答えなさい。

問5　16世紀に入ると、ヨーロッパの国々がアジアへ出向いて貿易を行うようになりました。次の文章は、1512年から1515年までマラッカ商館に滞在したポルトガル人トメ・ピレスの著書、『東方諸国記』の一部です。文章中の（　①　）・（　②　）に当てはまる国の名の組み合わせとしてふさわしいものを、次のア～カのうちから1つ選び、記号で答えなさい。

マラッカでその住民とマラッカに居留している人々が断言するところによれば、マラッカの港ではしばしば84の言語がそれぞれ（話されるのが）見られるということである。（　①　）人以下すべての国民は、ポルトガル人がミラノについて語るように、琉球人について語る。彼らは正直な人間で、奴隷を買わないし、たとえ全世界とひきかえでも同胞を売ったりしない。琉球人は、（　②　）に行って黄金と銅を買い入れ、マラッカには黄金・銅・武器・工芸品・小麦・紙・生糸…などを携えてあらわれ、（　①　）人が持ち帰るのと同じ品物やベンガル産の衣服を持ち帰る。すべての（　①　）人の言うことによると、（　②　）は琉球人の島々よりも大きく、国王はより強力で偉大である。～（中略）～　国王は異教徒で、（　①　）の国王の臣下である。彼らが（　①　）と交易をすることはさほど頻繁ではないが、～（中略）～　琉球人は7、8日で（　②　）におもむき、上記の品々を交換する。

トメ・ピレス 著、生田滋ほか訳 『東方諸国記』岩波書店　1966年より（一部改変）

ア．①—中国　②—朝鮮
イ．①—中国　②—日本
ウ．①—朝鮮　②—中国
エ．①—朝鮮　②—日本
オ．①—日本　②—中国
カ．①—日本　②—朝鮮

問６　次の地図に示すのは、かつて金属を産出した鉱山の位置です。これについて、以下の設問に答えなさい。

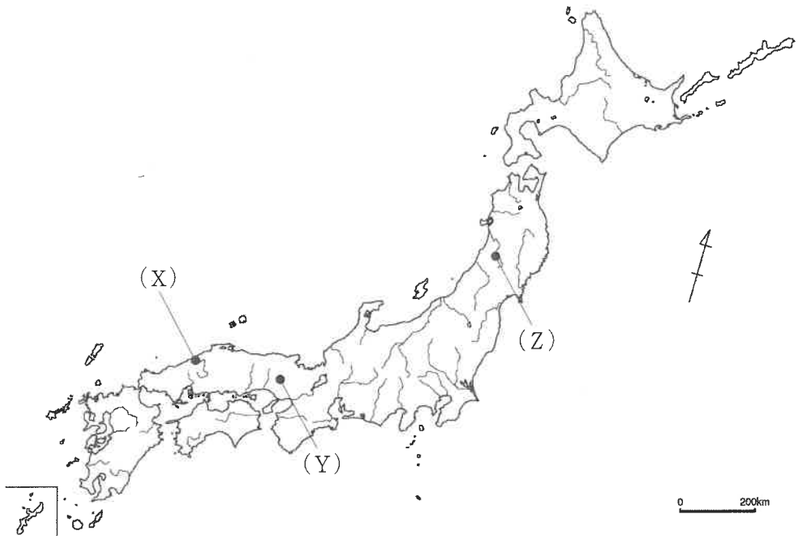

(1)　16世紀後半から17世紀にかけて、地図中の（X）～（Z）の鉱山において多くの鉱石が採掘され、日本はヨーロッパの国々から「［　　］の島」と呼ばれていました。空らんに入る金属は何か、答えなさい。

(2)　当時、地図中の(X)・(Y)のそれぞれの位置の支配に関わりの深かった大名としてふさわしいものを、次のア～キのうちからそれぞれ１つずつ選び、記号で答えなさい。

ア．朝倉氏　　イ．上杉氏　　ウ．大友氏　　エ．武田氏
オ．伊達氏　　カ．北条氏　　キ．毛利氏　　ク．山名氏

問７　次に示すのは、江戸時代の貿易に関する資料です。これらの資料を参考に、以下の説明文に関する設問に答えなさい。

【資料１】1715年に出された条例における貿易制限の内容

貿易の相手	入港船の上限	貿易額
①　船	年30隻まで	銀6000貫まで
②　船	年２隻まで	銀3000貫まで

【資料２】　江戸時代前期の輸出入品目

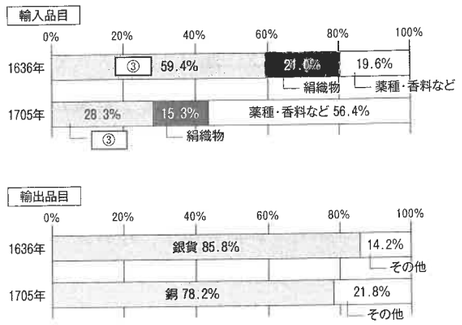

【資料３】　江戸時代末期の輸出入品目

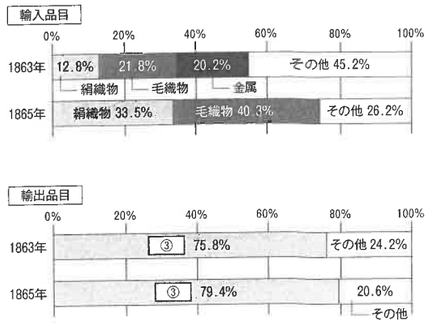

『日本史のライブラリー』とうほう　より（一部改変）

【江戸時代の貿易に関する説明文】

1715年に出された条例では、当時の主要な貿易相手国であった［①］・［②］との貿易に対して、それぞれ入港船数や貿易額に関する制限が設けられています。入港船数や貿易額に関してこのような貿易制限を設けるということは、当時最大の輸入品であり、日本国内で大きな需要があった［③］の輸入も減少してしまうことが予想されます。それでもこの条例が出されたのは、輸出品の大部分を占めていた金属の流出を制限するためであったと考えられます。

輸入が減ってしまった［③］は、江戸時代のあいだに国産化が進み、江戸時代末期には最重要輸出品となりました。［③］の原料の需要も高まり、多くの米農家は副業として［④］業を営むようになっていきました。

(1)　説明文中の空らん［ ① ］～［ ③ ］に入る語句の組み合わせとしてふさわしいものを、次のア～クのうちから１つ選び、記号で答えなさい。

	①	②	③
ア	オランダ	清	生糸
イ	オランダ	清	綿糸
ウ	ポルトガル	清	生糸
エ	ポルトガル	清	綿糸
オ	清	オランダ	生糸
カ	清	オランダ	綿糸
キ	清	ポルトガル	生糸
ク	清	ポルトガル	綿糸

(2)　説明文中の空らん［ ④ ］に適切な語句を記しなさい。

3　次の文章を読んで、問に答えなさい。

昨年（2021年）10月31日、第49回衆議院議員総選挙が行われました。この選挙は1976年12月以来45年ぶりに、衆議院議員の任期満了の選挙として話題になりました。また今年（2022年）の夏には、第26回参議院議員通常選挙が行われます。東京オリンピック・パラリンピックも終わり、新型コロナウイルス感染症の影響が残るなか、今後の日本の針路を考える重要な時期と言えるでしょう。

問１　下線部について、次の記事を読んで設問に答えなさい。

2020年国勢調査の速報値の公表を受け、「１票の格差」是正に向けて16年の法改正で導入が決まった「アダムズ方式」に基づく衆院議員定数の新たな配分が固まった。同方式の適用は初めて。小選挙区数は東京で５増える一方、福島、和歌山、山口など10県で１ずつ減り、全体で10増10減となる。格差は違憲判断の目安とされる２倍を下回り、最大1.695倍まで縮小する。

～（中略）～　現在、都道府県への小選挙区数の割り振りは、まず１議席を割り当てる「１人別枠方式」を採用。今秋の見通しの衆院選は現行の定数配分で行われる。速報値によると、（　あ　）ある衆院小選挙区の１票の格差は、人口最多の東京22区（57万3969人）と最少の鳥取２区（27万4160人）の間で、最大２.094倍に拡大。鳥取２区との格差が２倍以上の小選挙区数は20に上る。

～（中略）～　比例代表の定数（　い　）もアダムズ方式に基づいて再配分される。

～（中略）～　速報値によると、参院では「合区」を含む45選挙区の１票の格差は最大３.026倍に拡大。格差是正を求める声が強まりそうだ。

時事ドットコム　2021年６月26日より（一部改変）

(1)　空らん（　あ　）・（　い　）に適する数字を入れなさい。

(2)　次の表は1960年～80年の衆議院議員総選挙に関するものです。表中の下線部「日中選挙」について、このキャッチフレーズがつけられた理由としてふさわしいものを次のア～エから１つ選び、記号で答えなさい。

回数	日時	マスコミによる選挙のキャッチフレーズ
第29回	60年11月	安保選挙
第30回	63年11月	ムード選挙
第31回	67年１月	黒い霧選挙
第32回	69年12月	沖縄選挙
第33回	72年12月	日中選挙
第34回	76年12月	ロッキード選挙
第35回	79年10月	増税選挙
第36回	80年６月	ダブル選挙

『政治経済資料2021』とうほう　より作成

ア．北京の中華人民共和国政府との間で、日中共同声明の調印が行われた直後であった。

イ．ベトナムの統一を受けて、日中平和友好条約が調印された直後であった。

ウ．台湾の中華民国政府との間で、日中共同声明の調印が行われた直後であった。

エ．天安門事件を受けて、日中平和友好条約が調印された直後であった。

問２　次の表は国会の種類（通称）についてまとめたものです。設問に答えなさい。

［種類］	［召集のかたち］	［主な議題］	［会期］
（　①　）国会	毎年１回、（　④　）月に召集	予算の審議と議決	（　⑧　）日間
（　②　）国会	・内閣が必要に応じて召集 ・衆参どちらかの総議員数の（　⑤　）分の（　⑥　）以上の要求	国内外の緊急課題	両議院の議決
（　③　）国会	衆議院の解散総選挙から（　⑦　）日以内	内閣総理大臣の指名	両議院の議決
参議院の緊急集会	衆議院の解散中に緊急の必要が生じたときに内閣が要求	緊急の問題	特に定めず

(1)　表中の空らん（　①　）～（　③　）に入る語句の組み合わせとして正しいものを、次のア～カから１つ選び、記号で答えなさい。

	①	②	③
ア	通常	特別	臨時
イ	通常	臨時	特別
ウ	特別	通常	臨時
エ	特別	臨時	通常
オ	臨時	通常	特別
カ	臨時	特別	通常

(2)　表中の空らん（　④　）～（　⑧　）に入る、適切な数字をそれぞれ答えなさい。

問３　昨年（2021年）、菅総理大臣が河野太郎行政改革担当大臣に命じた、新型コロナウイルス感染症対策は何か、答えなさい。

問題は以上です。

↓ここにシールを貼ってください↓

220130

令和４年度　社会解答用紙　渋谷教育学園渋谷中学校

受験番号						番	氏名	

※欄には記入しないこと。

1

問1		問2				※
問3		問4	(1)		(2)	※
問5						
						※
問6	(1)		(2)		(3)	※
問7						※
問8						
						※

2

問1			問2					※
問3	(1)			(2)	①		②	※
問4		問5						※
問6	(1)		(2)	(X)		(Y)		※
問7	(1)		(2)					※

3

問1	(1)	(あ)		(い)		(2)		※
問2	(1)							※
	(2)	④		⑤		⑥		
		⑦		⑧				※
問3								※