1　次の文章を読んで、問いに答えなさい。

今から40年ほど前の1979年、**世界保健機関**は「天然痘」の根絶を宣言しました。医学の発達で人類は病気を克服していくと考えられましたが、それ以降も人類は予防法も治療法もない病原体の流行に幾度となく襲われています。実は、人が病気と必死に闘うように、病原体もまた、薬が効かないような強い毒性を持つなど進化を遂げてきたのです。

人類にとって、病気の原因である病原体は、ほぼ唯一の天敵と言えます。微生物が人や動物などの宿主（しゅくしゅ）に寄生して、そこで増殖することを「感染」と言い、その結果、宿主に起こる病気を「感染症」、その微生物を「病原体」と呼びます。感染症が人類を脅かすようになったのは、農耕や牧畜の開始により定住化し集落・都市が発達、人同士あるいは人と家畜が密接に暮らすようになってからです。また現代では大量・高速移動を可能にした交通機関の発達で、病原体は瞬時に遠距離を運ばれていきます。

地球、そして日本に住む限り、われわれは自然災害や感染症から完全に逃れるすべはありません。今日はこのような視点から、日本や世界の歴史を大きく変えたいくつかの感染症を取り上げて、人類と感染症のことを考えてみましょう。

＜資料１＞　世界の主な感染症に関するできごと

年代・世紀	主なできごと（想定される病気）
735	北九州で病気（天然痘）が流行
737	都で病気（天然痘）が流行
861	日本各地で病気（赤痢）が流行
1331	日本で病気（天然痘）が流行
1347～51	ヨーロッパでペストが大流行
16世紀	アメリカ大陸で天然痘が流行
17～18世紀	ヨーロッパ各地でペストが再流行
1796	ジェンナーが種痘法を成功させる
1849	日本で種痘が成功
1858～77頃	日本で外来の病気が流行
1894	[　X　]が、ペスト菌発見
1899	日本で初のペスト感染
1918～20	世界的にインフルエンザが大流行
1933	インフルエンザウィルスの発見
1979	世界保健機関が、天然痘の根絶を宣言

中学歴史資料集『学び考える歴史』（2019　浜島書店）より作成

問１　下線部に関する次の文章を読んで、空らんに適する語句の組み合わせとして正しいものを、以下のア～エから１つ選び、記号で答えなさい。

昨年（2020）、世界的な大流行となった「新型コロナウィルス感染症（COVID-19）」ですが、その対策の最前線に立っていたのが「世界保健機関」です。この機関は（　A　）に属し、頭文字を取ってアルファベットで（　B　）と呼ばれています。

	A	B
ア.	国際連合	WTO
イ.	国際連合	WHO
ウ.	国際連盟	WTO
エ.	国際連盟	WHO

問２　【天然痘】に関する次の文章を読み、設問に答えなさい。

＜資料１＞からわかるように、人類を最も苦しめてきた病気の一つが「天然痘」です。それは日本でも同じでした。

６世紀の欽明、敏達両天皇の時代、ちょうど仏教が日本に伝えられたとする直後に病気の大流行がありました。これをきっかけに仏教を受け入れるかどうかを巡り、蘇我氏と（　あ　）氏の抗争に発展します。

また天平７年（735）には、遣新羅使が北九州の（　い　）に戻った直後に北九州一帯に天然痘らしき病気が大流行しました。

彼らが病気から回復したのち、天平９年（737）３月に報告のために入京したところ、４月から８月にかけて（　う　）京で貴族や皇族が次々と感染し、政権の中枢を担っていた（　え　）氏の４人の兄弟も全員が亡くなってしまいます。

(1)　上の文章の空らん（　あ　）～（　え　）に適する語句を答えなさい。

＜資料２＞

天平十三年三月二十四日、天皇は詔を出され、「…全国に命じて各々七重塔一区画を建立し、金光明最勝王経を一部ずつ写させよ。（中略）、その寺の名を金光明四天王護国之寺とせよ。（以下略）」

＜資料３＞

天平十五年十月十五日、天皇は詔を出され、「…ここに天平十五年十月十五日、菩薩がめざすようにすべての衆生を救済し地上に極楽を実現したいという悲願をおこして、廬舎那仏の金剛像一体を造る。（以下略）」

『必須日本史資料210選』（2019　とうほう）
※資料は、現代語に訳されています。

(2)　上の資料は、病気の流行に対して当時の天皇が発した詔です。この天皇を答えなさい。

(3)　＜資料２＞について、天皇が建立を命じた「金光明四天王護国之寺」は、一般に何と呼ばれているか答えなさい。

(4)　＜資料３＞と最も関係の深いものを、以下のア～エから１つ選び、記号で答えなさい。

ア.



イ.



ウ.



エ.



(5)　近代以前は、日本では病気の原因は、怨霊やもののけのせいだと考えられていました。9世紀の終わりころ、日本各地で病気が流行したとき、都の人々は、諸国を表す66本の鉾を立てて神をまつり、さらに神輿（みこし）を送って、災厄の除去を祈りました。この行事は15世紀後半に戦乱で中止されたものの、それ以降は一度も中断されることなく続いてきました。しかし、その伝統も今回のCOVID-19には勝てませんでした。この行事の名前を答えなさい。

問３　【ペスト】に関する次の資料と文章を読み、設問に答えなさい。

＜資料４＞　家畜と人間の病気

人間の病気	もっとも近い病原体をもつ家畜
麻疹（はしか）	牛
結核	牛
天然痘	牛や天然痘ウィルスをもつ他の家畜
インフルエンザ	豚・アヒル
熱帯性マラリア	鶏・アヒルなど

『歴史風景館　世界史のミュージアム』（2019　とうほう）より作成

＜資料４＞からわかるように、人類を苦しめてきた感染症には家畜を通じて人間に感染したものが多くあります。ペストは、ノミを介してネズミから人間に感染する感染症です。死亡率が高く、皮膚が紫黒色になることから黒死病と呼ばれました。

14世紀、モンゴル帝国の拡大で、アジアのネズミやノミがヨーロッパにもたらされました。これにより1347年からヨーロッパで大流行がはじまり、14世紀の末までに、ヨーロッパの人口は大幅に減少しました。その後も、ヨーロッパではたびたびペストなどの病気の流行に見舞われました。

(1)　人類は感染症との戦いの中で多くのことを学んできましたが、今回のCOVID-19ではその経験が生かされていました。以下の＜資料５＞は14世紀のヨーロッパの人々がおこなった感染症対策です。今回の流行でも、海外で同じような対策がとられました。この対策を何と呼ぶか、カタカナで答えなさい。

＜資料５＞

14世紀、ペストが流行する中でイタリア人のボッカッチョが著した、『デカメロン』の一節です。

いずれにせよ数年前、はるか遠く地中海の彼方のオリエントで発生し、数知れぬ人命を奪いました。ペストは一箇所にとどまらず次から次へと他の土地に飛び火して、西の方へ向けて蔓延してまいりました。

（中略）市当局に任命された役人が、病人の市中への立ち入りを禁止、衛生管理の周知徹底のお触れを出しました。

『デカメロン』（ボッカッチョ　平川祐弘訳　2020　河出文庫）一部改変

(2)　ペストは、人類が苦しめられた感染症のなかでは、珍しく日本にほとんど影響を及ぼしませんでした。しかし、ペストの原因である病原体は、１ページの＜資料１＞にあるように1894年、日本人［　X　］によって発見されました。［　X　］の名前を答えなさい。

問４　次の文章と＜資料６＞を読み、設問に答えなさい。

250年におよぶ江戸時代を終わらせ、開国に導いた黒船、ペリーの来航。1854年、２度目の来航で幕府と①**外交交渉**が始まります。1858年、黒船が再び日本に姿を見せ、７月初めに長崎に、末には下田に寄港します。ところがこの直後、長崎で病気がはやり始めました。この病気はまたたく間に江戸や大阪にもひろがり、また発症するとあっという間に死んでしまうことから「コロリ」と呼ばれました。下の＜資料６＞は、この時の様子を記したものです。この流行で、幕府の要人もふくめ、多くの人々が次々に命を落とし、大混乱になりました。

＜資料６＞

1857年７月にアメリカ艦ミシシッピー号が清国から日本に【　Y　】を持ち込んだ。（中略）今回はたくさんの犠牲者が出た。市民はこのような病気に見舞われてまったく意気消沈した。彼らは、この原因は日本を外国に開放したからだといって、②**市民のわれわれ外国人に対する考えは変わり、ときには、はなはだわれわれを敵視するようにさえなった。**（医学伝習医ポンペの回想録）

小長谷正明『世界史を変えたパンデミック』（2020　幻冬舎新書）一部改変

(1)　下線部①について、この外交交渉の結果むすばれた条約を答えなさい。

(2)　(1)で答えた条約の内容として**誤っているもの**を、次のア～エから１つ選び、記号で答えなさい。

ア．両国民の永久不変の親睦を結び、場所や人によって差別しない。
イ．下田、箱館を開港して、アメリカ船が不足品を買うことを許可する。
ウ．遭難した船員は保護され、滞在が許可される。
エ．日本がアメリカに許可したことは、自動的に他国にも許可をする。

(3)　＜資料６＞中の病気【　Y　】を、カタカナ３字で答えなさい。

(4)　＜資料６＞中の下線部②に関して、このように外国人を敵視し、追いはらおうとする考えを、何と呼びましたか、漢字２字で答えなさい。

問５　【インフルエンザ】に関する次の文章を読み、設問に答えなさい。

第１次世界大戦中の1918年５月、イギリスのロイター通信が「（　Z　）国の首都マドリードに変わった伝染病が発生した。症状は軽く、死亡例は報告されていない。」と伝えました。

これが、いわゆる「（　Z　）かぜ」と呼ばれる病気です。しかし現在、この病気の発生源はアメリカではないかと考えられています。アメリカは1917年に大戦に参戦し、ヨーロッパに大量の兵士を派遣しました。ここから、交戦国の兵士に広がり、当時世界各地の植民地から動員されていた人々に感染します。感染した兵士がそれぞれの国に帰還することで、世界中に拡大したと考えられています。

日本でも**1918（大正７）年以降に、大流行が始まっています**。この病気には、最終的に日本の人口の約半数が感染したと考えられています。

(1)　文中の（　Z　）に適する語句を入れなさい。

(2)　下線部について、この時期にインフルエンザがどのように日本に伝わったと考えられるのか、本文と次の資料を参考にして、説明しなさい。

＜資料７＞



＜資料８＞　資料７にまつわる国内のようす。



問題は次のページに続きます。

2　次のグラフは、2010年度の公共工事費を100とし、2011年度～2019年度の５つの県の公共工事費の増減を表しています。ａ・ｂはグラフ中のＸ群に、ｃ・ｄはグラフ中のＺ群に含まれる県であり、Ｙ（点線）は単独の県を表しています。公共工事費とは、国や都道府県、市区町村、独立行政法人、地方公社が発注した工事のことです。グラフ中のａ～ｄおよびＹについて述べた以下の文章を読み、問いに答えなさい。

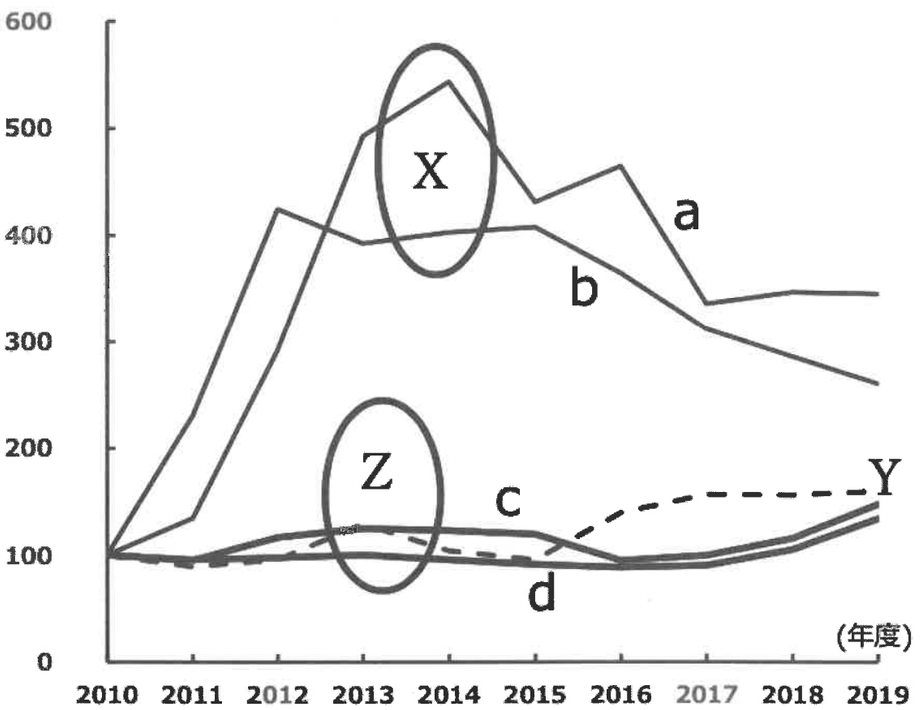

「公共工事前払金保証統計」より作成

ａ：千円札の肖像画にもなっている（　ア　）の出身地であり、（　イ　）のほとりには功績を称える記念館がある。また、幕末に16～17歳の武家の男子によって結成された（　ウ　）が自刃した悲しい歴史もある。

ｂ：日本三景の一つに数えられる（　エ　）があり、西隣との県境をなす1800mを超える連峰では、例年冬に（　オ　）をみることができる。関ヶ原の戦いの翌年、この地を治めた有名な戦国武将である（　カ　）が城の建設を始めた。

ｃ：日本三名園の一つである（　キ　）がある。道路鉄道併用ルートとして1988年に（　ク　）が完成した。1932年、武装した海軍将校により殺害された（　ケ　）の出身地でもある。

ｄ：島々に10本の橋が架けられた（　コ　）がある。この地の戦国大名（　サ　）は、子供たちに協力し合うことの大切さを説いた逸話で有名である。県内には戦争に関する世界文化遺産があり、2016年には（　シ　）氏が現職のアメリカ大統領として初めて平和記念資料館を訪れた。

Ｙ：世界最大級の（　ス　）である火山がある。17世紀に（　セ　）をリーダーとして一揆が起き鎮圧されたが信仰の火は消えず、2018年同地区は世界文化遺産に登録された。県北部の干潟ではハゼ科に属する魚の一種である（　ソ　）が生息している。

問１　文中の（　ア　）～（　ソ　）にあてはまる語句を語群より選び、それぞれ番号で答えなさい。

① 明石海峡大橋	② 天草四郎時貞	③ 天橋立
④ 猪苗代湖	⑤ 犬養毅	⑥ 上杉景勝
⑦ 大内義隆	⑧ オオサンショウウオ	⑨ 大塩平八郎
⑩ オバマ	⑪ オーロラ	⑫ 偕楽園
⑬ カルデラ	⑭ 奇兵隊	⑮ 兼六園
⑯ 後楽園	⑰ 樹氷	⑱ 瀬戸内しまなみ海道
⑲ 瀬戸大橋	⑳ 高橋是清	㉑ 田沢湖
㉒ 伊達政宗	㉓ トランプ	㉔ 十和田湖
㉕ 野口英世	㉖ 白虎隊	㉗ 福沢諭吉
㉘ ブッシュ	㉙ 松島	㉚ 宮島
㉛ ムツゴロウ	㉜ 毛利元就	㉝ 溶岩ドーム

問2　a～dおよびYにあてはまる県を①～⑧から１つずつ選び、番号で答えなさい。



問題は次のページに続きます。

問３　2019年10月、台風19号が関東地方を直撃しました。以下に示すA、Bは、2014年と2019年の東京都の全卸売市場におけるある農作物の市場価格を月ごとに示したものであり、C、Dのグラフは2017年のA、Bいずれかの農作物の全国の生産量に占める上位都道県をあらわしたものです。以下のA、Bの農作物に関する文章を読み、設問に答えなさい。

A

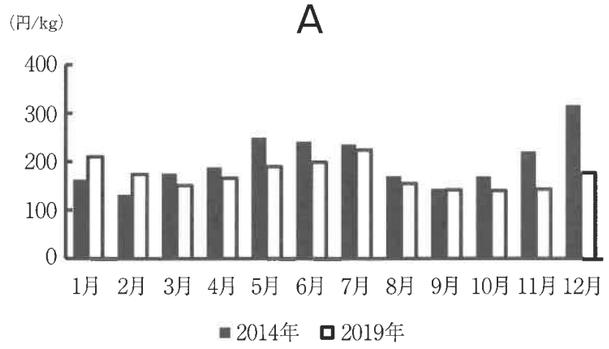

「東京都中央卸売市場　市場統計情報」より作成

16世紀に漂着したポルトガル船によってもたらされたのが日本における起源とされている。日本名の由来は一説には「カンボジア産の野菜」、「カンボジア瓜」と呼ばれていたものがなまったと言われている。主な食べ方として、スープや煮物があげられる。

B

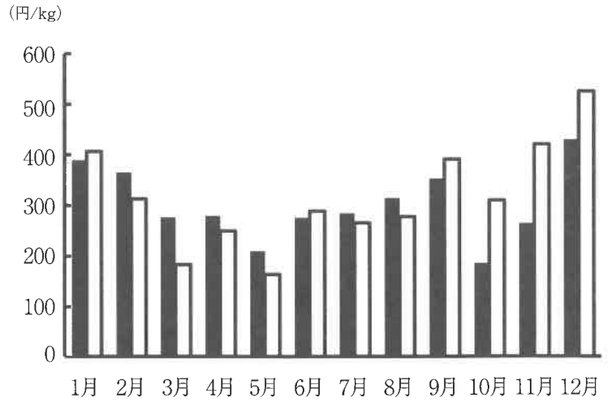

「東京都中央卸売市場　市場統計情報」より作成

奈良時代から平安時代にかけて中国から入ってきた野菜である。江戸時代は冬に収穫されることから「冬菜」などと呼ばれていたが、一説には８代将軍徳川吉宗が現在の名称の名付け親といわれている。主な食べ方として、おひたしやいため物があげられる。

C

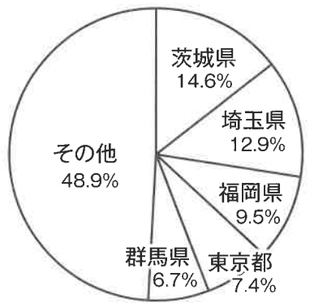

D

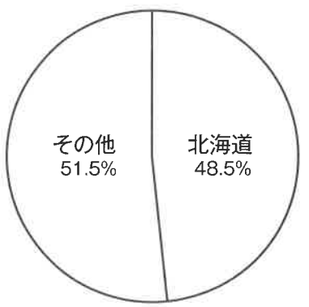

「地域の入れ物」https://region-case.comより作成

(1)　A、Bの農作物の名称をそれぞれ答えなさい。

(2)　A、Bの農作物の2019年の月ごとの市場価格をみると、台風の影響をAは受けておらずBは受けていることがわかる。なぜ農作物によって影響の受け方が違うのか、写真を参考にして、このような違いが生じた理由を、次の語句を使用して100字以内で説明しなさい。ただし、農作物はA、Bでよい。

語句	近郊　　出荷



https://camp-fire.jp/projects/view/103044

問４　自然災害による被害は年々深刻化しています。地球温暖化防止への取り組みは一国にとどまらず、地球規模で取り組む課題となっています。地球環境を守る活動について、以下のマークの解説と図をよくみて、設問に答えなさい。

FSC 認証マーク

FSC（森林管理協議会）

責任ある森林管理を世界に普及させることを目的とする、独立した非営利団体である。国際的な森林認証制度を運営している。

このマークを与える条件

適切な森林管理がされていると認証された森林から収穫した木材、およびFSC の規格で認められた原料を使用した木材製品や紙製品に与えられる。



レインフォレスト・アライアンス認証マーク

レインフォレスト・アライアンス

地球環境保全のために熱帯雨林を維持することを目的に設立された国際的な非営利団体である。熱帯雨林や野生動物をはじめ、(　イ　) 資源の保護などを目指している。

このマークを与える条件

熱帯雨林の持続可能な管理を目指して、環境、社会、経済の長期的・持続的な取り組みをしていると認められた農場、森林、あるいは観光業に与えられる。

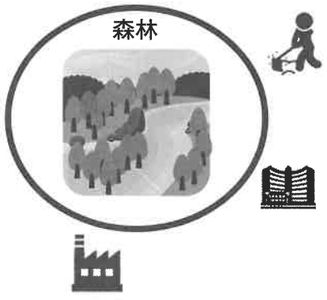

(1)　文中の（ア）・（イ）に適する語句を、解答らんにあう字数で答えなさい。

(2)　熱帯雨林を守るため「FSC認証マーク」や「レインフォレスト・アライアンス認証マーク」が事業者に与えられています。カカオ豆やバナナの「農園」、「リゾートホテル」について、熱帯雨林の伐採以外に必要とされる具体的な配慮をそれぞれ明らかにしながら説明しなさい。

〔問題は以上です。〕

令和３年度　　# 社会解答用紙　　渋谷教育学園渋谷中学校

※欄には記入しないこと。

1

問１								※
問２	(1)	あ		い		う		※
		え		(2)		(3)		※
	(4)		(5)					※
問３	(1)		(2)					※
問４	(1)		(2)		(3)			※
	(4)							※
問５	(1)							※
	(2)							※

2

問１	a	ア		イ		ウ		※
	b	エ		オ		カ		※
	c	キ		ク		ケ		※
	d	コ		サ		シ		※
	Y	ス		セ		ソ		※
問２	a		b		c		d		Y		※
問３	(1)	A			B						※
	(2)										※
問４	(1)	ア			イ						※
	(2)										※

受験番号						番	氏名	

得点合計	※　　点