2026年度

昭和学院秀英中学校

第1回入学試験問題

社　会

注意

※　試験開始の合図があるまで、この冊子を開かないでください。

※　解答用紙はこの問題冊子にはさみ込んであります。

※　解答用紙には、指定のシールを貼(は)り、受験番号を記入してください。

※　解答は、解答欄(らん)からはみ出さないように記入してください。

※　すべての問題について、特に指定のない限り、漢字で答えるべきところは漢字で答えなさい。

※　試験終了(しゅうりょう)後は、解答用紙を提出し、この冊子は持ち帰ってください。

※このページに問題はありません。

※このページに問題はありません。

1　次の図１を見て、新潟県とその周辺の地域に関する以下の設問に答えなさい。

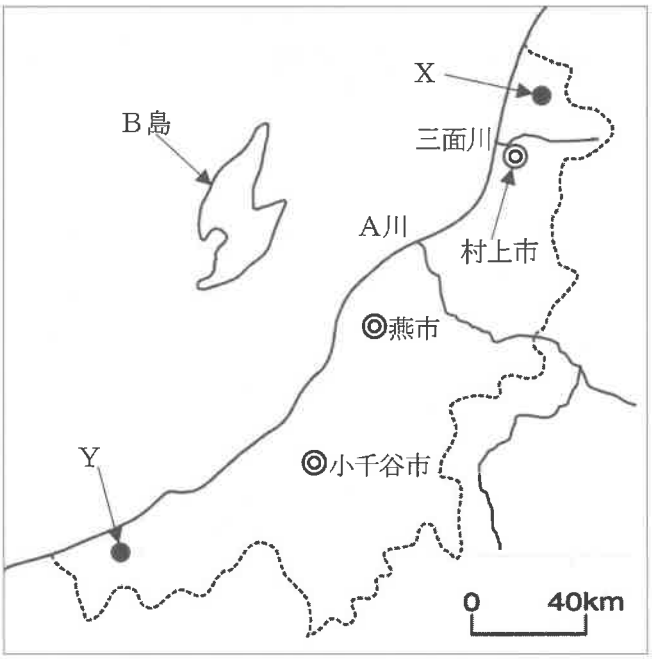

図　1

問１　A川では、かつてその下流域で四大公害病の一つが発生しました。この川の名前を漢字で答えなさい。

問２　B島には、2024年に登録された世界遺産があります。世界遺産は、その内容によって、文化遺産、自然遺産、複合遺産の三区分に分けられます。B島の世界遺産と同じ区分のものを、次のア～エから一つ選び、記号で答えなさい。

ア　屋久島　　イ　知床　　ウ　富士山　　エ　小笠原諸島

問３　次の写真１はXまたはY地点で、南側から北の方角を向いて撮影されたものであり、中央部には大きな断層線が走っています。この断層線の左右どちらかはフォッサマグナとよばれる地溝帯です。この写真が撮影された場所と、写真１のフォッサマグナがある側の正しい組合せを、後のア～エより一つ選び、記号で答えなさい。



写真１

	ア	イ	ウ	エ
場所	X	X	Y	Y
フォッサマグナ	右	左	右	左

問４　村上市を流れる三面川は、サケが産卵・孵化（ふか）する川であり、古くからサケ漁がさかんです。また、図２はサケの一生について示したものです。これを見て、以下の設問に答えなさい。

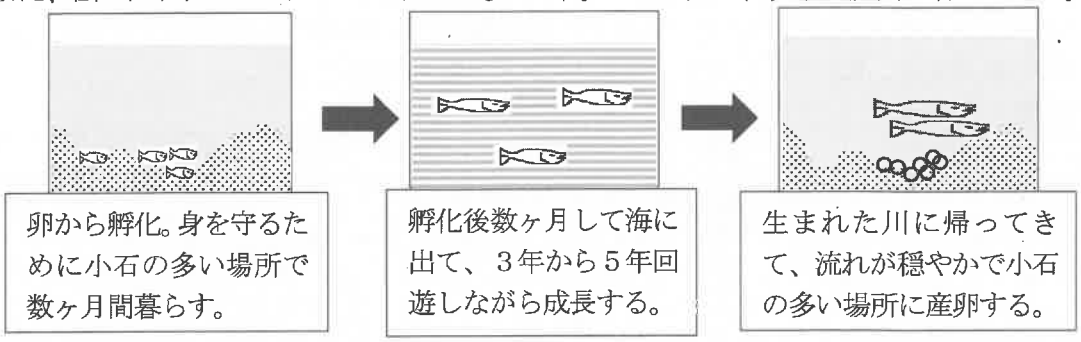

図 2

（１）以下の文章中の下線部の正誤の正しい組合せを、後のア～エより一つ選び、記号で答えなさい。

三面川で孵化したサケは、①東シナ海を回遊し再び三面川に帰ってくる。村上市では、写真２に見られるように、現在も 11 月から 12 月にかけて漁獲したばかりのサケを軒先につるし、②南東から吹く季節風におよそ３週間さらすことで自然発酵させている。



写真２

	ア	イ	ウ	エ
①	正	正	誤	誤
②	正	誤	正	誤

（２）村上市で行われてきたサケ漁は、江戸時代の中頃に振るわなくなりました。これを受けて、当時の村上藩では図３のように三面川の流れを３つに分ける工事を行い、このうち２つでは上流側が柵によって仕切られました。この工事をはじめとした工夫により、翌年以降のサケの漁獲量は増加していきました。なぜサケの漁獲量が増加したのか、図３から読み取れることをあげ、合わせて 40 字以内で説明しなさい。

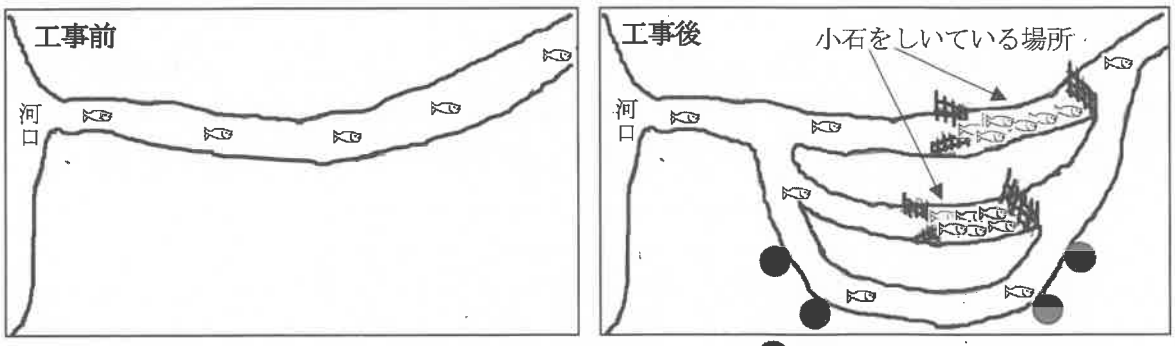

川の流れはかつて一本であり、乱獲によりサケは減少していた。

イヨボヤ会館資料などにより作成。

図 3

問５　サケ漁も含め、日本では「とる漁業」から「育てる漁業」へと転換が進められてきました。次の図４は、ある魚種における漁獲または養殖の上位都道府県とその量が全国に占める割合を示したものです。C、Dはサケ*またはマダイ、Zは愛媛または静岡のいずれかです。サケとZとの正しい組合せを、後のア～エより一つ選び、記号で答えなさい。

*漁獲はマスを除く「サケ類」、養殖は「ギンザケ」。

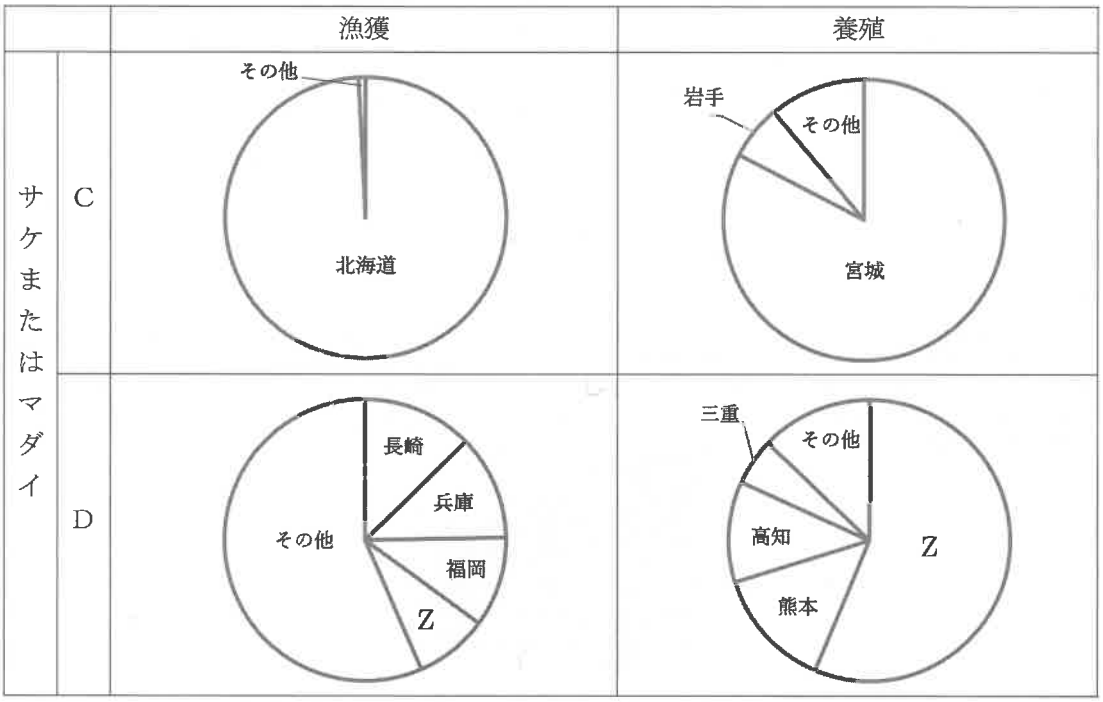

統計年次は2023年。水産庁ウェブページにより作成。

図　4

	ア	イ	ウ	エ
サケ	C	C	D	D
Z	愛媛	静岡	愛媛	静岡

問６　新潟県では古くから伝統工芸品の生産がさかんでしたが、時代の変化に合わせて工芸品の製造を転換する例も見られます。次の文E、Fの正誤の正しい組合せを後のア～エより一つ選び、記号で答えなさい。

E　燕市では、金属を加工してきた伝統を生かし金属洋食器の生産がさかんになった。

F　小千谷市では、ちぢみに代わって石油を原料とする化学繊維の生産がさかんになった。

	ア	イ	ウ	エ
E	正	正	誤	誤
F	正	誤	正	誤

問7　次の表1は、秋田、小松（石川県）、新潟のいずれかの空港における2013年に対する2023年の国内定期航空便の出発者数の増減率（%）と、2023年における最も多い到着地の空港名を示したものです。各空港とg～iとの正しい組合せを後のア～カより一つ選び、記号で答えなさい。

表 1

	g	h	i
増減率（%）	21.4	6.0	−36.5
最も多い到着地	大阪	羽田	羽田

航空輸送統計調査により作成。

	ア	イ	ウ	エ	オ	カ
g	秋田	秋田	小松	小松	新潟	新潟
h	小松	新潟	秋田	新潟	秋田	小松
i	新潟	小松	新潟	秋田	小松	秋田

2　次の文章を読んで、以下の設問に答えなさい。

絹織物の生産は、遅くとも3000年以上前の古代中国で始まっていたとされる。中国は長い間、絹に関する知識や技術を国外に出さないようにしていたため、絹織物は世界の他地域では貴重な交易品として高値で取引されていた。中国から絹織物が運ばれる交易路となったのが、いわゆる「シルクロード」である。中国から西には、インド、ペルシア、ギリシアやローマなどへと運ばれた。東には朝鮮半島から日本列島へと至り、日本にもａ弥生時代ころに絹織物が伝えられていたと考えられている。シルクロードは絹織物だけでなく、①ペルシアの織物やインドの仏教をはじめ、世界各地のさまざまな文物を運ぶ道であり、その一部は日本にも影響を与えている。

古墳時代には歴代の大王たちが養蚕や絹の生産に力を入れ、②渡来人を通じて技術を学ぶようになった。その後、③律令制度のもとで農民には絹や特産品を納める「調」が課されたため、絹の生産は各地でおこなわれた。しかし、当時の日本の製糸技術では蚕の繭から高品質の生糸（絹糸）をつくることは難しく、天皇や④高貴な貴族の着物の原料は中国からの輸入に頼っていた。平安時代には遣唐使の派遣が停止されて公式の国交は途絶えたものの、民間の商人の行き来は続いた。平清盛はｂ現在の兵庫県神戸市の港を修築し、宋の商人から生糸や絹織物などを輸入して大きな利益を得ている。

国内における養蚕は、戦乱の影響もあって安定しなかった。⑤室町時代になると、農業の生産性が高まり、桑などの商品作物がさかんに栽培されるようになったが、西陣織をはじめとする高級絹織物の原料は、中国から輸入される生糸を使っていた。16世紀半ばに⑥日本と明の公式な貿易が途絶えると、代わって中国の生糸をもたらしたのが、ポルトガル人やスペイン人との貿易であった。彼らは中国産の生糸を運んで、日本から銀などを得た。このような貿易は江戸時代初期まで続き、⑦「鎖国」と後によばれる体制が確立した後は、長崎の出島でオランダ商人によって引き継がれることとなった。また、ｃ朝鮮との貿易を通じても、中国産の生糸は輸入された。江戸幕府は生糸の代価として大量の金銀が海外へ流出することを懸念して貿易を制限したため、次第に、国内で輸入品に代わる高品質の生糸が生産されるようになった。京都だけでなく、ｄ桐生（現群馬県）や足利（現栃木県）の絹、上田（現長野県）の紬（つむぎ）など、各地で絹織物が生産された。

欧米諸国との貿易が始まった1858年は、絹産業にとっても転機となった。ヨーロッパでも生糸の需要は高く、東日本各地で生産された生糸が横浜から大量に輸出されるようになった。北関東などの生糸は、同じく生糸の産地であった八王子に集められ、さらに横浜へ運ばれて輸出された。このような「絹の道」が通る八王子などでは生糸の生産が拡大し、大きな富を得た豪農や商人が現われた。横浜を通じて西洋の文化や思想にふれる機会も多く、養蚕業や生糸の輸出で富を得た豪農や商人の中には、ｅ自由党に入って自由民権運動に参加する人々もいて、彼らの中からは「五日市憲法」として知られる民主的な憲法草案が作成された。一方、明治政府は生糸の輸出を外貨獲得の手段として重視し、西洋の技術を取り入れて製糸業や織物業の近代化を図った。群馬県に建てられた官営富岡製糸場では、フランス人技師のもとで⑧士族出身の女性たちが工女として仕事を学び、技術を習得した後には故郷へ戻って近代産業の技術や知識、経験を広める役割を果たした。20世紀初頭には、日本は中国を抜いて世界最大の生糸輸出国となった。

第一次世界大戦において日本は、大戦景気といわれる空前の好況となり、同じく戦争景気にわくアメリカへの生糸の輸出を伸ばすなど貿易は大幅な輸出超過となった。しかし、貿易によって得られた利益は労働者や地方の農村にまで十分に行き渡らず、格差の拡大を招いた。1930年には、前年にアメリカから始まった世界恐慌の影響が日本にもおよび、経済は大きな打撃を受けた。アメリカへの生糸の輸出が途絶えたために養蚕業は衰退する一方、翌31年には北海道や東北地方で冷害が発生し、不作のために食事もとることができないほどに困窮した人々が増えた。政府は⑨「満洲国」への移民を奨励し、冷害や養蚕業の衰退に苦しむ地域から多くの人々が開拓団として渡航した。しかし、太平洋戦争末期になると、「満洲」を守る関東軍の多くが南方の戦線に移動し、移住した男性も軍隊に召集されたため、開拓団には女性や子ども、老人が大部分を占めるようになった。⑩1945年にソ連が対日参戦にふみ切ると、開拓団には多くの犠牲者が出た。

戦後、生糸や絹織物の生産は復興し、1950年代までは日本の重要な輸出品だった。しかし、より安価な海外からの輸入品や化学繊維に替わられていき、生活が洋式化して絹の着物の需要が低下すると、生産は減少した。

問１　波線部ａ～ｅについて、以下の設問にそれぞれ答えなさい。ただし、ａ・ｂ・ｃ・ｅは漢字の語句で、ｄは漢字かカタカナの語句で記入すること。

ａ　静岡県静岡市で発見され、竪穴倉庫や水田の跡、土器や石器などが出土した、弥生時代の遺跡を答えなさい。

ｂ　この港は当時何とよばれたか、答えなさい。

ｃ　江戸時代に朝鮮との貿易や交渉を担っていた藩を答えなさい。

ｄ　江戸時代末期の桐生や足利では、農業から離れた労働者を集め、分業による手工業生産がおこなわれましたが、このような生産様式を何というか、答えなさい。

ｅ　1881年に自由党を結成し、初代党首となった人物を答えなさい。

問２　下線部①に関連して、ペルシアでは騎乗の武人が獅子の狩りをする図柄の織物や工芸品が好まれ、シルクロードを通って類似した図柄の作品が世界各地に広まりました。遣隋使も右の図のような織物を倭（日本）へ持ち帰ったと伝えられ、この織物は聖徳太子へ贈られて、彼が建てた寺院に収められています。その寺院を次のア～エより一つ選び、記号で答えなさい。

ア　延暦寺　　イ　興福寺　　ウ　法隆寺　　エ　東大寺

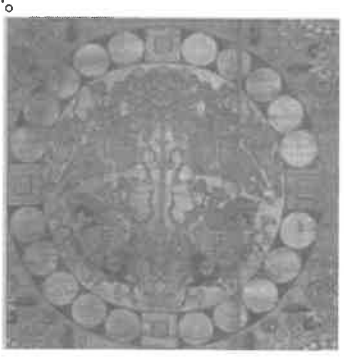

図

問３　下線部②について、次の説明文Ｘ・Ｙの正誤の組合せとして正しいものを、後のア～エより一つ選び、記号で答えなさい。

Ｘ　６世紀に、朝鮮半島から渡ってきた渡来人によって仏教が伝えられた。

Ｙ　渡来人によって焼き物の技術が伝えられ、より強度の高い土師器が作成された。

	ア	イ	ウ	エ
Ｘ	正	正	誤	誤
Ｙ	正	誤	正	誤

問４　下線部③について、律令制度のもとでは公地公民制を原則として、人々から税を取り立てました。８世紀になると、次の史料のような法令が出され、律令制度のもとでの土地制度は変化していきました。史料の内容をふまえてこの法令が定められた理由を述べた上で、この法令によって土地所有はどのように変化したのかを、70 字以内で説明しなさい。

史料　（天平 15〈743〉年）5 月 27 日，詔が出された。「聞くところによると，開墾された田地は 723 年の三世一身法により，期限がきたあとは律令の規定によって国家が公地として回収している。そのため農民が怠けてしまい開墾した田地が再び荒れてしまうという。これからは，開墾した者が思うままに私財とすることを認め，三世一身を期限とせずにすべて永久に私有地とする。……」と。

問５　下線部④に関連して、奈良時代から平安時代にかけて、藤原氏は他の豪族・貴族を排除し、高位の官職を独占することで、強大な勢力を築きました。その説明Ｘ・Ｙの正誤の組合せとして正しいものを、後のア～エより一つ選び、記号で答えなさい。

Ｘ　藤原氏は、中大兄皇子とともに蘇我入鹿らを討ち、大化の改新を進めた中臣鎌足の子孫である。

Ｙ　藤原道長は菅原道真と争ったが、陰謀によって大宰府へ流させ、朝廷の実権を握った。

	ア	イ	ウ	エ
Ｘ	正	正	誤	誤
Ｙ	正	誤	正	誤

問６　下線部⑤について、室町時代の農業の発達についての説明Ｘ・Ｙの正誤の組合せとして正しいものを、後のア～エより一つ選び、記号で答えなさい。

Ｘ　深く耕すことのできる備中ぐわが使用されるようになり、稲の収穫量が増えた。

Ｙ　西日本で始まった麦を裏作とする二毛作が、東日本でもおこなわれるようになった。

	ア	イ	ウ	エ
Ｘ	正	正	誤	誤
Ｙ	正	誤	正	誤

問７　下線部⑥について、室町時代の日明貿易に関する説明Ｘ・Ｙの正誤の組合せとして正しいものを、後のア～エより一つ選び、記号で答えなさい。

Ｘ　明は倭寇を警戒しており、日本船は区別のために勘合を持参しなければならなかった。

Ｙ　明からは大量の銅銭（明銭）が輸入され、日本国内で流通して貨幣経済の発達を促した。

	ア	イ	ウ	エ
Ｘ	正	正	誤	誤
Ｙ	正	誤	正	誤

問８　下線部⑦について、次の文Ａ～Ｃは、後に「鎖国」とよばれる体制が確立される過程の出来事ですが、年代の古いものから順に並べ替えたときに正しいものを、後のア～カより一つ選び、記号で答えなさい。

Ａ　ポルトガル船の来航を禁止した。

Ｂ　日本人の海外渡航や海外からの帰国を禁止した。

Ｃ　キリスト教を禁止し、宣教師を国外へ追放した。

ア　Ａ→Ｂ→Ｃ　　イ　Ａ→Ｃ→Ｂ　　ウ　Ｂ→Ａ→Ｃ　　エ　Ｂ→Ｃ→Ａ

オ　Ｃ→Ａ→Ｂ　　カ　Ｃ→Ｂ→Ａ

問９　下線部⑧について、明治時代の士族に関する説明Ｘ・Ｙの正誤の組合せとして正しいものを、後のア～エより一つ選び、記号で答えなさい。

Ｘ　苗字帯刀など江戸時代まで武士にのみ認められていた特権を失い、さらに政府から支給されていた家禄が廃止されたため、西南戦争など反乱を起こす士族もいた。

Ｙ　士族の救済のため、政府は彼らを屯田兵として北海道に移住させ、開拓使のもとで開拓と警備にあたらせた。

	ア	イ	ウ	エ
Ｘ	正	正	誤	誤
Ｙ	正	誤	正	誤

問10　下線部⑨について、「満洲国」の建国に関する説明Ｘ・Ｙの正誤の組合せとして正しいものを、後のア～エより一つ選び、記号で答えなさい。

Ｘ　盧溝橋事件が起きると、日本の関東軍は中国軍のしわざと主張して満洲全土を占領し、「満洲国」を建てたが、国際連盟から派遣されたリットン調査団によって否定された。

Ｙ　「満洲国」の建国に際して、犬養毅首相はその承認に慎重だったため、不満を持った軍人たちにより暗殺される二・二六事件が発生した。

	ア	イ	ウ	エ
Ｘ	正	正	誤	誤
Ｙ	正	誤	正	誤

問11　下線部⑩について、ソ連の対日参戦の時期として正しいものを、次の表中のア～エより一つ選び、記号で答えなさい。

1945年３月10日　アメリカ軍によって東京大空襲がおこなわれた
↓　ア
６月23日　沖縄本島がアメリカ軍によって占領された
↓　イ
７月26日　連合国によって、日本に対するポツダム宣言が発表された
↓　ウ
８月９日　アメリカ軍が長崎に原子爆弾を投下した
↓　エ
８月15日　ポツダム宣言の受け入れを、天皇がラジオで国民に伝えた

3 次の文章を読み、以下の設問に答えなさい。

今から80年前の1946年に、日本国憲法は公布された。日本が1945年にポツダム宣言を受け入れて降伏すると、連合国軍が日本を占領した。戦後、日本の民主化の中心となったのが憲法改正だった。GHQは、1945年10月に憲法改正を日本政府に指示したが、日本政府がつくった改正案は民主的でなかったため、GHQがつくった改正案を日本政府に示し、日本政府はこれをもとに改正案をまとめて公表した。1946年4月には女性参政権を認めた初めての①衆議院議員総選挙がおこなわれ、初の女性国会議員も誕生した。憲法改正案は、(　1　)院と新たな衆議院で構成される第90回帝国議会で修正・可決された。

日本国憲法は国民主権・②基本的人権の尊重・③平和主義を三大原理とし、日本の政治の基本的なあり方を決めるものとして憲法の全体につらぬかれている。天皇は日本国と日本国民統合の象徴と定められ、国事行為を内閣の助言と承認によっておこなう。日本国憲法では、国民の権利を保障するとともに、(　2　)の義務・納税の義務・子どもに普通教育を受けさせる義務も定めている。

日本国憲法については、成立当初から憲法改正を求める議論があった。2000年に設けられた憲法調査会の最終報告書では、国際貢献、集団的自衛権、自衛隊の存在を明記すべきとの意見が出された。また、④新しい人権を憲法に規定すべきという主張も見られた。

問1　文章中の空欄(　1　)(　2　)に当てはまる語句を漢字で答えなさい。

問2　下線部①に関連して、次のA～Cのうち現在の衆議院議員選挙の特徴として正しいものをすべて選び、その組合せとして適当なものを、後のア～キより一つ選び、記号で答えなさい。

A　小選挙区制と比例代表制を組み合わせた小選挙区比例代表並立制が導入されている。

B　比例代表制では政党名だけでなく、候補者名を書いて投票することができる。

C　最高裁判所の裁判官として適しているかどうかの国民審査が同時におこなわれる。

ア　A　　イ　B　　ウ　C　　エ　AとB　　オ　AとC　　カ　BとC　　キ　AとBとC

問3　下線部②について、日本国憲法や法律で定められた内容として最も適当なものを、次のア～エより一つ選び、記号で答えなさい。

ア　日本国憲法が国民に保障する基本的人権は、「侵すことのできない永久の権利」として与えられており、いかなる場合も個人の権利が制限されることはない。

イ　日本国憲法には「両性の本質的平等」が定められており、職場での男女平等を確保するため、募集・採用、賃金などにおける男女の差別的取り扱いを禁止する労働関係調整法が制定されている。

ウ　日本国憲法で定められている身体の自由には、自由に住む場所を選ぶ居住・移転の自由や自由に職業を選んで働く職業選択の自由が含まれる。

エ　日本国憲法には、社会権の基本となる考え方として「健康で文化的な最低限度の生活を営む権利」が保障されており、さまざまな事情で生活に困っている人に向けて生活保護(公的扶助)のしくみが整えられている。

問4　下線部③に関連して、国際的な平和を目指して活動している組織や活動について述べた内容として正しいものを、次のア～エより一つ選び、記号で答えなさい。

ア　赤十字社は、言論や思想、人権を理由に不当に捕らえられた人々の釈放を目指す非政府組織(NGO)で、政治犯の公正な裁判や死刑の廃止を訴えている。

イ　第二次世界大戦後に国際機構によって平和と安全を維持するために国際連合が発足し、日本はサンフランシスコ平和条約の締結により加盟が認められた。

ウ　発展途上国の経済開発や福祉の向上を図る目的で資金や技術の援助をする政府開発援助（ＯＤＡ）の一つとして、国際協力機構（ＪＩＣＡ）を通して青年海外協力隊の派遣などをおこなっている。

エ　国際連合発足時から紛争地域に国連平和維持軍（ＰＫＦ）などを派遣して事態の悪化や戦線の拡大を防止することを目的に国連平和維持活動（ＰＫＯ）がおこなわれているが、平和主義を掲げている日本は参加していない。

問５　下線部④に関連して、新しい人権の一つを保障するために、医療行為においてインフォームド・コンセントが欠かせません。インフォームド・コンセントとは新しい人権のうち、どの権利を保障するためのものなのか答えなさい。その上で、インフォームド・コンセントとは何か説明しなさい。

無断転載複写禁止

2026年度　昭和学院秀英中学校　第１回入学試験　社会　解答用紙

1

問１ 川　問２　問３　問４（１）

問４

（２）

問５　問６　問７

2

問１ a 遺跡　b

c 藩　d

e　問２　問３

問４

問５　問６　問７　問８

問9　問10　問11

3

問１ （１） 院　（２） の義務

問２　問３　問４

問５ 権利

説明

261114

↓ここにシールを貼ってください↓

ここに貼る

受験番号を記入してください。