無断転載複写禁止

２０２２年度

昭和学院秀英中学校

第１回 入学試験問題

社　会

※　試験開始の合図があるまで、この冊子を開かないでいること。
※　解答用紙は、この冊子の中にあります。
※　試験終了後は、解答用紙のみ提出し、この冊子は持ち帰ること。

showa gakuin Shuei
昭和学院秀英中学校／高等学校

※全ての問題について、特に指定のない限り、漢字で答えるべきところは漢字で答えなさい。

1　日本の産業と人口に関する以下の設問に答えなさい。

問１　農業の成立には、気候や地形などの自然条件が関係します。次の図１は東北地方の一部を切り取り、地表面の起伏を立体的に示したものです。図中の曲線で囲まれた地域は盆地の一部です。これらの地域で生産の盛んな農作物名を、そこに広がる地形の名称とともに答えなさい。



地理院地図により作成。

図１

問２　日本ではかつてさまざまな鉱産資源が採掘されていました。次の図２中のＡ・Ｂは鉱業都市として栄えていました。Ａ・Ｂについて述べたあとの文章中の(　１　)・(　２　)に当てはまる最も適当な語句をそれぞれ１つずつ答えなさい。



図２

Ａの鉱山で産出した(　１　)は、日本の近代化を支えてきた。しかし、エネルギーの中心が変化したことに加え、オーストラリアをはじめとする海外から安価な(　１　)が輸入され、その地位は低下した。2007 年、Ａは財政再建団体に指定され、以降も人口は減少している。2015 年の国勢調査によると、Ａは全国で２番目に人口の少ない市であった。Ｂでは近世に開かれた銅山を背景に採掘技術が発達し、その技術は金属工業や(　２　)工業の発展を促した。だが、高度経済成長が終わると、(　２　)工業の中心は京葉工業地域などに移った。

問３　人口は、出生や死亡だけでなく転入や転出によっても増減します。次の図３は、東京都に隣接する３県(神奈川県・埼玉県・千葉県)と東京都の人口増加率について示したものであり、Ｃ～Ｅは 1960～65 年、1985～90 年、2010～15 年のいずれかです。Ｃ～Ｅと年代との正しい組み合わせをあとのア～カより１つ選び、記号で答えなさい。

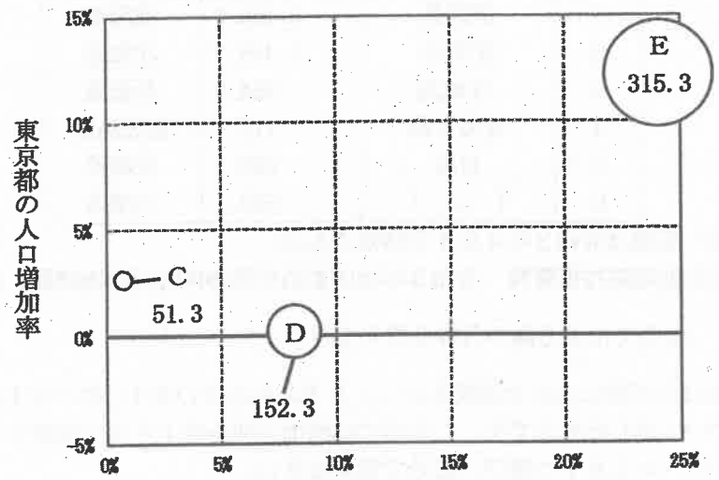

円の大きさは４都県の人口増加の実数(万人)を示す。「国勢調査」により作成。

図３

	ア	イ	ウ	エ	オ	カ
1960～65 年	C	C	D	D	E	E
1985～90 年	D	E	C	E	C	D
2010～15 年	E	D	E	C	D	C

2　離島について述べた次の文章を読んで、以下の設問に答えなさい。

国連海洋法条約によると「自然に形成された陸地であって、水に囲まれ、高潮時においても水面上にあるもの」を島という。日本は複数の島から成り立ち、本州、北海道、九州、四国、沖縄島を除くものは「離島」と呼ばれる。離島の数は多いが、①面積が小さく、国土面積に占める総面積の割合は５％程度である。離島は平地に乏しく人口も限られ、離島の市町村の財政基盤は弱く、その多くは②人口問題に直面している。③産業は農業や水産業、観光業に依存するが、発展はおくれている。しかし近年、離島の重要性が見直されている。離島は④周辺海域の保全や海洋資源の開発、多様な文化の継承・保存の場として重視され、政府は定住や自立的発展を支援し離島振興をうながしている。

問１　下線部①に関連して、次の表１は日本の島(本州、北海道、九州、四国、沖縄島を除く)を面積の大きい順に並べたものです。これを見て、あとの設問に答えなさい。

表１

順位	島名	面積(km²)	都道府県名
1	択捉島	3,166.6	北海道
2	国後島	1,489.3	北海道
3	佐渡島	854.8	新潟県
4	奄美大島	712.4	鹿児島県
5	対馬	695.7	長崎県
6	(　　)	592.4	兵庫県

順位・面積は令和３年４月１日時点のもの。
「国土地理院技術資料　令和３年全国都道府県市区町村別面積調」により作成。

(1)表中の(　　)に当てはまる島の名称を答えなさい。

(2)表中の佐渡島は氷河期に本州と陸続きだったと考えられています。次の図１は佐渡島周辺の海底のようすについて示したものです。この図では海面が何m低下すると陸続きになるか、最も小さい値をあとのア～エより１つ選び、記号で答えなさい。



図中の曲線は等しい深さを結んだものであり、数値は水深を示す(単位はm)。
Webサイト「みんなの海図」により作成。
図１

ア．300m　　イ．400m　　ウ．500m　　エ．600m

問２　下線部②に関連して、次の図２は、下の図３中のXの五島市における年齢別人口割合の推移について示したものであり、A～Cは15歳未満、15～64歳、65歳以上のいずれかです。A～Cと年齢との正しい組み合わせをあとのカ～サより１つ選び、記号で答えなさい。

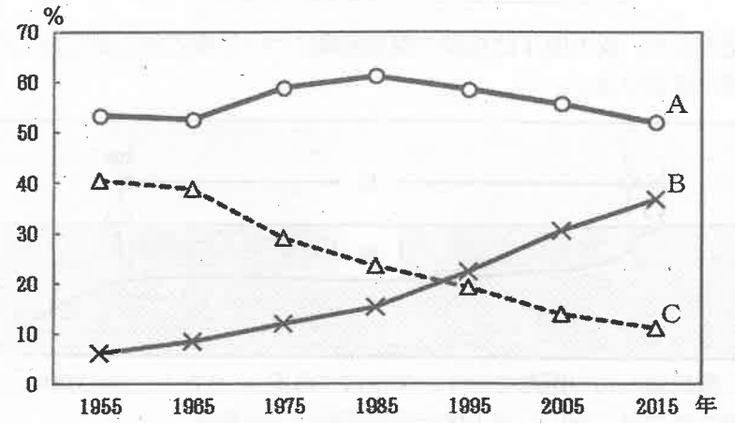

『令和２年版　五島市統計書』により作成。
図２

	カ	キ	ク	ケ	コ	サ
15歳未満	A	A	B	B	C	C
15～64歳	B	C	A	C	A	B
65歳以上	C	B	C	A	B	A

問３　下線部③に関連して、次のⅰ・ⅱの文は、次の図３中のD～Gのいずれかの離島について述べたものです。ⅰ・ⅱの説明文とD～Gとの最も適当な組み合わせを次ページのタ～テより１つ選び、記号で答えなさい。

ⅰ：古来国際的な交通の要衝として栄えたが、その重要性は低下した。マグロの一本釣りや、複雑な海岸の内湾を利用したアワビ漁など、水産業が盛んである。

ⅱ：産業の中心は、製塩業からレモンなどのかんきつ類の生産に移行した。生産された果実は、主として陸路を通じて全国に出荷されている。

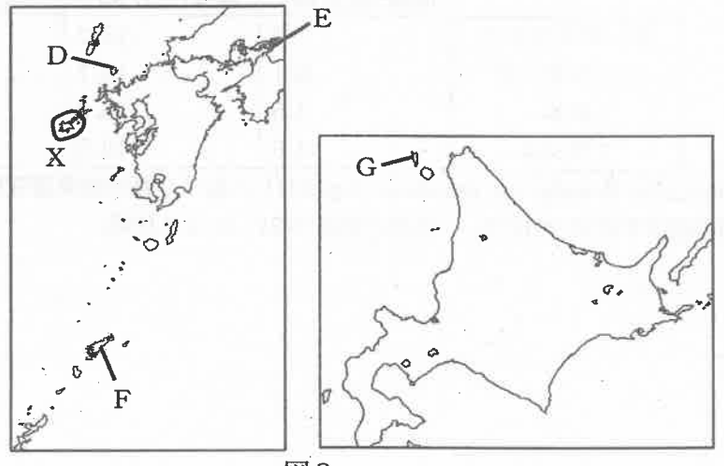

図３

	タ	チ	ツ	テ
i	D	D	G	G
ii	E	F	E	F

問４　下線部④に関連して、次の図４は沿岸の周辺海域について模式的に示したものです。これに関するあとの設問に答えなさい。



数値は干潮時の海岸線からの距離を示す。単位は「海里」。ただし、同じ海域に複数の国が面する場合はこの限りにはならない。海上保安庁の資料により作成。

図４

(1)海域Ｊ・Ｋで沿岸国以外のあらゆる国に認められている権利について述べた次のｉ・ⅱの文の正誤の正しい組み合わせをあとのナ～ネより１つ選び、記号で答えなさい。

ｉ．海域Ｊでの船舶の自由な航行　　ⅱ．海域Ｋの海底での鉱産資源の採掘

	ナ	ニ	ヌ	ネ
i	正	正	誤	誤
ii	正	誤	正	誤

(2)次の表２は、いくつかの国における海域Ｋの面積・体積と国土面積について示したものです。海域Ｋの名称を明らかにしながら、この表から読み取れる日本の海域Ｋの特徴について 30 字以内で述べなさい。

表２

	海域Ｋ		国土面積
	面積(百万 km²)	体積(百万 km³)	(万 km²)
オーストラリア	7.9	18.2	769
インドネシア	6.1	12.7	191
日本	4.5	15.8	38
ブラジル	3.6	10.5	852

Global Maritime Boundaries Database Aug. 2004 に基づく海洋政策研究所の資料により作成。国土面積の統計年次は 2019 年。「世界の統計 2021」により作成。

3 以下の図１・２は、日本の歴史上重要な２つの使節の航路を示したものです。この図を見て、あとの設問に答えなさい。

図１



図２

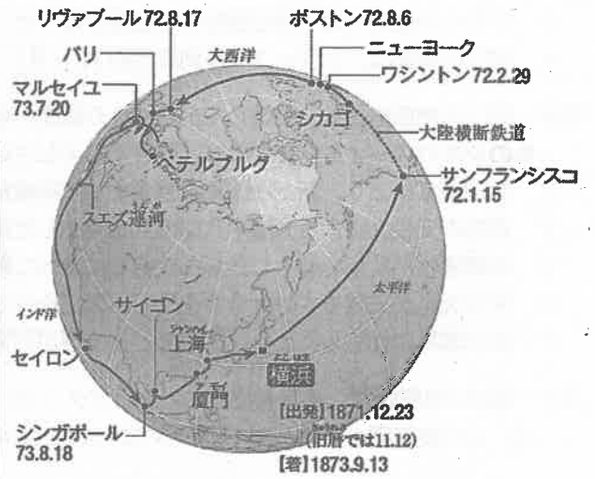

『中学歴史　日本と世界』図版・『高校日本史』図版より引用。

問１　図１の使節の長として日本に来航した人物が、当時の日本政府と結んだ条約の名称を何というか、答えなさい。

問２　図２の使節でアメリカにわたり、女子英学塾を創設するなど日本の女子教育に多大な貢献があり、2024 年度に発行される新紙幣では 5000 円札の肖像とされている人物の名前を答えなさい。

問３　図１に関連して、第二次世界大戦の敗戦後、アメリカ合衆国の管理下に置かれた小笠原諸島は、1968 年に日本に返還されました。小笠原諸島の日本返還よりも後に起こった出来事として、適当なものを次のア～オより**２つ**選び、記号で答えなさい。

ア　神戸を中心に大きな被害を出した阪神・淡路大震災が発生した。
イ　日米安全保障条約がはげしい安保反対闘争の中で改定された。
ウ　日ソ共同宣言が結ばれ、日本とソビエト連邦とが国交を回復した。
エ　大阪にて日本で初めて万国博覧会が開催された。
オ　湯川秀樹が日本人で初めてノーベル賞を受賞した。

問４　図１の使節が停泊した港に関連して述べた次の文Ｘ・Ｙについて、その正誤の組み合わせとして適当なものを、次のア～エより１つ選び、記号で答えなさい。

Ｘ　箱館は、開港後ロシアのレザノフら多くのロシア人が来航し、交易が行われた。
Ｙ　香港は、アヘン戦争に勝利したフランスの植民地となっており、多くの使節が寄港した。

	ア	イ	ウ	エ
X	正	正	誤	誤
Y	正	誤	正	誤

問5　図1・2に関連して、2つの使節の航路に関して、**誤りのもの**を次のア～エより1つ選び、記号で答えなさい。

ア　図1の使節は、アフリカ南部のケープタウンを経由して日本へと向かったことがわかる。
イ　どちらの使節も現在のスリランカにあたるセイロン島(セイロン)を経由していることが図から読み取れる。
ウ　どちらの使節も太平洋を横断して航海を行ったことが図から読み取れる。
エ　図2の使節は、リヴァプール到着後約11ヶ月にわたってヨーロッパを視察したことがわかる。

問6　図1の使節が日本に来航してから図2の使節が帰国するまでに日本で起こった出来事として、**誤りのもの**を次のア～オより**2つ**選び、記号で答えなさい。

ア　徳川慶喜により、新たな陸軍を整備する幕府政治の改革が行われた。
イ　幕府の元役人による大塩平八郎の乱が発生したが、半日で鎮圧された。
ウ　西郷隆盛が反乱を起こしたが、政府軍によって鎮圧された。
エ　明治天皇が王政復古の大号令を出し、天皇を中心とする政治に戻すことを宣言した。
オ　坂本龍馬の仲立ちにより、薩摩藩と長州藩が同盟を結んだ。

問7　図2の使節団は、横浜を出航したあとアメリカへと向かいました。はじめにアメリカへと向かったのは、この使節団の目的と深く関わっています。この使節団が当初かかげた目的を簡潔に記述しなさい。

4 次の文章は、秀英生の秀美さんと英太さんとの会話です。この会話を読み、あとの設問に答えなさい。

英太：今年の修学旅行は滋賀県に行くことになったね。滋賀県ってどんな見所があるのかを調べる宿題、もうやった？
秀美：少しずつ調べ始めているけど、2つのテーマについて調べなきゃいけないのが大変ね。
英太：今の滋賀県の地域は江戸時代までは近江国と呼ばれていたみたいだから、「近江」で検索したらいろいろ出てきたよ。僕は1つ目に①古代に近江国に作られた大津宮と紫香楽宮の2つの都について調べることにしたよ。
秀美：大津宮は海外との戦争に敗れた天智天皇が遷都した後、即位した都として知られているし、紫香楽宮は聖武天皇が大仏造立の詔を出した都として知られているね。どちらの都も国内が危機的状況だった時に近江国に都が置かれているのは面白いよね。私は1つ目には琵琶湖の北西側の地域について調べることにしたわ。京都に近く、自然も豊かだった琵琶湖の北西側の地域は、②12代将軍の足利義晴や13代将軍の足利義輝が戦乱を避けてたびたび逃げ込んでいることがわかったの。
英太：へえ、そうなんだ。確かに戦国時代には「近江を制するものは天下を制す」といわれていたようだし、多くの城が作られたことも知られているね。なので僕は2つ目に琵琶湖の東側に作られた城について調べることにしたよ。③安土城や彦根城など多くの城が作られた城好きにはたまらない地域だよ。それに琵琶湖の東側は④江戸時代になると街道も整備されて、江戸と京都を結ぶ重要な道となったんだ。
秀美：なるほど。私は2つ目には⑤大津事件について調べてみることにしたわ。外国の皇太子が日本人の警官に襲われて国際問題に発展した事件なの。
英太：調べてみると⑥滋賀県って歴史的に重要な出来事がたくさん起こっている都道府県ということがわかって面白かったね。この宿題が終わったら、次は⑦滋賀県に関する人物調べをやらないといけないな。
秀美：完全に忘れていた。早速取りかからないと。

問1　下線部①に関連して、都が大津宮に置かれていた際の出来事として、適当なものを次のア～エより1つ選び、記号で答えなさい。

ア　豪族の蘇我氏を倒し、改新の詔を出して天皇を中心とする国づくりが行われた。
イ　出身地に関係なく、能力や功績のある人物を取り立てる冠位十二階の制度ができた。
ウ　日本で初めての戸籍である庚午年籍が作られた。
エ　唐にならって大宝律令を制定し、律令に基づいた国の支配が始まった。

問2　下線部①に関連して、都を紫香楽宮に遷した聖武天皇の時代の出来事として、適当なものを次のア～エより1つ選び、記号で答えなさい。

ア　唐の貨幣にならって、富本銭や和同開珎が鋳造され、全国に流通した。
イ　藤原道長が、摂政として幼い天皇を支えて政治を天皇に代わり行った。
ウ　豪族の平将門が、一族の領地争いから関東で反乱を起こした。
エ　新しく開墾した土地を私有することを認める墾田永年私財法が出された。

問3　下線部②に関連して、足利義晴や足利義輝が戦乱を避けて京都から近江に逃げ込んだ時期に起こった出来事として、適当なものを次のア～オより1つ選び、記号で答えなさい。

ア　観阿弥と世阿弥の親子が能楽を大成した。
イ　朝廷を監視するために、六波羅探題が京都に設置された。
ウ　南北朝の皇統が足利義満の手によって合一された。
エ　文禄の役・慶長の役の二度の朝鮮出兵が行われた。
オ　フランシスコ＝ザビエルが来航し、キリスト教が伝来した。

問4　下線部③に関連して、安土城が建設された当時は、安土は琵琶湖周辺の小さな湖沼に囲まれていましたが、1942年からある理由により干拓事業が始められました。この干拓が始められた理由として、適当なものを次のア～エより1つ選び、記号で答えなさい。

ア　高度経済成長期にベッドタウン化が進み、住宅に利用する土地が必要になったため。
イ　第二次世界大戦の長期化により、食料を増やすための水田とする土地が必要になったため。
ウ　戦後アメリカ軍の占領下において、琵琶湖周辺に米軍基地を作るための土地が必要になったため。
エ　大正時代に水力発電が急速に普及し、琵琶湖の水を利用して水力発電用のダムを造るための土地が必要になったため。

問5　下線部③に関連して、安土城を築いた人物の行った政治について述べた以下の文章のうち、適当なものを次のア～エより1つ選び、記号で答えなさい。

ア　武士たちに質素・倹約をすすめることでききんからの脱出をはかった。
イ　民衆に広がった一向一揆の勢力と戦い、降伏させることに成功した。
ウ　安土の町に楽市令を出し、特定の商人が利益を独占できるようにした。
エ　鉄砲を大量に利用した戦術により、駿河の今川義元を破ることに成功した。

問6　下線部④に関連して、京都から琵琶湖の東岸を北上しつつ通過して江戸にいたる街道として、適当なものを次のア～オより1つ選び、記号で答えなさい。

ア　奥州道中　イ　山陽道　ウ　中山道　エ　日光道中　オ　東海道

問7　下線部⑤に関連して、以下の文章は、滋賀県で発生した大津事件について秀美さんがまとめた文章です。次ページの文中の空欄X・Yについて、その組み合わせとして適当なものを、次ページのア～カより1つ選び、記号で答えなさい。

1891（明治24）年、来日中の（　X　）皇太子を、警備担当の警官が襲う大津事件が発生した。（　X　）との関係悪化を恐れた政府は、警官を死刑にしようとしたが、当時の大審院（現在の最高裁判所にあたる）長は法律に従って無期懲役を主張し、（　Y　）の独立を守った。

ア　X　ロシア　Y　行政　　イ　X　ロシア　Y　立法　　ウ　X　ロシア　Y　司法
エ　X　イギリス　Y　行政　　オ　X　イギリス　Y　立法　　カ　X　イギリス　Y　司法

問8　下線部⑥に関連して、滋賀県で起こった出来事について述べた以下のア～カの文章を読み、時代の古い順に並べ替えたとき、2番目と5番目になる記号を答えなさい。なお、市町村名は現在のものです。

ア　大津市の瀬田の唐橋で、壬申の乱の最終決戦が行われた。
イ　野洲市の大岩山遺跡で、現在出土している中で最大の銅鐸が作られた。
ウ　近江八幡市を通る朝鮮人街道を利用して、通信使が将軍のもとへと向かった。
エ　栗東市の鉤（まがり）の陣中で、応仁の乱の原因となった9代将軍足利義尚が出陣中に亡くなった。
オ　長浜市の国友村で、伝来してすぐに鉄砲の国産化が進められた。
カ　大津市の石山寺で、紫式部は『源氏物語』の執筆を始めた。

問9　下線部⑥に関連して、滋賀県は、海に面していない内陸県としても知られています。以下のア～オの文章のうち、日本の内陸県にある史跡として適当なものを**2つ**選び、記号で答えなさい。

ア　栃木県の足尾銅山は、明治時代に公害問題が発生し、参議院議員の田中正造が操業の中止を訴えたことで知られている。
イ　佐賀県の吉野ケ里遺跡は、弥生時代の水田の跡や敵の侵入を防ぐための堀の跡が残る大規模な環濠集落として知られている。
ウ　群馬県の富岡製糸場は、多くの工女を集めて綿織物の原料となる生糸を生産し、日本の殖産興業を支えた工場として知られている。
エ　長野県の川中島古戦場史跡は、甲斐の戦国大名武田晴信（信玄）と越後の戦国大名長尾景虎（上杉謙信）との間で数度にわたる戦いが行われた場所として知られている。
オ　奈良県の法隆寺は、厩戸王(聖徳太子)が7世紀にはじめて建造したとされ、再建後の建物は現存する世界最古の木造建築として知られている。

問10　下線部⑥に関連して、滋賀県に隣接する都道府県で起こった出来事について述べた以下の文章のうち、**誤りのもの**を次のア～オより1つ選び、記号で答えなさい。

ア　徳川家康の率いる東軍と石田三成らの率いる西軍が関ヶ原で激突した。
イ　曹洞宗を始めた道元が、中心寺院として永平寺を開いた。
ウ　高度経済成長期には、四日市市を中心とする地域にぜんそくによる被害が発生した。
エ　米の安売りを求める民衆によって、米騒動が最初に発生した。
オ　浄土信仰の広がりの中で、藤原頼通が宇治に平等院を建てた。

問11　下線部⑦に関連して、以下の文章は、滋賀県にゆかりのある3人の人物について秀美さんと英太さんが調べたものです。それぞれ誰のことか、答えなさい。

（1）この人物は、織田信長の家臣として活躍し、琵琶湖畔の長浜城を与えられました。主君である織田信長が襲われ亡くなると、信長を襲った明智光秀を討ちました。
（2）この人物は、彦根に生まれ、幕府の大老として開国を主導しました。江戸城へ登城中に安政の大獄に反対する尊王攘夷派の武士に襲われ亡くなりました。
（3）この人物は、比叡山のふもとに生まれ、平安時代のはじめに唐に渡りました。帰国後は比叡山で天台宗を開いた人物として知られています。

5　次の文章は、2021年度に小学校6年生の蒼さんと緑さんが小学校に入学してから起きた出来事についての会話文です。会話文を読んで、あとの設問に答えなさい。

蒼：入学直後に①熊本地震が発生したことを覚えているよ。
緑：2016年の夏に小池百合子さんが東京都知事に選出され、女性初の都知事になったことも話題だったね。同じ年にトランプさんがアメリカ大統領選挙で勝利したことも覚えているよ。
蒼：2年生の秋には衆議院が解散されて、第48回衆議院議員総選挙があったね。②憲法改正っていう言葉をたくさん聞いた気がするよ。
緑：3年生の夏休みはとにかく暑くて、外で遊ぶこともできなかったよね。夏の猛暑だけでなく、西日本豪雨、北海道地震、台風21号の被害など、自然の脅威を痛感した年だったよ。
蒼：4年生になった2019年は元号が平成から令和に変わったね。秋に消費税が10%になったのも印象的かな。
緑：2019年の夏には、③グレタ・トゥンベリさんの国際連合のサミットでのスピーチと、そのサミットに出席するために飛行機ではなくヨットで大西洋を横断したというニュースに衝撃を受けたな。自分たちがしっかりと世界の問題も考えなくてはいけないと思ったよ。
蒼：2020年の冬に新型コロナウイルスの流行が始まって、行動に制限が多くなったよね。
緑：春から夏にかけては、2度の④補正予算が成立して、国民に一律10万円が給付されたよね。他にも様々な給付金が支払われたよ。この補正予算の財源のために国債を発行したんだよね。
蒼：給付金や助成金の支給が滞ったことで、日本のデジタル化の遅れという課題も顕著になったよ。秋に菅義偉さんが内閣総理大臣に選出されたときには、国の行政のデジタル化を進めることが公約として掲げられていたよね。
緑：2021年に実施された東京オリンピック・パラリンピックのコンセプトでもあった⑤多様性と調和の時代。自分の意見をしっかりと持って、行動に移していく必要があるよね。そのために、中学校でも多くのことを勉強したいな。

問1　二重線部に関連して、東京都の知事、アメリカの大統領、日本の内閣総理大臣の選出方法に関する説明X～Zのうち、内容が適当なものの組み合わせを、あとのア～キより1つ選び、記号で答えなさい。

X　東京都の知事は、東京都民からの直接選挙によって選出される。
Y　アメリカの大統領は、選挙人による選挙によって最終的に選出される。
Z　日本の内閣総理大臣は、内閣で指名されて、国会で任命される。

ア　X　　イ　Y　　ウ　Z　　エ　XとY
オ　XとZ　　カ　YとZ　　キ　XとYとZ

問2　下線部①に関連して、大規模地震が起きたときに活躍する消防庁が所属している省を、次のア～エより1つ選び、記号で答えなさい。

ア　防衛省　　イ　総務省　　ウ　環境省　　エ　国土交通省

問3　下線部②の憲法に関連して、憲法第14条1項の空欄にあてはまる語句を答えなさい。

憲法第14条　1　すべて国民は、[　　]であつて、人種、信条、性別、社会的身分又は門地により、政治的、経済的又は社会的関係において、差別されない。

問4　下線部②に関連して、憲法改正に関する説明W～Zのうち、内容が適当なものの組み合わせを、次ページのア～クより1つ選び、記号で答えなさい。

W　衆議院もしくは参議院で、総議員の３分の２以上の賛成が得られた場合、憲法改正を発議することができる。
X　憲法改正の国民投票では、投票されなかった票は反対票として数えられる。
Y　憲法改正の国民投票は、満 18 歳以上の日本国民に投票権が与えられているが、高校生のうちは投票することができない。
Z　日本国憲法の改正は、最終的に、天皇によって国民の名で公布される。

ア　W　　イ　X　　ウ　Y　　エ　Z
オ　WとX　　カ　XとY　　キ　YとZ　　ク　WとZ

問５　下線部③に関して、次のア～エは、国連の総会やサミットなどの国際的な場で女性が行った有名なスピーチの日本語訳の一部です。グレタ・トゥンベリ氏のスピーチとして適当なものを、次のア～エより１つ選び、記号で答えなさい。なお、文中の・・・は略を表しています。

ア　「・・・オゾン層の穴のせいで日光を浴びるのが怖くなりました。化学物質が心配で息をするのも怖いです。・・・オゾン層の穴をなくす方法も知らないし、汚れた川にサケを呼び戻す方法も絶滅した動物を生き返らせるすべも知りません。砂漠になってしまった森はもう元には戻らないのです。直し方を知らないなら、壊すのはもうやめてください。・・・」

イ　「・・・本とペンを手に取り、全世界の無学、貧困、テロに立ち向かいましょう。それこそ私たちの最も強力な武器だからです。１人の子ども、１人の教師、１冊の本、そして１本のペンが、世界を変えられるのです。教育以外に解決策はありません。教育こそ最優先です。」

ウ　「・・・女性が男性と同じ賃金をもらうことは正しいと考えます。自分自身の身体について自分で決定をすることができると考えます。・・・自分への疑いに対し、こう自分に言い聞かせます。『私でなければ-誰が？』『今でなければ-いつ？』もしみなさんが自分を疑うような場面に出会ったらこの言葉を思い出してくれればと思います。・・・」

エ　「・・・二酸化炭素の排出量を 10 年で半分に減らしたとしても、地球の平均気温上昇を 1.5℃以下に抑えるという目標を達成する可能性は 50%しかありません。・・・若い世代はあなたたちの裏切りに気づき始めています。・・・もしあなたたちが裏切ることを選ぶのであれば、私たちは決して許しません。・・・」

問６　下線部④に関連して、次のグラフは平成 30（2018）年度と令和２（2020）年度の一般会計歳入の内訳を表しています。ただし、令和２（2020）年度は第２次補正後の予算となっています。グラフ中のA～Dにあてはまる語句の組み合わせとして適当なものを、次ページのア～エより１つ選び、記号で答えなさい。

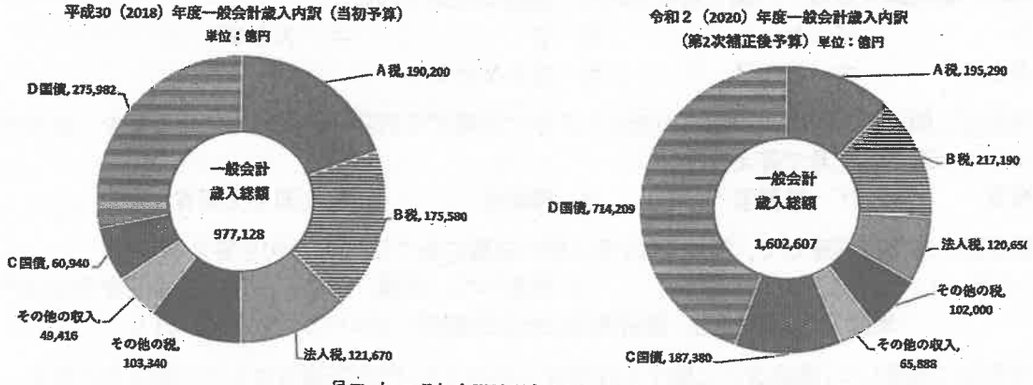

『日本の財政関係資料』平成 30 年 10 月版・令和２年７月版より作成。

	A	B	C	D
ア	所得	消費	建設	特例
イ	所得	消費	特例	建設
ウ	消費	所得	建設	特例
エ	消費	所得	特例	建設

問７　下線部⑤に関連して、次のグラフは世界経済フォーラムが発表している「グローバル・ジェンダー・ギャップ報告書 2021」から作成した、教育、経済、健康、政治の各分野における男女の格差を表した指数を示しています。０が完全不平等、１が完全平等を示します。グラフから読み取れることとして適当なものを、あとのア～カより**２つ**選び、記号で答えなさい。

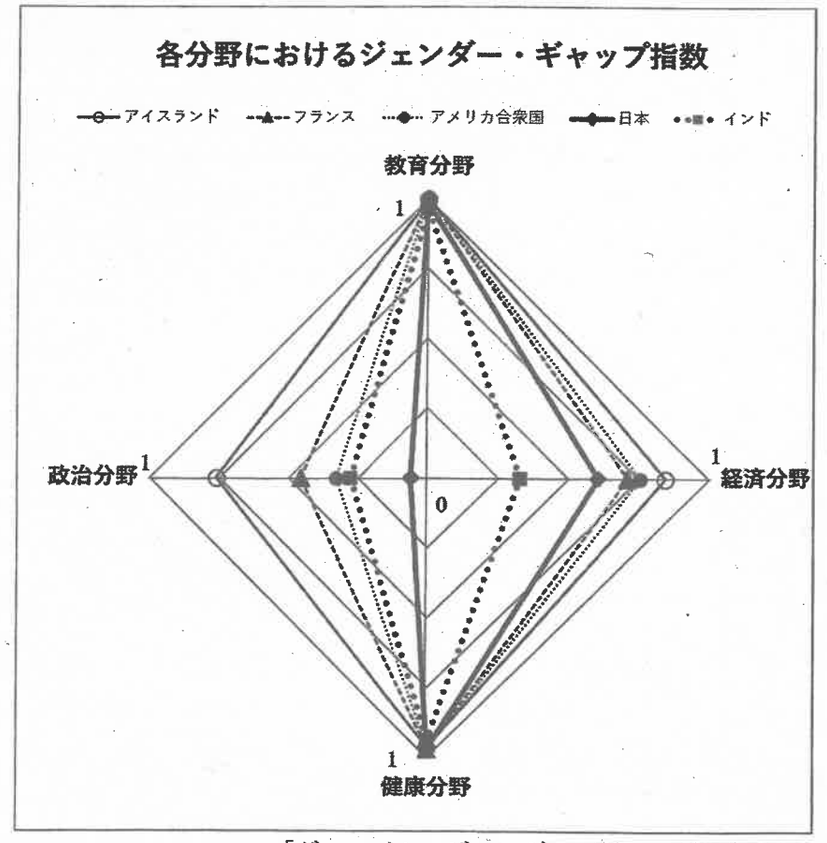

「グローバル・ジェンダー・ギャップ報告書 2021」より作成。

ア　アイスランドは、４分野の数値を平均すると、最も男女の格差が大きい国である。
イ　日本は、４分野の数値を平均すると、最も男女の格差が小さい国である。
ウ　アメリカは、フランスと比べて経済分野での格差が小さいが、政治分野での格差は大きい。
エ　フランスは、インドと比べて経済分野での格差が小さいが、政治分野での格差は大きい。
オ　日本は、アメリカと比べて経済分野も政治分野も格差が大きい。
カ　日本は、インドと比べて経済分野も政治分野も格差が小さい。

2022年度　昭和学院秀英中学校　第１回入学試験（社会）　　解答用紙

学校使用欄 記入しない
Ⅰ
Ⅱ
Ⅲ
Ⅳ
Ⅴ
Ⅵ
Ⅶ

1

問１ 農作物名：＿＿＿＿＿＿＿＿　地形の名称：＿＿＿＿＿＿＿＿

問２　１ ＿＿＿＿＿＿　２ ＿＿＿＿＿＿　問３ ＿＿＿＿

2

問１（１）＿＿＿＿＿＿（２）＿＿＿＿　問２ ＿＿＿＿　問３ ＿＿＿＿

問４（１）＿＿＿

（２）＿＿＿＿＿＿＿＿＿＿＿＿＿＿＿＿＿＿＿＿ 20

＿＿＿＿＿＿＿＿＿＿ 30

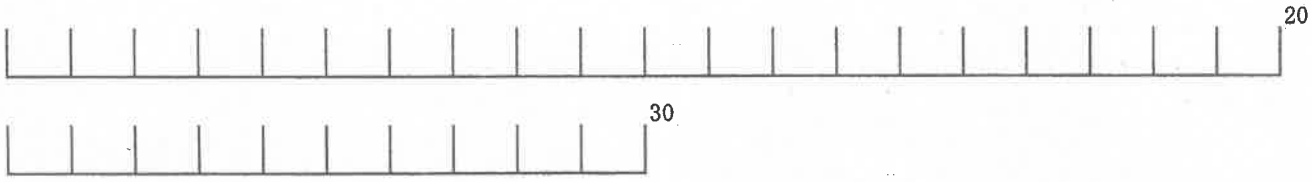

3

問１ ＿＿＿＿＿＿＿＿　問２ ＿＿＿＿＿＿＿＿

問３ ＿＿＿・＿＿＿　問４ ＿＿＿＿　問５ ＿＿＿＿　問６ ＿＿＿・＿＿＿

問７ ＿＿＿＿＿＿＿＿＿＿＿＿＿＿＿＿＿＿＿＿

4

問１ ＿＿＿＿　問２ ＿＿＿＿　問３ ＿＿＿＿　問４ ＿＿＿＿

問５ ＿＿＿＿　問６ ＿＿＿＿　問７ ＿＿＿＿

問８ ２番目：＿＿＿＿　５番目：＿＿＿＿　問９ ＿＿＿・＿＿＿　問10 ＿＿＿＿

問11（１）＿＿＿＿＿＿（２）＿＿＿＿＿＿（３）＿＿＿＿＿＿

5

問１ ＿＿＿＿　問２ ＿＿＿＿　問３ ＿＿＿＿＿＿

問４ ＿＿＿＿　問５ ＿＿＿＿　問６ ＿＿＿＿　問７ ＿＿＿・＿＿＿

受　験　番　号

学校使用欄［合計］（受験生は記入しない）