※全ての問題について、特に指定のない限り、漢字で答えるべきところは漢字で答えなさい。

1 太郎さんと花子さんは、夏休みの間、和歌山県について調べ学習をおこない、2学期にクラスで発表しました。2人の発表を読み、以下の設問に答えなさい。

太郎：和歌山県の人口は、平成27年国勢調査によると約96万人です。

花子：私は和歌山県の①農業の特徴を知るために、いくつかの県と比較し、表にまとめてみました。後ほどまとめた資料を配布しますので見てください。

太郎：和歌山県の北部には、県庁所在地の和歌山市があります。県北部ではさまざまな②工業が発展し、③臨海部には巨大な製鉄所や、家庭用洗剤などを製造する化学工場が立地しています。和歌山市から少し南に行けば、同じく臨海部に火力発電所や製油工場なども立地しています。

花子：和歌山市には県の人口の約38%が集中しています。

太郎：県南部には、古くから温泉地として栄え、現在では温泉・海浜保養地として発展している白浜町があります。遊園地と動物園が併設された白浜アドベンチャーワールドには、1990年代に④中国からパンダが来園しました。パンダの子どももたくさん生まれているため、多くの観光客がおとずれます。

花子：夏季は海水浴場となる「白良浜」の白砂は、本当にきれいです。でも少しずつ波にさらわれて海に流出しているので、流出防止のための養浜事業をおこなっています。その一環で、⑤オーストラリアから白砂を輸入していたこともあるそうです。

太郎：保養地である白浜町の空港には、東京からも直行便が出ています。

花子：白浜町をはじめとする県南部には、大学の水産研究所の研究施設や実験施設、養殖場がいくつも立地しています。この研究所は、世界で初めてマグロの完全養殖に成功したことで知られています。那智勝浦町にある勝浦港もマグロの水揚げ港として有名です。ほかにも県南部には、クジラ漁で有名な太地町があります。県南部は⑥漁業が盛んな地域といえます。

太郎：「紀伊山地の霊場と参詣道」は2004年に世界文化遺産に指定されました。また田辺市の天神崎は、⑦自然や歴史的遺産を市民の募金などで買い取り、開発から守る運動の日本における第1号に指定されています。

花子：次に北山村を紹介します。和歌山県全図である図1を見てください。

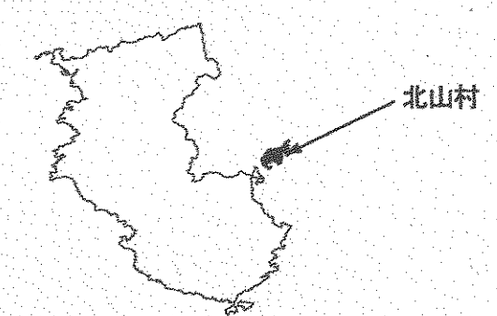

図1

太郎：北山村は、和歌山県のどの市町村とも隣接しない飛び地の村です。北山村は（　A　）半島の中央部に位置し、東と南は（　B　）県、北と西はもう一つの県に接しています。この地域は、昔から良質の杉に恵まれ林業で栄えました。

花子：伐採（ばっさい）された木材はどのようにして運ばれたのですか?

太郎：まず、伐採した木材を束ねて「筏（いかだ）」をつくります。その筏に人が乗り、河川を下ることによって、木材は下流の集積地まで運ばれました。急流の中、命がけで筏を操る人々は「筏師（いかだし）」と呼ばれ、地域住民の尊敬を集めていたようです。

花子：北山村一帯には、多くの筏師が住んでいたのですか？

太郎：そうです。この地域の筏師と木材集積地である新宮の木材業者は、密接な関係にありました。そこで、1871年に廃藩置県が実施され、新宮が和歌山県に編入された際、村民の意見を聞き入れ、和歌山県に編入されたそうです。

花子：なるほど。飛び地になったのはそういう歴史的経緯があったのですね。

太郎：しかし、約600年続いた「筏流し」は近代に入って衰退し、1965年に廃業してしまいました。その後、筏流しの文化と技術を後世に残すために、1979年に現在の⑧観光筏下りが始まりました。

問1　文中の空欄（　A　）、（　B　）に適切な語句をそれぞれ答えなさい。

問2　下線部①に関連して、表1はいくつかの県の農業に関するデータを花子さんがまとめたものです。表中のア～エは、愛知県、富山県、宮崎県、和歌山県のいずれかです。和歌山県に当てはまるものをア～エより1つ選び、記号で答えなさい。

表1

	耕地		稲作（千トン）	農業産出額（億円）		
	水田率（%）＊	耕地率（%）＊＊	収穫量	野菜	果実	畜産
ア	95.6	13.8	205	59	22	93
イ	56.8	14.6	141	1,193	197	893
ウ	29.3	6.9	33	171	816	53
エ	54.0	8.6	81	696	130	2,260

＊水田率＝（水田面積／耕地面積）×100　＊＊耕地率＝（耕地総面積／総土地面積）×100

統計年次は2017年　　『地理データファイル2019年度版』により作成

問3　下線部②に関連して、表2は日本の主な工業製品の生産量の推移を示しており、表中のX～Zは、テレビ、乗用車、パソコンのいずれかです。X～Zと工業製品名との正しい組み合わせをあとのカ～サより1つ選び、記号で答えなさい。

表2

年	X	Y	Z
1950	2	…	…
1960	165	3578	…
1970	3179	13782	…
1980	7038	16327	111
1990	9948	15132	3018
2000	8363	3382	12054
2010	8310	12111	7511
2016	7874	767	4811

単位は千台。表中の…は0もしくは極小を示しています。

『データブック オブ・ザ・ワールド2019』により作成

	カ	キ	ク	ケ	コ	サ
X	テレビ	テレビ	乗用車	乗用車	パソコン	パソコン
Y	乗用車	パソコン	テレビ	パソコン	テレビ	乗用車
Z	パソコン	乗用車	パソコン	テレビ	乗用車	テレビ

問４　下線部③のように、和歌山市やその周辺部では、臨海部に巨大な製鉄所や化学工場が立地しています。これらの施設が一般に臨海部に立地する理由を 30 字以内で述べなさい。

問５　下線部④に関連して、中国について述べた以下のタ～テの文のうち、最も適切なものを１つ選び記号で答えなさい。

タ．2019 年現在、世界で最も人口が多く、その大半はヒンドゥー教徒である。
チ．チベット自治区などでは、独立の動きをめぐって政府と住民との対立がある。
ツ．ピョンヤンを首都とする社会主義国であるが、市場経済の仕組みを取り入れている。
テ．ＢＲＩＣＳ諸国の中では、面積が最も大きい国である。

問６　下線部⑤に関連して、図２はオーストラリアを中心とする地図です。図２中、赤道を示す緯線と東経 140 度を示す経線の組み合わせとして正しいものを以下のナ～ヘより１つ選び、記号で答えなさい。ただし緯線、経線ともに 20 度間隔で引かれています。

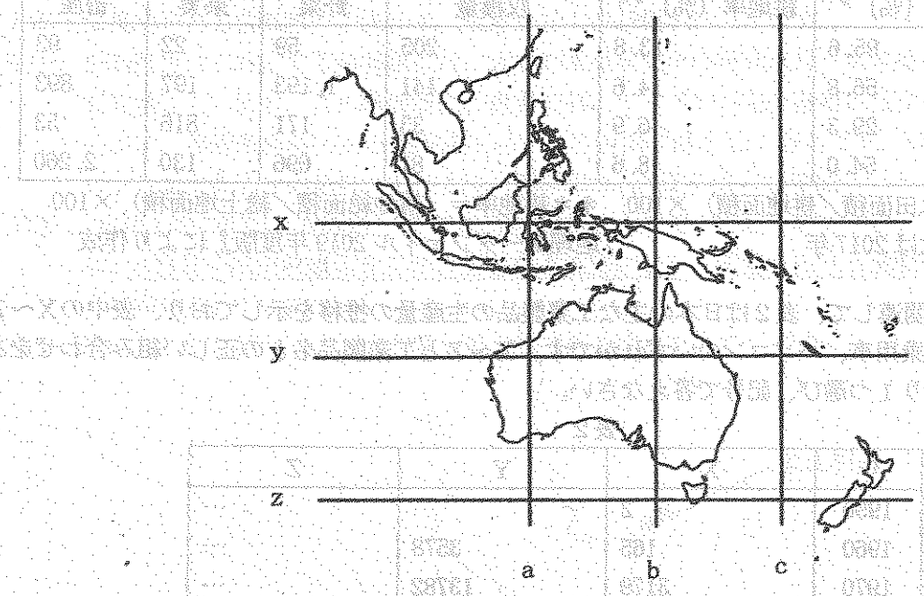

図２

	ナ	ニ	ヌ	ネ	ノ	ハ	ヒ	フ	ヘ
赤道	x	x	x	y	y	y	z	z	z
東経 140 度	a	b	c	a	b	c	a	b	c

問７　下線部⑥に関して、サンマは、成長段階や環境の変化に応じて広い海域を移動します。このような移動を回遊といいます。図３は世界のサンマの漁獲量の推移を、図４はサンマの回遊ルートを示したものです。2019 年、北太平洋の漁業を考える国際会議が開かれました。日本は、近年のサンマ漁の現状から、図４中▬▬線部東側の「X海域のサンマの年間総漁獲量の上限」を設定することを提案しました。X海域の名称を明らかにしつつ図３、図４から読み取れる「日本のサンマ漁の現状とその要因」について 50 字以内で答えなさい。その際、以下の指定語句を使用し、使用した箇所には下線を引くこと。【指定語句：排他的経済水域】

図３

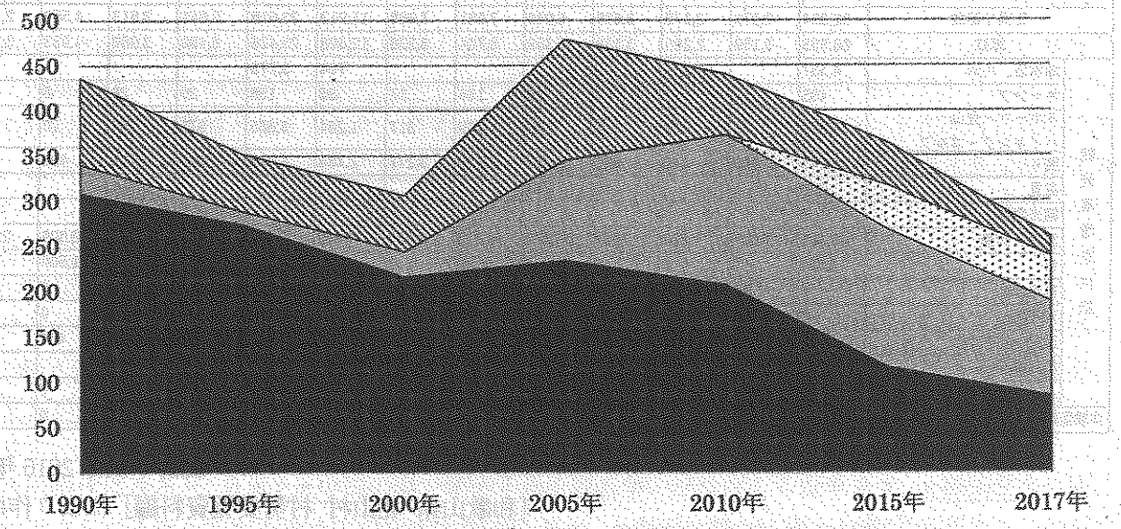

資料：GLOBAL NOTE　出典：FAO

図４

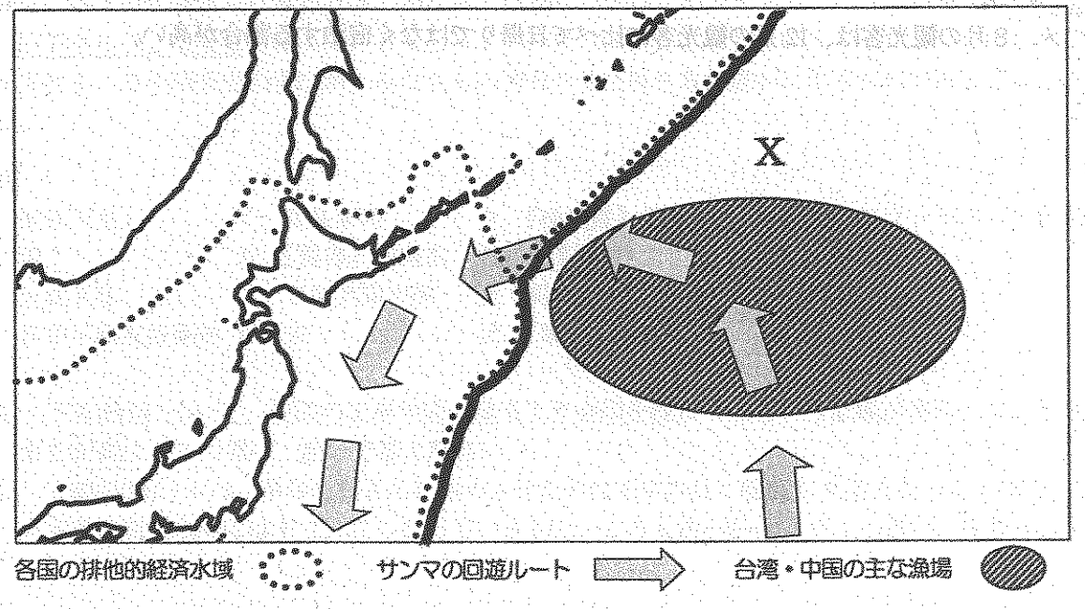

国立研究開発法人 水産研究・教育機構「平成 30 年度　サンマ長期漁海況予報」などにより作成

問８　下線部⑦に関して、イギリスで始まった下線部のような運動を何と呼ぶか答えなさい。

問９　下線部⑧に関連して、表３は北山村を訪れる観光客の内訳を示したものです。表３から読み取れることとその背景について述べたマ～メの文章のうち、誤りのものを１つ記号で選び、記号で答えなさい。

表３

（単位：人）

		総数	1月	2月	3月	4月	5月	6月	7月	8月	9月	10月	11月	12月
宿泊客数		6,821	171	107	264	315	723	368	986	1,813	639	367	381	687
日帰り客数		81,834	2,979	2,178	3,619	5,044	7,981	7,968	11,912	23,615	5,841	3,613	4,552	2,532
総数		88,655	3,150	2,285	3,883	5,359	8,704	8,336	12,898	25,428	6,480	3,980	4,933	3,219
観光客種別内訳	海水浴、川泳	4,537							764	3,773				
	キャンプ	485	5	1	7	16	134	17	86	158	20	28	8	5
	スポーツ・登山・ハイキング・ゴルフ	7,031	28	12	45	131	499	317	1,264	3,665	971	54	10	35
	釣り	18,745	163	140	437	1,317	2,173	3,277	2,784	4,393	2,044	1,119	428	470
	花見	300			100	200								
	観光農園	0												
	温泉、休養	43,801	2,537	1,854	2,966	3,099	4,730	3,633	5,282	9,355	2,847	2,519	2,509	2,470
	祭	1,850	0	0	0	0	0	0	0	350	0	0	1,500	0
	社寺参詣	50	50	0	0	0	0	0	0	0	0	0	0	0
	潮干狩り	0	0	0	0	0	0	0	0	0	0	0	0	0
	風景・自然観賞	5,822	367	278	308	584	552	517	590	1,084	577	248	478	239
	観光施設	5,120					560	295	1,750	2,515				
	その他	914	0	0	20	12	56	280	378	135	21	12	0	0
体験型観光に分類される観光客数		8,913	0	0	0	0	678	368	2,653	4,841	334	39	0	0

統計年次は2016年。

［和歌山県 北山村 村勢要覧資料編］により作成。

マ．観光客総数に占める日帰り客数の割合は９割を超える。

ミ．キャンプに訪れる観光客のうち、約５割が７月、８月に集中している。

ム．温泉、休養目的の観光に比べて、海水浴、川泳や花見、体験型観光は特定の時期にかたよっている。

メ．８月の観光客は、12月の観光客に比べて日帰りではなく宿泊する割合が高い。

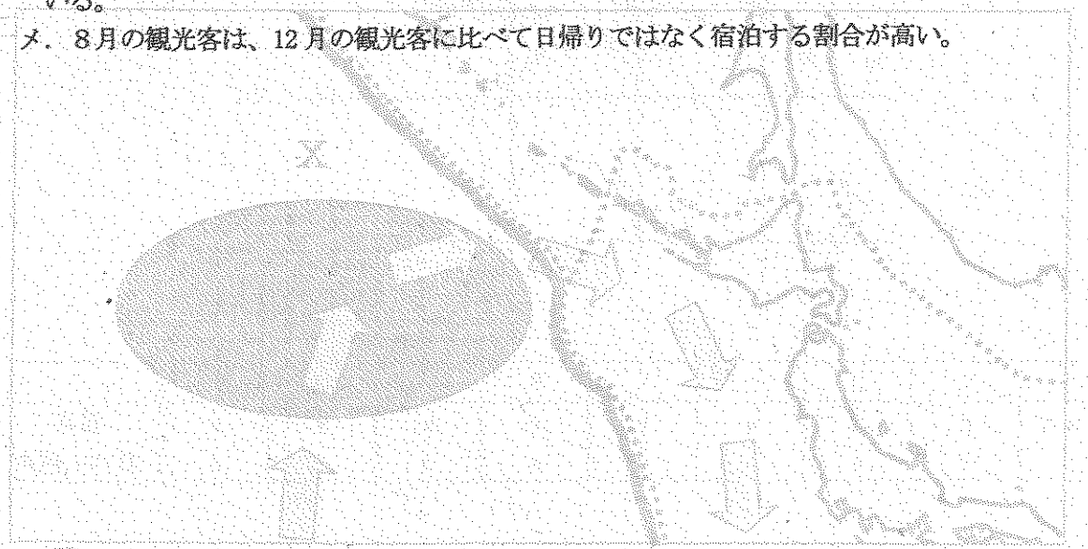

2　次の文章はある授業の記録です。文章と語群を見て、以下の設問に答えなさい。

日本の歴史を語る文章には中国に関わることがらが数多く登場します。中国について述べる背景には単に中国との交流があった事実を伝えるという意図もありますが、それだけでなく中国について言及しないことには日本の歴史を語ることは難しいという事情があるのです。

たとえば、まだ「日本」という言葉すら生まれていない時代、日本には歴史を書物にして記録するという文化があまり定着していませんでした。そのため日本の様子を知るには、①それらを記録した中国の歴史書に頼らざるをえません。だから、古代史を語る文章には必ず中国の歴史書が登場するのです。

中国との関係が日本国内の政治に影響する場合も、中国について述べることをさけられない事例です。飛鳥時代末期に制定された②大宝律令は中国の法制度をもとにつくられたものであり、以後の日本の政治における基盤となりました。当時の中国は日本から見ると多くの面で一歩先を進む地域であり、遣隋使や遣唐使の船に③多くの留学生が同行し、帰国後には彼らが日本の発展に大きな役割を果たしました。鎌倉時代には当時の中国を支配下においていた国家が日本に遠征を行っています。④日本は遠征軍を撃退しましたが、この出来事をきっかけに北条氏の権力が全国に拡大します。これらの政治的な変化を語る上で中国に関することがらを述べずにはいられないでしょう。

日本の経済を語る上でも中国について述べる機会は多いです。平安時代から鎌倉時代にかけて盛んに⑤輸入された（　A　）は日本の経済を大きく発展させました。江戸時代にも⑥中国とは様々な窓口で貿易が行われたことが知られており、中国の文物が江戸時代の日本の経済や文化を豊かにしていたのです。

明治時代になると、日本と⑦中国の間で朝鮮半島を巡る争いがはげしくなります。⑧韓国併合以後、日本はさらなる領土拡大を求めて中国東北地方に進出、⑨中国を舞台に様々な衝突が発生し、やがて日中戦争に発展していきます。このあたりの時代に関しては、背景に関して深く考えなくても、中国について述べる必要性をよく実感できます。

そして現在、ニュースや新聞など様々なメディアで中国に関して述べる場面が多く見られます。日中関係に関する情報を受け取るとき、みなさんは様々な受け止め方をするでしょう。もし⑩これまでの日中が歩んできた歴史を知っているならば、その見方は歴史を知らない人とは違うものになるかもしれません。日中関係史の学びが、みなさんの情報の受け取り方を豊かにするものであってほしいですね。

語群

ア．聖武天皇	イ．北条泰時	ウ．『後漢書』東夷伝	エ．サンフランシスコ平和条約
オ．清	カ．『漢書』地理志	キ．北条義時	ク．天智天皇
ケ．天武天皇	コ．日中共同声明	サ．明	シ．北条時宗
ス．日中平和友好条約	セ．宋	ソ．「魏志」倭人伝	

問１　下線部①について、奴国の王が中国の皇帝より金印を授かったという記録が書かれている歴史書を語群より１つ選び、記号で答えなさい。

問２　下線部②について、律令の編さんを始めさせたのは壬申の乱に勝利し天皇となった人物ですが、大宝律令制定の時にはすでに亡くなっていました。この人物を語群より１つ選び、記号で答えなさい。

問３　下線部③について、留学生として適切な人物を、次のア～エより１つ選び、記号で答えなさい。
ア．鑑真　　イ．最澄　　ウ．親鸞　　エ．行基

問４　下線部④について、この時の執権を、語群より１つ選び、記号で答えなさい。

問５　下線部⑤について、（　A　）はその当時国産のものがすでに存在していましたがその流通範囲は京や畿内にとどまり、10 世紀には造られなくなりました。12 世紀に中国船が入港すると大量の（　A　）が輸入され流通しました。その結果、税を納める方法にも変化が生じていきました。（　A　）とは何かを明らかにした上で、（　A　）の流通がうながした納税における変化について 30 字以内で答えなさい。

問６　下線部⑥について、江戸時代に行われたことのある中国との貿易に関して適切なものを、次のア～エより１つ選び、記号で答えなさい。
ア．対馬藩が琉球王国を支配し、中国との貿易を行った。
イ．勘合を用いて正式な貿易船であるかどうかの確認を行った。
ウ．長崎の倭館に中国人の居住を限定し貿易を行った。
エ．東南アジアには日本町が形成され中国の物産を取り扱った。

問７　下線部⑦について、この「中国」の王朝名を、語群より１つ選び、記号で答えなさい。

問８　下線部⑧について、下の年表に韓国併合を書き加える場合、適切な位置を年表中のア～オより１つ選び、記号で答えなさい。

ア
1876 年　日朝修好条規が結ばれた
イ
1895 年　下関条約が結ばれた
ウ
1900 年　義和団事件が発生した
エ
1915 年　二十一か条の要求が出された
オ

問９　下線部⑨について、この時代の出来事について述べた文章ア～オを読み、左から時代の古い順に並び替えたとき２番目と４番目になる記号を答えなさい。
ア．日本が国際連盟を脱退した。
イ．日本軍が南京を占領した時に多くの中国人捕虜や女性、子どもを殺害した。
ウ．関東軍が奉天郊外の南満州鉄道の線路を爆破し、満州への進出を開始した。
エ．国家総動員法が制定された。
オ．北京郊外で日本と中国が衝突し、これをきっかけに日中戦争が始まった。

問 10　下線部⑩について、日本と中華人民共和国の国交正常化は（　B　）をきっかけに実現しました。（　B　）に入る語句を語群より１つ選び、記号で答えなさい。

3　次の文章は、大問２の授業後の生徒の会話です。文章と語群を見て、以下の設問に答えなさい。

秀男：中国が日本の経済に与えた影響の話をしてたけど、そもそも経済の話って苦手なんだよね。今までどんなこと勉強したっけ？
英子：印象に残っているのは（　1　）の話かな。６歳以上なら男女問わず国から土地がもらえるなんてすごいなあって最初は思ったけど、一緒にいろんな義務が課されるし、何より死んだら土地を返さないといけないのはちょっと残念だよね。
秀男：ああー、そんなこと聞いた覚えあるね。俺は人物が出てこない話は聞き流してしまうんだよね。あっ、だから織田信長の話は覚えてるよ。商工業者の同業者組合、つまり（　2　）の特権を廃止して安土の城下町を豊かにしたんだよね。「さすが信長！」って思った覚えがある。
英子：最近勉強した話くらいは覚えてないの？明治政府の地租改正の話は？政府が全国の土地をわざわざ調査して土地の値段を決めて、その値段の（　3　）の税を納めさせるなんてめんどくさいことしてるなって思ったけど、それは税収の安定のため、なんて目的の話を聞くと、なんか勉強するのが面白くなってこない？
秀男：まあ確かに、背景を聞いてなるほどって思えると授業は面白いかな。そういえば、江戸時代の授業の時に①参勤交代が江戸の発展に貢献したって話をしてたけど、なんでだっけ？
英子：参勤交代？大名たちの負担が重くて大変、みたいな話だけじゃなかったっけ？他の話は私も忘れちゃったなあ。今度授業の時に先生に聞いてみよう。

語群
ア．市　　イ．問　　ウ．座　　エ．三世一身の法　　オ．墾田永年私財法　　カ．班田収授法
キ．１％　　ク．３％　　ケ．５％

問１　文章中の（　1　）～（　3　）に当てはまる語句を、語群よりそれぞれ１つ選び、記号で答えなさい。

問２　下線部①について、参勤交代が行われ大勢の人々が江戸へ向かったことで（　A　）がうながされ、江戸と全国との結びつきがより密接になりました。それは江戸が大都市へと発展した背景の１つとして考えられています。（　A　）に入るべき言葉を考え、５字以内で答えなさい。

4　以下の設問に答えなさい。

問１　静岡市安倍川東岸で発見された、弥生時代の農耕集落の遺跡の名前を答えなさい。
問２　摂関政治の全盛期を受け継ぎ、平等院鳳凰堂を建てた人物の名前を答えなさい。
問３　織田信長や豊臣秀吉に仕え、「唐獅子図屏風」で知られる人物の名前を答えなさい。
問４　ペスト菌の発見で知られ、2024 年度から 1000 円札に描かれる予定の人物の名前を答えなさい。
問５　第一次護憲運動の中心人物の一人として活躍し、五・一五事件発生時に首相の地位にあった人物の名前を答えなさい。

5　次の文章を読み、以下の設問に答えなさい。

①2012 年に成立した社会保障と税の一体改革関連法にもとづいて、消費税は 2014 年に８％、2019 年 10 月に 10％と段階的に引き上げられた。

日本では②少子高齢化にともない、③社会保障の制度がつくられた④1970 年代と比べて、社会保障費用が急激に増加している。国や⑤地方の⑥財政でも、社会保障費用は大きな割合を占めている。一方、⑦税収は不足しており、現在では国の歳入の約３分の１を［　　］の発行に頼っている状況である。政府は、⑧消費税の引き上げにより安定財源を確保することで、社会保障制度を将来安定的に機能させることをめざしている。

問１　文章中の空欄［　　］に当てはまる語句を答えなさい。

問２　下線部①に関連して、法案の成立過程について正しいものを、次のア～エより１つ選び、記号で答えなさい。

ア．衆議院で可決した法案を参議院が 30 日以内に議決しないとき、衆議院の議決のみで法律として成立する。

イ．法案は必ず衆議院に先に提出され、議決をとることになっている。

ウ．衆議院で可決し、参議院で否決した法案は、衆議院で出席議員の３分の２以上の多数で再び可決すると、法律として成立する。

エ．法案は必ず国会議員によって提出されることになっており、内閣による提出は認められていない。

問３　下線部②について、次のグラフは国勢調査によって調べた 1940 年以降の総人口に占める年齢別人口の割合の推移を 15 歳未満、15～64 歳、65 歳以上の３つの区分に分けて表したグラフです。グラフから読み取れる内容として正しいものを、次のページのア～エより１つ選び、記号で答えなさい。

総人口に占める年齢別人口の割合

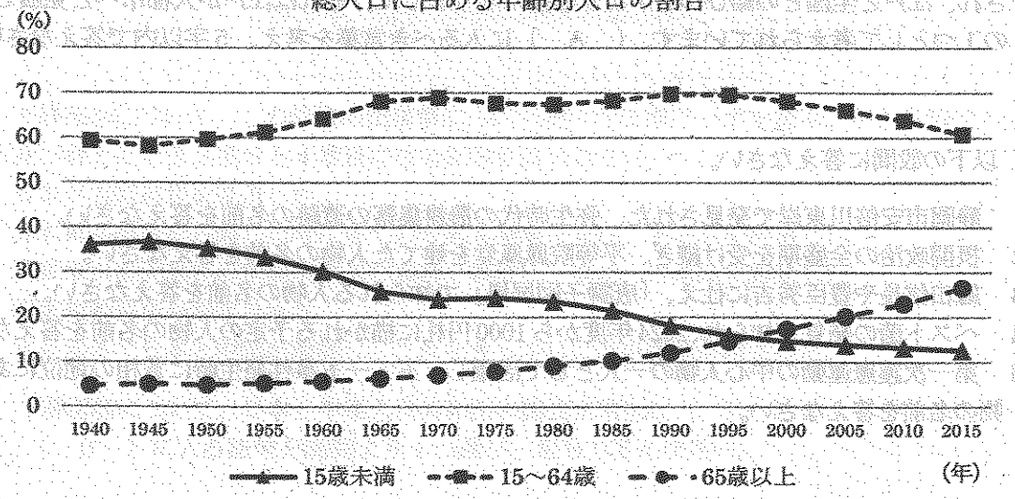

（総務省統計局　国勢調査より作成）

ア．日本は 1970 年代には高齢社会、1990 年代には超高齢社会に突入した。

イ．1990 年代半ばには、15 歳未満の人口の割合が 65 歳以上の人口の割合を下回っていることから人口減少社会に突入したといえる。

ウ．高度経済成長期からバブル崩壊まで、15～64 歳の人口の割合は増加し続けている。

エ．2015 年には、65 歳以上の人口が総人口の４分の１を占めている。

問４　下線部③に関連して、社会福祉の観点から、あらゆる人が、障がいの有無や年齢の違いなどにかかわらず、ともに生活できる社会を築こうとする考え方を何というか答えなさい。

問５　下線部④について、1970 年代に起こったできごととして正しいものを、次のア～オより２つ選び、記号で答えなさい。

ア．東西冷戦の象徴とされるベルリンの壁が崩壊し、翌年、東西に分裂していたドイツが統一された。

イ．政治的、経済的、社会的分野での女性への差別をなくすため、女子差別撤廃条約が採択された。

ウ．人権を守るための取り組みとして、国際的な人権の保障の基準を示す、世界人権宣言が採択された。

エ．「持続可能な開発」をスローガンにリオデジャネイロで国連環境開発会議が開催され、気候変動枠組み条約が採択された。

オ．第一次石油危機に対して、先進諸国の経済問題を協議するため、第一回先進国首脳会議（サミット）が開催された。

問６　下線部⑤に関連して、地方公共団体の首長についての説明として正しいものを、次のア～エより１つ選び、記号で答えなさい。

ア．有権者の３分の１以上の署名にもとづく監査請求があった場合に、首長は監査を実施して結果を公表する。

イ．首長は議会によって指名されるのではなく、住民によって直接選挙で選ばれる。

ウ．議会は首長に対する不信任決議権を持っているが、首長が議会を解散するためには有権者による署名が必要となる。

エ．地方議会は住民によって選ばれた議員によって構成されるため、首長は議会の決定に対する拒否権を持たない。

問７　下線部⑥に関連して、予算案を作成する機関が行う仕事として正しいものを、次のア～オより２つ選び、記号で答えなさい。

ア．条約を締結する。

イ．弾劾裁判を行う。

ウ．国政調査権を行使する。

エ．最高裁判所長官を指名する。

オ．法律を公布する。

問８　下線部⑦に関連して、日本国憲法第 30 条には国民には「納税の義務」があることが定められています。この他に、憲法に定められている国民の義務は「普通教育を受けさせる義務」と「（　　）の義務」があります。（　　）に当てはまる語句を答えなさい。

問９　下線部⑧について、なぜ消費税の引き上げにより安定財源の確保が可能になるのか、所得税を引き上げた場合と比較して説明しなさい。

2020年度　昭和学院秀英中学校　第１回入学試験（社会）　解答用紙

学校使用欄 記入しない
I
II
III
IV
V
VI
VII
VIII
IX
X
XI

1

問１（A）＿＿＿＿＿＿　（B）＿＿＿＿＿＿　問２＿＿＿＿＿＿　問３＿＿＿＿＿＿

問４＿＿＿＿＿＿