訂正　社会

大問【7】
問５の問題文に誤りがありました。

誤：ア～ウにあてはまる組み合わせ
↓
正：Ａ～Ｃにあてはまる組み合わせ

以上

2026年度

慶應義塾湘南藤沢中等部入学試験問題

社　会

	千位	百位	十位	一位		
受験番号					氏名	

注　意　1. 受験番号と氏名は，問題用紙および解答用紙のそれぞれに必ず記入すること。

2. 受験番号は，下記のように所定のらんに一字一字記入すること。

〔例〕　7 → 0007

77 → 0077

777 → 0777

4007 → 4007

3. 解答用紙の右下の ○ の中に受験番号の一の位を算用数字で記入すること。

4. 解答は，必ず解答用紙の所定のらんに記入すること。

5. 問題用紙の余白は下書きに用いてよろしい。

6. この冊子の総ページ数は 8 ページである。

《指示があるまで開かないこと》

【１】 慶一君は九州地方（沖縄県を除く）について調べました。次の文を読み，問いに答えなさい。

(ア)九州地方は農業がさかんで，特産物になっている農産物もあります。(イ)筑後川の下流に広がる筑紫平野は農産物の主要な産地の一つです。九州地方には(ウ)活発な活動が見られる火山がたくさんあります。火山の近くには温泉があり，世界から観光客が訪れます。一方で，(エ)噴火による災害に備える必要があります。

問１　下線（ア）について，下の図１は九州地方の農業産出額の変化を示したものです。図１中のＡ～Ｃは，それぞれ米，野菜，畜産のいずれかをあらわしています。図１中のＡ～Ｃと米，野菜，畜産の正しい組み合わせを選び，番号で答えなさい。　（農林水産省九州農政局編「のぞいてみよう！九州の農業～2025～」より作成）

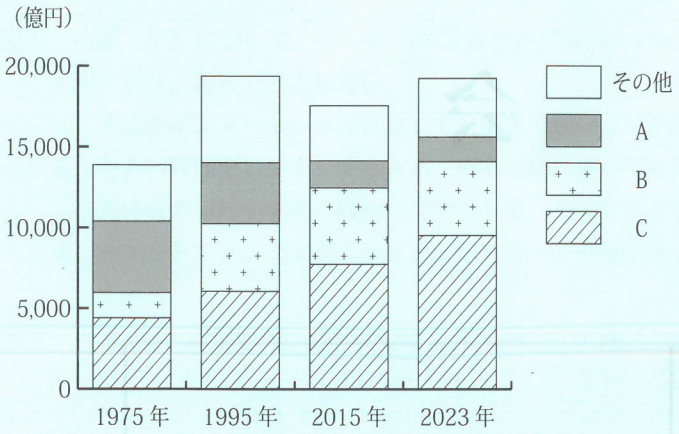

図１　九州地方の農業産出額の変化

	1	2	3	4	5	6
A	米	米	野菜	野菜	畜産	畜産
B	野菜	畜産	米	畜産	米	野菜
C	畜産	野菜	畜産	米	野菜	米

問２　下線（イ）について，慶一君は筑後川の河口の近くに城があったと考えられる場所を地図で見つけました。地図から読み取れることとして適当でないものを選び，番号で答えなさい。地図の方位は北が上です。



1　地図中のP，Q，R，Sを結んだ水路があり，かつては城の堀だった。

2　地図の北東には寺が集まっている場所がある。

3　地図中のDは平らな土地が水田に利用されている。

4　地図中を南北に流れる河川の両岸は切り立った岩に囲まれた崖になっている。

問３　下線（ウ）について，図２中のＸ－Ｙの地形の特ちょうを示した断面図として最も適するものを選び，番号で答えなさい。

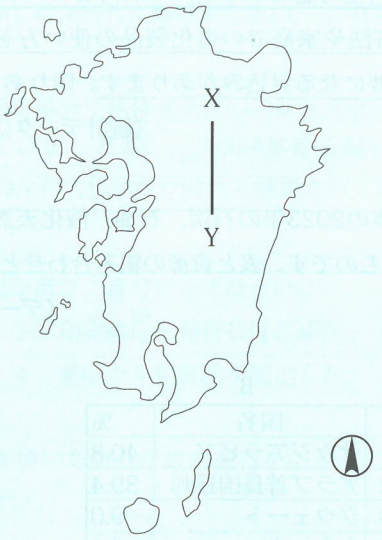

図２

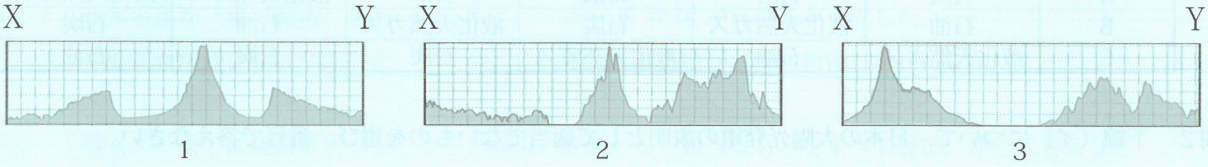

問４　下線（エ）についての説明として適当でないものを選び，番号で答えなさい。

1　噴火のきざしをとらえるために，気象庁が火山の観測を続けている。

2　噴火が起きたときに危険になる場所を，ハザードマップで確かめておく。

3　近くで火山が噴火してもできるだけ家にとどまれるように，水や食料を備蓄（ちく）しておく。

4　噴火が起こったときに支援（えん）してもらう約束を，協力可能な自治体と結んでおく。

【２】 次の文を読み，問いに答えなさい。

(ア) 日本の一次エネルギー供給はおよそ８割が化石燃料で，ほとんどを輸入に頼っています。近年，地球温暖化の対策として化石燃料の利用を控えて，(イ) 再生可能エネルギーや未利用のエネルギー源を積極的に活用する取り組みが行われています。(ウ) 電力の供給方法や家庭での電化製品の使い方を見直すことも大切です。一方で (エ) 新しい技術の運用には大きな電力が必要になる見込みがあります。限りある資源を有効に用いることが求められています。

（統計データは『日本国勢図会2025/26』より）

問１　下線（ア）について，表Ａ～Ｃは日本の2023年の石炭，石油，液化天然ガス（LNG）の輸入先について上位４か国の全体に占める割合を示したものです。表と資源の組み合わせとして最も適するものを選び，番号で答えなさい。

（データは『日本のすがた2025』より）

A

	国名	%
1	オーストラリア	64.2
2	インドネシア	15.5
3	カナダ	7.5
4	アメリカ合衆国	6.9

B

	国名	%
1	サウジアラビア	40.8
2	アラブ首長国連邦	39.4
3	クウェート	9.0
4	カタール	4.9

C

	国名	%
1	オーストラリア	41.6
2	マレーシア	15.6
3	ロシア	9.3
4	アメリカ合衆国	8.4

	1	2	3	4	5	6
A	石炭	石炭	石油	石油	液化天然ガス	液化天然ガス
B	石油	液化天然ガス	石炭	液化天然ガス	石油	石炭
C	液化天然ガス	石油	液化天然ガス	石炭	石炭	石油

問２　下線（イ）について，日本の太陽光発電の説明として適当でないものを選び，番号で答えなさい。

1　太陽光発電の発電量は，天候によって変化する。

2　薄くて，さまざまな場所に設置できる発電パネルが開発されて，発電量の増加が期待されている。

3　大規模に太陽光発電パネルを設置する，メガソーラーの建設は自然環境への影響を心配する意見がある。

4　太陽光発電の電力はすべて国が買い取って，電力会社に供給している。

問３　下線（ウ）について，日本の電力の供給と消費について説明した文として適当でないものを選び，番号で答えなさい。

（統計の数値は『日本国勢図会2025/26』より）

1　電力の消費量は第二次大戦後，増加を続けていたが東日本大震災を経て2022年にかけて減っている。

2　時間帯や季節によって電力の使用量が大きく変化しても，発電量は年間を通じて一定で余裕がある。

3　地域ごとに電力が供給されるしくみが自由化されて，安い値段で電力を提供する会社があらわれた。

4　ロシアによるウクライナ侵攻の影響でエネルギー資源の価格が高くなり，電気料金も値上がりした。

問４　下線（エ）にあてはまらないものを選び，番号で答えなさい。

1　人工知能（AI）　　2　リニア新幹線　　3　データセンター　　4　LED照明

【3】 次の文A・Bを読み，問いに答えなさい。

A

(ア)聖武天皇が命じて作らせた東大寺の大仏は，(イ)1180年の戦乱によって焼けてしまいましたが，復興再建されました。しかし戦国時代に焼けてしまい，(ウ)江戸時代に再建され，現在に伝わっています。

B

鎌倉高徳院の大仏は(エ)鎌倉幕府で執権北条氏の力が強くなった1250年ごろに作られました。もともとは大仏殿の中に置かれていましたが，(オ)1334年から続いた大風と，その後の大地震で大仏殿は失われてしまいました。傷んだ大仏は江戸時代に修復されています。

問1　下線（ア）がおこなった政策を選び，番号で答えなさい。

1　平安京に遷都した。　　2　和同開珎を発行しはじめた。
3　大宝律令を制定した。　　4　墾田永年私財法を制定した。

問2　下線（イ）の時に，東大寺を焼いた勢力が政治権力をにぎっていました。その勢力とは何か，解答らんに合うように漢字2字で答えなさい。

問3　下線（ウ）の時は，元禄文化がさかえていました。元禄文化の説明として正しいものを選び，番号で答えなさい。

1　松尾芭蕉が『奥の細道』をあらわした。　　2　千利休がわび茶を大成した。
3　葛飾北斎が浮世絵で活躍した。　　4　杉田玄白が『解体新書』を刊行した。

問4　下線（エ）までに鎌倉幕府がおこなった政策の説明として適当なものをすべて選び，番号で答えなさい。

1　永仁の徳政令を出して貧しい御家人を救済しようとした。
2　御成敗式目を制定して裁判の基準をあきらかにした。
3　モンゴルの襲来に備えて九州の警備を強め，石塁を築いた。
4　後鳥羽上皇側を戦いで破り，六波羅探題を設置した。

問5　下線（オ）の時に，政権をになっていた人物を選び，番号で答えなさい。

1　北条政子　　2　後醍醐天皇　　3　後白河天皇　　4　足利尊氏　　5　新田義貞

問6　AとBで説明された大仏は金属で作られています。右の表はそれぞれの大仏および中国，宋の貨幣（宋銭）がどのような金属から作られているか分析したものです。表から読み取れることとして適当なものを選び，番号で答えなさい。

（黒田明伸『歴史のなかの貨幣』より作成）

表　大仏と宋の貨幣の金属の割合（単位：%）

（注）各項目の合計は100%になっていない。

	A	B	宋銭
銅	91.60	67.04	67.35
すず	2.46	8.42	7.58
鉛	1.61	＊ 23.94	24.66
鉄	0.37	0.02	0.48

＊分析により中国産と判明している。

1　Aが初めて作られた時代のほうがBの時代よりも銅の国内産出量が多かった。
2　Aが初めて作られた時代のほうがBの時代よりも鉄の国内産出量が多かった。
3　Aは宋から輸入した銅銭を材料としてつくられた。
4　Bは宋から輸入した銅銭を材料としてつくられた。

【４】 次の表は，1592年から1871年にかけての全国の石高を示しています。問いに答えなさい。

A	1592年	1,846万石
B	1688年～1704年	2,577万石
C	1832年	3,040万石
D	1871年	3,162万石

（『日本史料集成』より作成）

問１　石高に関する説明として誤っているものを選び，番号で答えなさい。

1　豊臣秀吉は，全国的な検地を行い，石高を正確に測ろうとした。
2　江戸幕府は，１万石以上の石高を与えた武士を大名とした。
3　外様大名は，武家諸法度により，石高を増やすことを禁止されていた。
4　明治政府は，地租改正を行い，徴税の基準を石高から地価に変えた。

問２　Ａの年の出来事として正しいものを選び，番号で答えなさい。

1　朝鮮侵略　　2　関が原の戦い　　3　長篠の戦い　　4　島原・天草一揆

問３　ＡからＢにかけて石高は大きく増加しています。その理由の説明として誤っているものを選び，番号で答えなさい。

1　新田開発が進み，より多くの土地で耕作が行われるようになったから。
2　備中ぐわなどの新しい農具により，効率的な農作業が行われるようになったから。
3　二毛作が始まり，１年に２回，農作物を収穫することができるようになったから。
4　干した魚を用いるなど，肥料の工夫が広がり，生産量が増えたから。

問４　Ｂのころの幕府についての説明として適当なものを選び，番号で答えなさい。

1　豊臣氏を滅ぼして，対抗する勢力をなくした。
2　全国の大名に参勤交代を行うことを制度として定めた。
3　人びとに質素な生活をすることを求め，財政の改善につとめた。
4　儒学を政治の中心とし，文治政治をすすめた。

問5　Ｃのころに，最も近い時期に起きたことを選び，番号で答えなさい。

1　長崎に，オランダ人の行動を制限するため，出島がつくられた。
2　大阪で，幕府の役人による反乱が起きた。
3　江戸に，人びとの意見を集めるため，目安箱が設置された。
4　京都で，幕府を倒すための運動が本格化した。

問6　ＣからＤの間に起きたできごとの説明として，正しいものには○，誤っているものには×を記しなさい。

1　大きな飢饉が起きたため幕府は天保の改革を行うが，そのやり方を批判する者もいた。
2　日米修好通商条約が結ばれた後，食料の輸入が行われたことで米の価格が下がった。
3　版籍奉還により，大名が持っていた土地と人民を天皇に返させ，政府から新たな役人が送られた。

【５】 次の文を読み，問いに答えなさい。

Ａ　日本軍は，ハワイの真珠湾にある基地を攻撃し，アメリカ合衆国との戦争をはじめた。
Ｂ　日本軍は，(ア)南満州鉄道の線路を爆破したが，中国軍がおこなったといいがかりをつけ，満州（中国東北部）を攻撃，占領した。
Ｃ　日本軍は，ソビエト連邦（ソ連）軍から満州や樺太，朝鮮で一斉に攻撃を受けた。
Ｄ　日本軍は，盧溝橋で中国軍と衝突し，その翌月に上海，12月には当時の中国の首都だった（　あ　）を攻撃して戦争は拡大していった。

問1　Aとほぼ同時に日本が戦争を開始した国を選び，番号で答えなさい。
1　イギリス　　2　フランス　　3　ドイツ　　4　イタリア

問2　下線（ア）を日本が経営するきっかけとなったできごとを選び，番号で答えなさい。
1　西南戦争　　2　日露戦争　　3　日清戦争　　4　第一次世界大戦

問3　Cと同じ年月に起きたできごとを選び，番号で答えなさい。
1　東京大空襲　　2　長崎への原爆投下　　3　学徒出陣の開始　　4　沖縄戦の終結

問4　空らん（　あ　）にあてはまる地名を選び，番号で答えなさい。
1　西安　　2　北京　　3　香港　　4　南京

問5　AからDのできごとを古い順に並べなさい。

【6】次の文を読み，問いに答えなさい。

「戦後80年」という言葉は，この80年間，日本で戦争が起こらなかったことをあらわしていますが，世界を見渡してみると，戦争はいまも各地で起きています。(ア)日本国憲法第9条には，(イ)日本の安全保障に関して平和主義という考え方が定められています。近年は，(ウ)戦争だけでなく，災害や感染症，貧困や紛争などに苦しむ一人ひとりに目を向け，手を差し伸べることの重要性が叫ばれています。(エ)日本が世界の中で果たす役割について，これからも考えていく必要があります。

問1　下線（ア）について，以下の条文の空らん（　あ　）（　い　）にあてはまる語句をそれぞれ漢字2字で答えなさい。

> ①　日本国民は，正義と秩序を基調とする国際平和を誠実に希求し，（　あ　）の発動たる戦争と，武力による威嚇又は武力の行使は，国際紛争を解決する手段としては，永久にこれを放棄する。
> ②　前項の目的を達するため，陸海空軍その他の（　い　）は，これを保持しない。国の交戦権はこれを認めない。

問2　下線（イ）について，自衛隊や在日米軍に関する説明として適当なものを選び，番号で答えなさい。
1　内閣総理大臣に権力が集中しすぎないように，自衛隊の最高指揮監督権は，防衛大臣にある。
2　日本は専守防衛のため，自衛隊がPKO（国連平和維持活動）に参加することを認めていない。
3　1960年に改定された日米安全保障条約によって，日本の集団的自衛権の行使が容認された。
4　朝鮮戦争をきっかけに日本で警察予備隊が発足し，その後，保安隊，自衛隊へと変遷した。

問3　下線（ウ）について，このような考え方を何といいますか。適当なものを選び，番号で答えなさい。
1　人間の安全保障　　2　地球の安全保障　　3　平和の安全保障　　4　人権の安全保障

問4　下線（エ）について，日本が行っているODA（政府開発援助）に関する説明として，適当でないものを選び，番号で答えなさい。
1　ODAとは，先進国が発展途上国に資金や技術を提供する援助のことである。
2　傷病者の保護を目的とした日本赤十字社による無償援助もODAに含まれる。
3　日本は自助努力を基本としているため，有償での資金援助の割合が高い。
4　日本のODA実施機関であるJICAでは，青年海外協力隊の派遣を行っている。

【7】次の文を読み，問いに答えなさい。

(ア) コンビニエンスストアやスーパーマーケットでは食料品や日用品をはじめとして数多くの商品が販売されています。そして，それらのお店では様ざまな情報を活用して商品を管理しています。例えば，(イ) 商品を売る時に読みとったバーコードから，売れた商品の個数や時間などの情報を記録し，今後の商品発注や新しい商品の開発などに利用しています。

また，近年では，(ウ) 情報通信技術を活用して店頭で多様なサービスを受けることができます。コンビニエンスストアに設置してあるマルチコピー機などで（　あ　）をすることができるのはその例です。そして，私たちが買い物をする際にも情報通信技術が使われています。最近では (エ) キャッシュレス決済が増えてきました。この方法で買い物をした際にも（　い　）者の情報が記録され，新たな分析に利用されることがあります。

問1　下線（ア）について，コンビニエンスストアやスーパーマーケットの販売に関する説明として適当でないものを選び，番号で答えなさい。

1　商品をインターネットで注文して自宅まで届けてくれるサービスがある。
2　売上の管理をしやすくするため，商品を棚に並べてから値段が変わることはない。
3　人件費の節約や混雑の緩和を目的として，セルフレジを設置しているお店がある。
4　スマートフォンのアプリからポイントカードや割引クーポンを利用できる。

問2　下線（イ）について，このシステムの名称として適当なものを選び，番号で答えなさい。

1　ECOシステム　　2　POSシステム　　3　ETCシステム　　4　ATSシステム

問3　下線（ウ）をアルファベット3文字であらわしなさい。

問4　空らん（　あ　）にあてはまるものとして適当でないものを選び，番号で答えなさい。

1　スポーツやコンサートのチケットの購入
2　住民票や印鑑登録証明書など自治体の証明書の取得
3　保険への加入や検定の申し込みの手続き
4　パスポート（旅券）の発行や更新

問5　下線（エ）について，次の表は2016～2024年のキャッシュレス決済による決済額を示したものです。ア～ウにあてはまる組み合わせとして適当なものを選び，番号で答えなさい。

表　（単位：兆円）

	2016年	2017年	2018年	2019年	2020年	2021年	2022年	2023年	2024年
A	53.9	58.4	66.7	73.4	74.5	81.0	93.8	105.7	116.9
B	5.1	5.2	5.5	5.8	6.0	6.0	6.1	6.4	6.2
C	－	－	0.2	1.0	3.2	5.3	7.9	10.9	13.5

（経済産業省資料より作成）

1　A　電子マネー　　B　クレジットカード　　C　コード決済
2　A　電子マネー　　B　コード決済　　C　クレジットカード
3　A　クレジットカード　　B　電子マネー　　C　コード決済
4　A　クレジットカード　　B　コード決済　　C　電子マネー

問6　空らん（　い　）にあてはまる語句として適当なものを選び，番号で答えなさい。

1　生産　　2　流通　　3　消費　　4　供給