2024年度

慶應義塾湘南藤沢中等部入学試験問題

社　会

	千位	百位	十位	一位		
受験番号					氏名	

注　意　1. 受験番号と氏名は，問題用紙および解答用紙のそれぞれに必ず記入すること。

2. 受験番号は，下記のように所定のらんに一字一字記入すること。

〔例〕　7 → 0007

77 → 0077

777 → 0777

4007 → 4007

3. 解答用紙の右下の ○ の中に受験番号の一の位を算用数字で記入すること。

4. 解答は，必ず解答用紙の所定のらんに記入すること。

5. 問題用紙の余白は下書きに用いてよろしい。

6. この冊子の総ページ数は 8 ページである。

《指示があるまで開かないこと》

【１】 図１を見て，以下の問いに答えなさい。

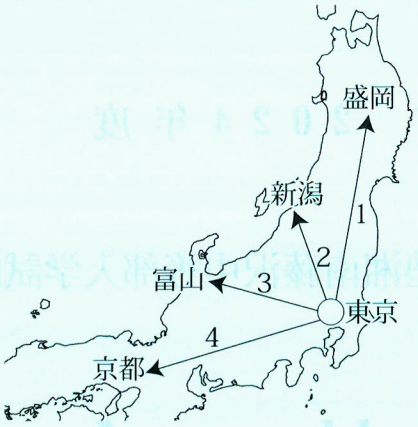

図１

問１　図２は，東京駅（上野駅を含む）から各駅への所要時間を示しています（新幹線開業前は在来線経由）。Ａ～Ｄを図１の１～４から選び，番号で答えなさい。

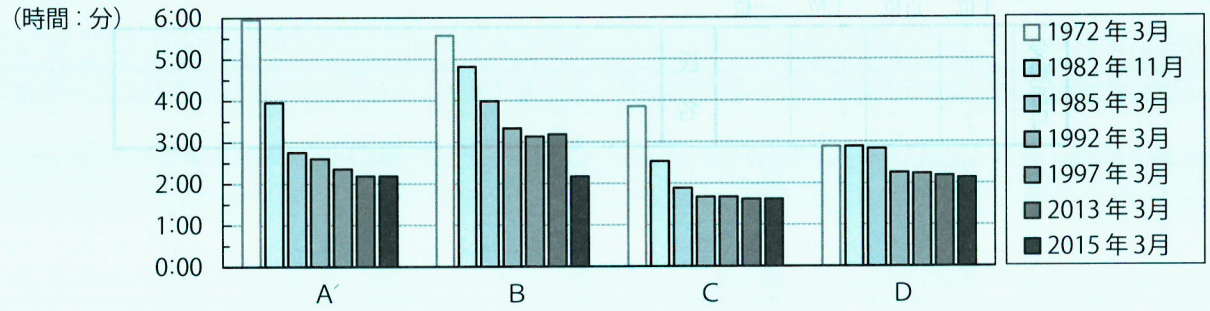

図２（『交通公社の時刻表』『JTB時刻表』各年各月号より作成）

問２　図３は，新幹線の路線断面図を示しています。トンネル区間は，地表面の標高を表しています。Ｅ・Ｈの路線を，図１の１～４から選び，番号で答えなさい。

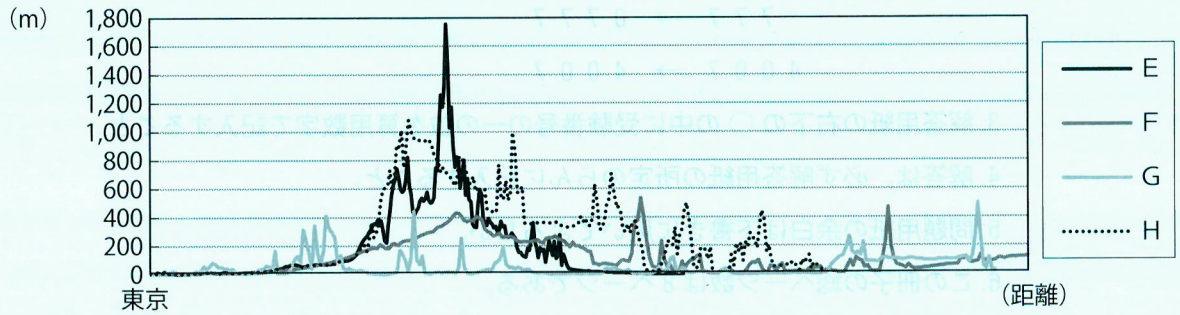

図３

（国土地理院 地理院地図より作成）

問３　表１は，農業・工業生産額を都道府県別に示しています。Ｉ～Ｌの都道府県が含む駅を選び，番号で答えなさい。

表１　（単位：億円）

	農業生産額					工業生産額					
	米	畜産	野菜	果実	計	機械	金属	化学	せんい	食品	計
Ｉ	1,503	485	321	92	2,526	17,570	8,663	8,476	733	8,488	49,589
Ｊ	566	1,628	292	142	2,741	14,471	2,457	1,494	274	4,105	26,262
Ｋ	171	125	250	19	642	22,210	3,869	3,784	967	7,397	56,588
Ｌ	434	78	54	23	629	11,643	9,897	9,647	560	1,988	39,124

計は，その他を含む。　（令和２年生産農業所得統計，2020年工業統計調査より作成）

１　盛岡　　２　新潟　　３　富山　　４　京都

問４　次のＭ～Ｐの文学作品と最もかかわりの深い沿線を含む路線を，図１の１～４から選び，番号で答えなさい。

Ｍ　『劒岳（つるぎだけ）　点の記』（新田次郎）　　Ｎ　『智恵子抄（しょう）』（高村光太郎）

Ｏ　『東海道中膝栗毛（ひざ）』（十返舎一九（じっぺんしゃいっく））　　Ｐ　『雪国』（川端康成（ばた））

【２】　北海道について，次の問いに答えなさい。

問１　図１は，作物別作付面積の構成を地域ごとに示しています。Ａ・Ｃの地域を図２の１～４から選び，番号で答えなさい。

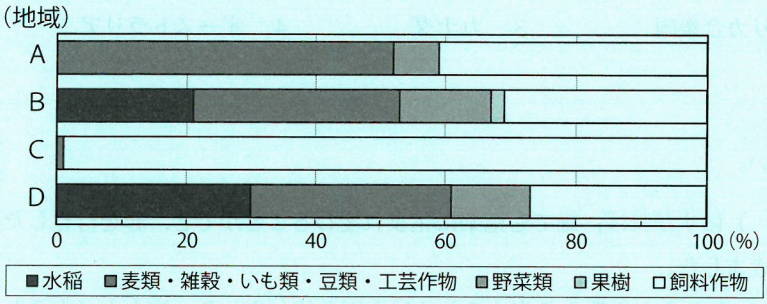

図１

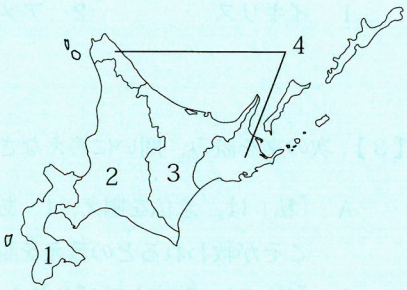

図２

（国土交通省北海道開発局　2015年北海道農業の地域で異なる特色より作成）

問２　北海道は国内有数の産炭地として栄えましたが，現存する炭鉱数は限られています。1990年から2020年にかけての石炭について正しい説明を選び，番号で答えなさい。

１　最多消費国は中国からインドに代わった　　２　世界の産出量は一貫（かん）して減少した

３　国内のおもな産炭地は九州に代わった　　４　日本の輸入量は約２倍に増えた

問３　日本各地における郷土料理のおもな材料のうち，石狩鍋の材料を選び，番号で答えなさい。

１　米，ごぼう，せり，とり肉，ねぎ　　２　牛肉，こんにゃく，さといも，ねぎ

３　きゃべつ，さけ，大根，みそ　　４　糸こんにゃく，えのき，かき，豆腐（ふ），ねぎ，みそ

（農林水産省　うちの郷土料理 より作成）

問４　写真１は，道内を東西に結ぶ石勝線の駅名標です。これら３駅に共通する駅名の由来を選び，番号で答えなさい。



写真１

1　開拓者の出身地名　　2　先住民族が呼んだ地名　　3　沿線のリゾート施設　　4　語呂合わせ

問５　図３は，道内を訪れた月ごとの外国人宿泊者数を国別に示しています。Ｂの国名を選び，番号で答えなさい。

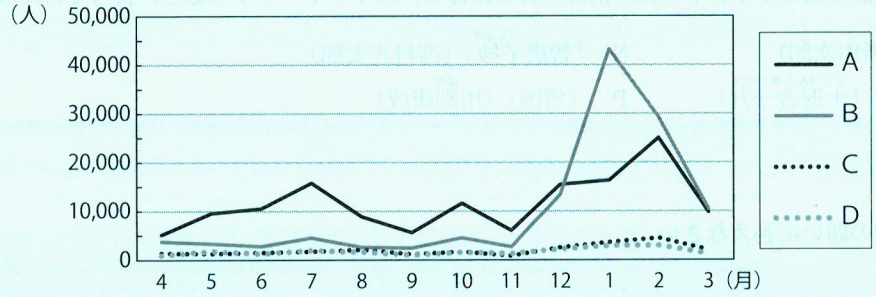

図３

（北海道経済部観光局観光振興課　平成30年度訪日外国人宿泊人数調べより作成）

1　イギリス　　2　アメリカ合衆国　　3　カナダ　　4　オーストラリア

【３】 次の文を読み，問いに答えなさい。

A 「私」は，念仏を唱え，（　あ　）にすがれば，誰でも極楽に生まれ変わることができ，罪を自覚した悪人こそが救われるとの教えを説きました。

B 「私」は，時宗と呼ばれるようになる自らの教えを広めるために全国を旅しました。総本山（中心となるお寺）として（　い　）というお寺が，14世紀に創建されました。

C 「私」は，南無（　う　）という題目を唱えれば，人も国も救われるという教えを説きました。鎌倉幕府を激しく批判したこともありました。

問１　空らん（　あ　）～（　う　）にあてはまる語句を選び，番号で答えなさい。

1　薬師如来　　2　建長寺　　3　妙法蓮華経　　4　遊行寺
5　観世音菩薩　　6　阿弥陀仏　　7　円覚寺　　8　盧舎那仏

問２　Ａ～Ｃの「私」は誰ですか。あてはまるものを選び，番号で答えなさい。

1　道元　　2　日蓮　　3　空也　　4　親鸞
5　法然　　6　一遍　　7　栄西　　8　最澄

【４】 史料Ａは19世紀なかばに来日したイギリス人が，江戸時代末期の日本について書いたものです。（わかりやすいように変えているところがあります。）この史料を読み，問いに答えなさい。

史料Ａ

おそらく世界中で，日本以外に自給自足できる国は他にないであろう。日本は自国内に(ア)生活必需品や(イ)ぜいたく品のすべてを供給できるだけのものを十分に持っている。日本の(ウ)田畑で，生産されたものが，農家の納屋に貯蔵されている。どこの山脈からも鉱物資源が発掘され，(エ)貴金属もまれではない。絹などの生産物が国内いたるところに豊富に産出され，(オ)朝鮮人参や他の薬草類が，(カ)塩魚や海草などと一緒に中国へ多量に輸出されている。

問１　史料Ａを書いたイギリス人が日本に滞在できるようになった理由として正しいものを選び，番号で答えなさい。

1　オランダが出島に来航できなくなった代わりにイギリスの来航が許されたから。
2　日米修好通商条約と同じような条約がイギリスと日本の間にむすばれたから。
3　イギリス総領事ハリスの交渉によって幕府に許可されたから。
4　ロシア勢力の南下を恐れた幕府がイギリスを味方につけようとしたから。

問２　下線（ア）のうち，主食の米が不足し，多くの人が亡くなる飢きんが江戸時代には何度かあった。江戸時代の飢きんに関する説明として適当なものを選び，番号で答えなさい。

1　大塩平八郎は飢きんで困っている人々を救うために江戸で乱をおこした。
2　米の値段が急上昇したため，江戸の人々は農村へ行き農民の家を打ちこわした。
3　農民たちは，百姓一揆をおこして領主に年貢を軽くするように要求した。
4　飢きんになって食べていけなくなった人々は京都に集まり，足軽となった。

問３　下線（イ）のうち，この時代の絹・絹糸をめぐる状況の説明として正しいものを選び，番号で答えなさい。

1　綿織物の生産は打撃を受けたが，絹糸の生産は拡大した。
2　イギリスから絹糸を輸入し，日本で染め・織りなどの加工をおこなった。
3　絹は日本原産で，日本の気候が養蚕に最適だった。
4　海外の高い製糸技術を伝えるために富岡製糸場が設立された。

問４　下線（ウ）のうち，この時代に当てはまらない農産物を選び，番号で答えなさい。

1　みかん　　2　ぶどう　　3　さとうきび　　4　てんさい

問５　下線（エ）を生産する場所は幕府に直接支配されていることが多かった。幕府が直接支配した金山は現在の何県にあったかを選び，番号で答えなさい。

1　新潟県　　2　島根県　　3　愛媛県　　4　栃木県

問6　下線（オ）の栽培に成功したころ，サツマイモの栽培も全国に広まった。この二つの作物の栽培をすすめた将軍を選び，番号で答えなさい。

1　徳川家康　　2　徳川家光　　3　徳川綱吉　　4　徳川吉宗

問7　下線（カ）は蝦夷地産のものが多かった。蝦夷地の産物を独占的に取り扱っていた藩を選び，番号で答えなさい。

1　薩摩　　2　長州　　3　松前　　4　対馬

【5】 次の文は，1945年（昭和20年）に起きたできごとに関するものです。以下の問いに答えなさい。

A　（　あ　）（地名）で行われた会談では，この日，日本の無条件降伏を求める宣言が採択された。
B　この日，当初の投下目標から変更された末，午前11時02分、（　い　）（地名）に原子爆弾が投下された。
C　激しい地上戦が行われた（　う　）（地名）では，のちに「慰霊の日」となるこの日に，組織的な戦闘が終結した。
D　（　え　）（地名）で行われた会談では，この日秘密協定として，日本と中立条約を結んでいたソ連の対日参戦がとり決められた。
E　日本と同盟を結んでいた（　お　）（国名）は，連合国に東西より攻められた末，この日に降伏した。

問1　空らん（　あ　）～（　お　）にあてはまる語句を選び，番号で答えなさい。

1　沖縄	2　イタリア	3　カイロ	4　長崎	5　ロンドン
6　下関	7　ポーツマス	8　ヤルタ	9　ドイツ	10　広島
11　ポツダム	12　フランス	13　東京	14　対馬	

問2　A～Eを古い順に並べかえなさい。

【6】 次の文を読み，以下の問いに答えなさい。

日本では，経済的な理由から，こどもを生み育てることを控える人の割合が上昇しています。(ア) 合計特殊出生率が年々低くなって少子化が進むと，将来，労働者人口が減少するので，(イ) 国が集める税金の額が減って，(ウ) 社会保障の財源が不足するかもしれません。一方で，(エ) 国の支出は増加傾向にあるため，岸田内閣は「こども（　あ　）方針」を掲げて，異次元の少子化対策を進めています。

問1　下線（ア）の説明として，もっとも適当なものを選び，番号で答えなさい。

1　日本で一年間に生まれる子どもの平均数
2　一つの家庭で生まれる子どもの平均数
3　一人の女性が一生の間に産むと見込まれる子どもの平均数
4　日本のすべての病院で生まれる子どもの平均数

問2　下線（イ）に関して，所得や財産が大きいほど税率が高くなる課税方法を何というか，解答らんの形式に合わせて答えなさい。

問3　下線（ウ）を説明する文として，もっとも適当なものを選び，番号で答えなさい。

1　経済的に生活が苦しい人々に対して，国が生活費などを支給する制度を公的扶助という。
2　国民全体の健康増進のために，病気の予防などを行う制度を社会保険という。
3　病気や失業の時に保険金を給付するため，国民から保険料を集める制度を社会福祉という。
4　高齢者や児童，身体に障がいを持っている人など，働くことが困難な人々を援助する制度を公衆衛生という。

問4　下線（エ）に関して，次のグラフは，2010年度と2023年度の国の一年間の支出の内訳を示しています。これらのグラフの説明として，もっとも適当なものを選び，番号で答えなさい。

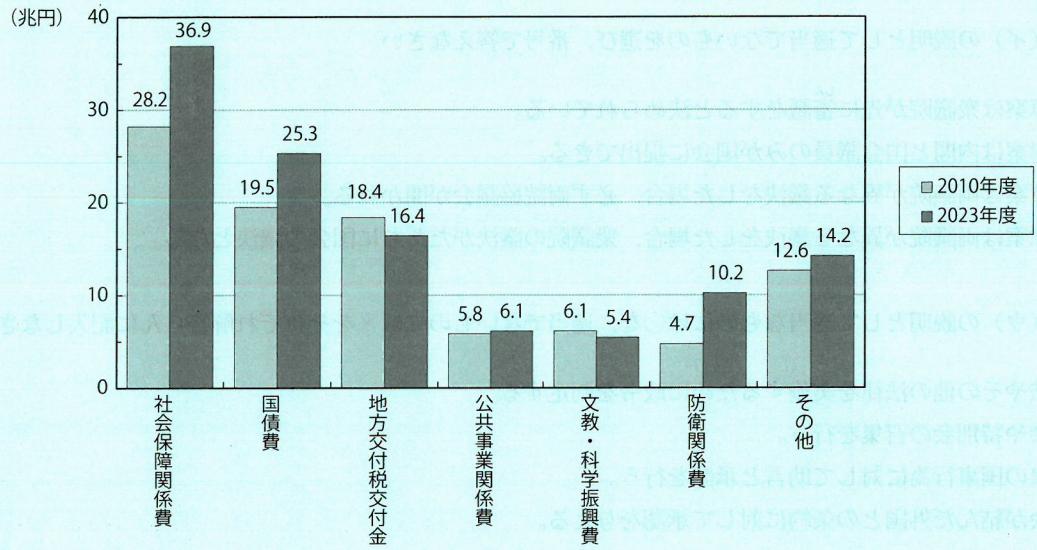

（日本国勢図会2023/2024より作成）

1　社会保障関係費は，2023年度よりも2010年度のほうが多かった。
2　2010年度も2023年度も，地方交付税交付金は５番目に支出が多い。
3　2023年度の公共事業関係費と文教・科学振興費は，2010年度と比べて１兆円以上減っている。
4　2023年度の防衛関係費は，2010年度より２倍以上に増えている。

問5　空らん（　あ　）に当てはまる語句を，漢字４字で答えなさい。

【7】 次の文を読み，以下の問いに答えなさい。

内閣は，内閣総理大臣とその他の(ア)国務大臣で構成され，(イ)国会で決められた法律や予算にもとづいて国の仕事を進めていく機関です。(ウ)内閣の仕事は多岐にわたるため，外交，教育，社会保障などの様ざまな仕事は，(エ)各省庁が分担して行っています。(オ)それぞれの省庁は国からの予算をもとに社会の状況や求めに応じた仕事をしています。

問1　下線（ア）の説明として適当でないものを選び，番号で答えなさい。

1　国務大臣は文民でなければならない。
2　国務大臣は内閣が指名し，天皇が任命する。
3　国務大臣は国会議員でなくても務めることができる。
4　国務大臣は任命できる人数に上限がある。

問2　下線（イ）の説明として適当でないものを選び，番号で答えなさい。

1　予算案は衆議院が先に審議をすると決められている。
2　法律案は内閣と国会議員のみが国会に提出できる。
3　予算案は両議院が異なる議決をした場合，必ず両院協議会が開かれる。
4　法律案は両議院が異なる議決をした場合，衆議院の議決がただちに国会の議決となる。

問3　下線（ウ）の説明として適当なものには○を，適当でないものには×をそれぞれ解答らんに記入しなさい。

1　憲法やその他の法律を実施するために政令を制定する。
2　常会や特別会の召集を行う。
3　天皇の国事行為に対して助言と承認を行う。
4　国会が結んだ外国との条約に対して承認を与える。

問4　下線（エ）について，次のA～Dの庁はそれぞれどの府省の所属であるか，正しいものを選び，番号で答えなさい。

A　気象庁　　B　消費者庁　　C　消防庁　　D　スポーツ庁

1　国土交通省　　2　総務省　　3　文部科学省　　4　防衛省
5　内閣府　　6　財務省　　7　農林水産省　　8　環境省

問5　下線（オ）について，次の表は一般会計歳出の所管別（省庁別）の内訳を示したものです。表のE～Hに当てはまる省庁を選び，番号で答えなさい。

（単位　億円）

	2019年度	2020年度	2021年度	2022年度	2023年度
E	—	—	650	4,720	4,950
F	8,190	8,210	7,940	7,440	7,250
G	315,320	403,750	447,300	335,160	331,690
H	19,920	171,140	76,240	9,020	8,810

2021年度までは決算，2022，2023年度は当初予算。（『日本国勢図会2023/24』より作成）

1　経済産業省　　2　厚生労働省　　3　デジタル庁　　4　法務省