2023年度

慶應義塾湘南藤沢中等部入学試験問題

社　会

	千位	百位	十位	一位		
受験番号					氏名	

注　意　1. 受験番号と氏名は，問題用紙および解答用紙のそれぞれに必ず記入すること。

2. 受験番号は，下記のように所定のらんに一字一字記入すること。

〔例〕　7 → 0007

77 → 0077

777 → 0777

4007 → 4007

3. 解答用紙の右下の ○ の中に受験番号の一の位を算用数字で記入すること。

4. 解答は，必ず解答用紙の所定のらんに記入すること。

5. 問題用紙の余白は下書きに用いてよろしい。

6. この冊子の総ページ数は 8 ページである。

《指示があるまで開かないこと》

【１】 次の文１～文４は，図１中のＡ～Ｄのいずれかの県を説明しています。以下の問いに答えなさい。

文１	この県は，気候の特ちょうにより(ア)小麦づくりに適しており，日本有数のうどん消費地として知られています。
文２	この県では，気候の特ちょうをいかした(イ)野菜づくりがさかんです。
文３	この県では，(ウ)ブランド畜産物を飼育しています。
文４	この県西部の海岸では，地形の特ちょうをいかした(エ)養殖がさかんです。

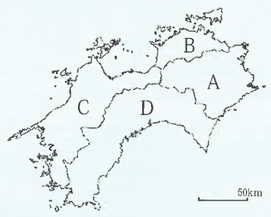

図１

問１　下線（ア）について，図２は日本における小麦，米，肉類，野菜の食料自給率をそれぞれ示したものです。小麦を図２の①～④から選び，番号で答えなさい。

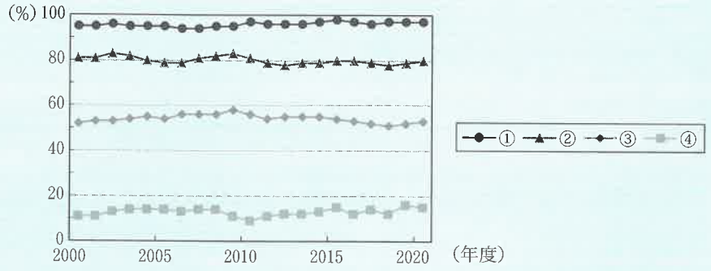

図２　　（令和２年度農林水産省食料需給表より作成）

問２　下線（イ）について，図３は東京都中央卸売市場における，なすの入荷量を都道府県別（文２の県，岩手県，群馬県，栃木県）・月別に示したものです。文２の県を図３の①～④から選び，番号で答えなさい。

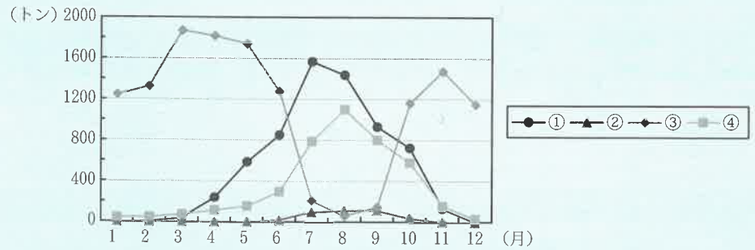

図３　　（令和３年東京都中央卸売市場資料より作成）

問３　下線（ウ）の名前の読みを選び，番号で答えなさい。

1　ぼっちゃん　　2　あわおどり　　3　しまんとがわ　　4　こんぴらさん

問４　下線（エ）について，文４の県が都道府県別生産量で１位（2020年）となっている水産物の種類を選び，番号で答えなさい。

1　かき　　2　かつお　　3　たい　　4　ほたて

問５　図１中のＡ～Ｄの県を説明している文を文１～文４から選び，それぞれ番号で答えなさい。

【２】 自然災害とそのそなえについて，次の問いに答えなさい。

問１　ハザードマップに関する文として適当なものを選び，番号で答えなさい。

1　自分が住んでいる所や通っている学校周辺地域のハザードマップだけを手に入れることができる。
2　ハザードマップを適切に活用することにより，災害による被害を無くすことができる。
3　災害が起きた時にそなえてハザードマップを見て，避難の参考にすることを心がけておかなければならない。
4　さまざまな災害があいついで発生したことによって整備が進み，すべての災害に対応できるハザードマップが用意されている。

問２　図４中の陸地について，■の地域で共通して想定される災害を１～４から選び，番号で答えなさい。



図４　　（1/25000　地形図「韮山」より作成）

1　土石流　　2　津波による浸水　　3　台風による高潮　　4　洪水による浸水

問３　平野部で取り組まれている災害へのそなえのうち，適当でないものを選び，番号で答えなさい。

1　土地の液状化を防ぐために地盤を改良する。
2　一時的に雨水を取りこむための調節池や川の水を取りこむための放水路をつくる。
3　津波から逃げるための避難タワーを建てる。
4　川の土砂が大量に流れることを防ぐために砂防ダムをつくる。

問４　あなたが自分の家にいる時，家の近くの河川がはんらんを始めた様子がテレビに映し出されました。真っ先にとるべき行動として適当なものを選び，番号で答えなさい。

1　よりくわしい情報を得るため，河川の様子を見に行く。
2　自分の家のより高い階，または屋上へ上がる。
3　昼夜を問わず自分の家を出て，一秒でも早く指定された避難場所へ向かう。
4　自分の家が浸水する危険があるかどうかをテレビ局へ電話で質問する。

【３】　史料Ａは，三善清行という人物が醍醐天皇に対して出した意見書をわかりやすく言い換えたものです。史料を読み，問いに答えなさい。

史料Ａ

私は893年に(ア)備中介に任じられました。…（中略）…この国の(イ)風土記を見ると，660年，（　あ　）の将軍が新羅の軍を率いて百済を討ったと書いてあります。百済は，使者を派遣して救いを求めたため，当時の天皇は筑紫の国に自ら行き，援軍を出そうとしました。…（中略）…天皇は(ウ)詔を出してこの村の兵士を集めたところ，すぐに優れた兵士２万人がきました。…（中略）…

しかし，私が備中介の仕事に就き，村の人口を調べてみると，老人２人・壮年４人・青年３人でした。911年，この国の介であった藤原公利が任期を終えて都に帰ってきました。私はこの村の人口は今どれぐらいかと聞いてみると，彼は「一人もいない」と答えました。(エ)660年から911年までの間に，この村は（　い　）

問１　下線（ア）について説明した文として適当なものを選び，番号で答えなさい。

1　現在の岡山県にあたる地域に派遣された守護である。
2　現在の島根県にあたる地域に派遣された守護である。
3　現在の岡山県にあたる地域に派遣された国司である。
4　現在の島根県にあたる地域に派遣された国司である。

問２　下線（イ）について説明した文として適当なものを選び，番号で答えなさい。

1　日本の神代の時代と神武天皇からの歴史を年代を追ってまとめたもの
2　それぞれの国の産物，地理，伝承などを調べてまとめたもの
3　日本最古の和歌集であり，貴族から農民まで多くの人びとの歌をまとめたもの
4　「今は昔」という書き出しで始まるさまざまな話をまとめたもの

問３　空らん（　あ　）にあてはまる国名として正しいものを選び，番号で答えなさい。

1　隋　　2　唐　　3　宋　　4　明

問４　下線（ウ）の読みをひらがなで書きなさい。

問５　下線（エ）の間のできごとを起きた順番に並べなさい。

1　最澄や空海が新たな仏教を開いた。
2　桓武天皇が坂上田村麻呂を征夷大将軍に任命し，蝦夷を討伐した。
3　持統天皇が藤原京をつくった。
4　鑑真が来日して戒律を伝えた。

問６　空らん（　い　）にはどのような文章が続きますか。適当なものを選び，番号で答えなさい。

1　衰退してしまったのです。この村の例から推測するに，天下の衰退は明白なことです。
2　隆盛を迎えたのです。この村の例から推測するに，天下の隆盛は明白なことです。
3　衰退してしまったのです。しかし，この村の例から推測するに，天下の隆盛は明白なことです。
4　隆盛を迎えたのです。しかし，この村の例から推測するに，天下の衰退は明白なことです。

【４】　次の文は，鎌倉幕府の執権に関するものです。以下の問いに答えなさい。

A　わたしは，(ア)初代将軍の妻の弟です。上皇と対立し，(イ)承久の乱になりました。
B　わたしは，Ｃの人物の父親ですが，(ウ)庶民の生活に気を配った政治を行ったと言われています。
C　(エ)わたしは，元と戦い，勝ちましたが，(オ)御家人の不満は高まりました。

問１　下線（ア）の人物についての説明として適当なものを選び，番号で答えなさい。

1　出家した後，仏教勢力を支配し，幕府の力を高めた。
2　将軍だった息子たちが殺された後，権力を失った。
3　政所の長官の地位に就き，御家人を主導した。
4　承久の乱のとき，朝廷側と戦うことを御家人らに呼びかけた。

問２　下線（イ）の戦いの結果についての説明として適当なものを選び，番号で答えなさい。

1　公家諸法度によって，幕府による朝廷に対する監視が強まった。
2　上皇らが島流しにされ，幕府による西国への支配が強まった。
3　京都所司代がつくられ，幕府による朝廷に対する監視が強まった。
4　朝廷が持っていた土地を取り上げ，幕府による佐渡金山など主要鉱山への支配が強まった。

問３　下線（ウ）について，鎌倉時代の庶民の生活に関する説明として，適当でないものを選び，番号で答えなさい。

1　念仏をとなえれば救われると説く，新しい仏教が信仰を集めるようになった。
2　農民は荘園の領主である武士に年貢を納めることもあった。
3　西日本を中心に二毛作がはじまるなど，農業の技術が高まった。
4　各地に市がつくられ，物々交換による取引が盛んになった。

問４　下線（エ）の人物を選び，番号で答えなさい。

1　北条義時　　2　北条泰時　　3　北条時宗　　4　北条時頼

問５　鎌倉時代の下線（オ）の説明として正しいものには○，誤っているものには×を記しなさい。

1　将軍に仕え，土地を保証してもらうかわりに，幕府のために戦った。
2　すべての武士は御家人とされ，幕府の支配下におかれた。
3　将軍に直接会うことができ，町奉行などに任命された。
4　御家人は，地頭に任命されることもあった。

【５】　次のＡからＣは，日本が結んだ条約の内容の一部をわかりやすく言い換えたものです。以下の文を読み，問いに答えなさい。

Ａ　1895年締結

第１条　清国は朝鮮国を完全な独立国であることを承認する。 第２条　清国は(ア)次の土地への主権を永遠に日本に渡す。

Ｂ　1905年締結

第１条　ロシアは日本が韓国において，政治・軍事・経済においての利益を有することを承認する。

Ｃ　1910年締結

第１条　韓国皇帝は韓国に関するすべての統治権を(イ)日本国天皇に渡す。 第２条　日本国天皇は統治権を受けいれ，韓国を日本に併合することを承認する。

問１　Ａの条約が結ばれることになった戦争に関する説明として適当でないものを選び，番号で答えなさい。

1　この戦争は，朝鮮で起きた反乱をきっかけに日本，清ともに出兵したことではじまった。
2　この戦争は，主に中国本土を戦場として行われた。
3　この戦争に勝ち，日本は朝鮮への進出を強めることになった。
4　この戦争に勝ったが，多額の戦費がかかり，１万人以上の日本兵が亡くなった。

問２　下線（ア）の土地を選び，番号で答えなさい。

1　琉球　　2　台湾　　3　蝦夷地　　4　対馬

問３　ＡからＢまでの間に起きたできごととして正しいものを選び，番号で答えなさい。

1　日本はイギリスが持っていた領事裁判権を廃止した。
2　日本はアメリカとの間で関税自主権を回復した。
3　日本はイギリスと日英同盟を結んだ。
4　日本はアメリカと日米安全保障条約を結んだ。

問４　Ｂの条約を結んだ後の説明として適当なものを選び，番号で答えなさい。

1　日本はロシアから多額の賠償金を得て，工業化をすすめた。
2　日本はロシアから領土を得ることができなかったことに対し，日本国内で暴動が起きた。
3　日本はロシアから鉄道の権利を得て，中国大陸に進出する足がかりとした。
4　日本はロシアから多くの捕虜を得て，屯田兵にした。

問５　Ｂの条約を結んだ場所はどこですか。正しいものを選び，番号で答えなさい。

1　アメリカ　　2　イギリス　　3　ロシア　　4　日本

問６　Ｃの条約を結んだ後の日本と朝鮮に関する説明として適当なものを選び，番号で答えなさい。

1　日本は朝鮮の人びとを積極的に役人に登用し，独立運動が起きるのを防いだ。
2　日本は朝鮮の人びとに朝鮮の防衛を任せ，日本軍を撤退させた。
3　日本は朝鮮の人びとから土地を奪うこともしたが，日本に移住する朝鮮人はほとんどいなかった。
4　日本は朝鮮の人びとに日本語教育を行い，朝鮮を植民地として扱った。

問７　下線（イ）について，当時の天皇に関する説明として適当なものを選び，番号で答えなさい。

1　当時の天皇は，憲法によって強力な権限を与えられ，政党を率いた。
2　当時の天皇は，ドイツを手本とした憲法において主権を持つとされた。
3　当時の天皇は，三権分立における三権のひとつとされた。
4　当時の天皇は，陸軍と海軍を統率し，直接戦いの指揮をした。

【６】　次の文を読み，問いに答えなさい。

海外に住む日本人が，(ア)最高裁判所裁判官の国民審査に投票できないのは(イ)憲法に違反するとして，国に損害賠償を求めた訴訟で，最高裁判所は，海外に住む日本人に投票を認めていない国民審査法は，(ウ)「違憲」とする判決を言い渡しました。最高裁判所は，人権を守る最後の砦として，「憲法の（　あ　）」と呼ばれており，今回の訴訟は（　い　）人の裁判官全員一致の結論でした。

問１　空らん（　あ　）（　い　）にあてはまる語句または数字をそれぞれ答えなさい。

問２　以下は下線（ア）に関する憲法条文です。条文中の空らん（　う　）（　え　）にあてはまる語句をそれぞれ漢字で答えなさい。

①　最高裁判所は，その長たる裁判官及び法律の定める員数のその他の裁判官でこれを構成し，その長たる裁判官以外の裁判官は，（　う　）でこれを任命する。 ②　最高裁判所の裁判官の任命は，その任命後初めて行われる（　え　）議員総選挙の際国民の審査に付し，その後10年を経過した後初めて行われる（　え　）議員総選挙の際更に審査に付し，その後も同様とする。

問３　下線（イ）について，日本国憲法が公布された日は現在，何の祝日となっていますか。正しいものを選び，番号で答えなさい。

1　昭和の日　　2　文化の日　　3　秋分の日　　4　春分の日

問４　下線（ウ）について，これまでに最高裁判所で違憲判決が出た訴訟の中で，平等権に関連しない訴訟を選び，番号で答えなさい。

1　女性は離婚後６か月経過しなければ再婚することができないと定めた民法の規定に，違憲判決が出た。

2　結婚していない男女の子どもの相続分を，結婚している男女の子どもの半分と定めた民法の規定に，違憲判決が出た。

3　外国人の母と日本人の父の間に生まれた子どもが，日本国籍を取得するためには，両親が結婚していなければならないと定めた国籍法の規定に，違憲判決が出た。

4　薬局を新たに開くときには，ほかの薬局と一定以上の距離を離さなければならないと定めた薬事法の規定に，違憲判決が出た。

【７】 湘子さんと慶太くんは，円安ドル高について話をしました。次の会話を読み，問いに答えなさい。

湘子：東京（　あ　）為替市場では，大幅に円安ドル高が進んでいるみたいね。

慶太：そのようだね。最近，アメリカのドルに対する円の価値が下がっているんだ。

湘子：円の価値が下がっているということは，円を欲しいと思っている人が減っているということでしょ。

慶太：その通り。円よりもアメリカのドルを欲しいと思っている人が増えているんだ。つまり，アメリカのドルと円を交換する時の円の金額は（　い　）なるよ。

湘子：何でみんなが円をアメリカのドルに交換しようと思っているの。

慶太：大きな理由の一つは，アメリカの中央銀行にあたる(ア)連邦準備制度理事会が金利を引き上げたことによって，みんなが日本よりもアメリカの銀行にお金を預けるときなどの利息が多くなると予想したからなんだ。その結果，円を売ってアメリカのドルを買う人が増えているんだ。

湘子：このまま円安ドル高が進んでいくと，企業の活動や私たちの暮らしには，どのような影響が出るの。

慶太：(イ)もういろいろな問題が出始めているよ。急速な円安ドル高に歯止めがかからない場合は，政府と日本銀行が，市場でドルを売って円を買う為替（　う　）に踏み切ることもあるよ。

問１　空らん（　あ　）（　い　）（　う　）にあてはまる語句を答えなさい。

問２　下線（ア）の略称として適当なものを選び，番号で答えなさい。

1　IMF　　2　FRB　　3　ECB　　4　FTA

問３　下線（イ）の円安ドル高が進むことによって起こる問題として適当なものを選び，番号で答えなさい。

1　アメリカ人観光客が，日本で買い物をする金額が減少する。

2　日本の輸出企業がどんどん海外に進出して，現地でモノを生産するようになる。

3　日本でアメリカ産の小麦や大豆が値上がりして，食費の負担が増える。

4　アメリカのドルで預金をしていた人は，預金を円に戻すと損をする。

問４　アメリカから小麦を輸入している日本企業Ｘ社について説明した文の空らん（　え　）にあてはまる文として適当なものを選び，番号で答えなさい。

> 東京のＸ社が，１ドル＝120円のときにアメリカから100万ドル分の小麦を仕入れました。１年後，同じ会社がアメリカから同じ小麦を同じ量だけ100万ドルで仕入れましたが，そのときは１ドル＝100円になっていました。Ｘ社は，１年前と比べて（　え　）小麦を仕入れたことになります。

1　1200万円安く　　2　1200万円高く　　3　2000万円高く　　4　2000万円安く