【１】 図１は１/50,000地形図「萩」より作成したものです。地図の方位は上が北で拡大縮小はしていません。問いに答えなさい。

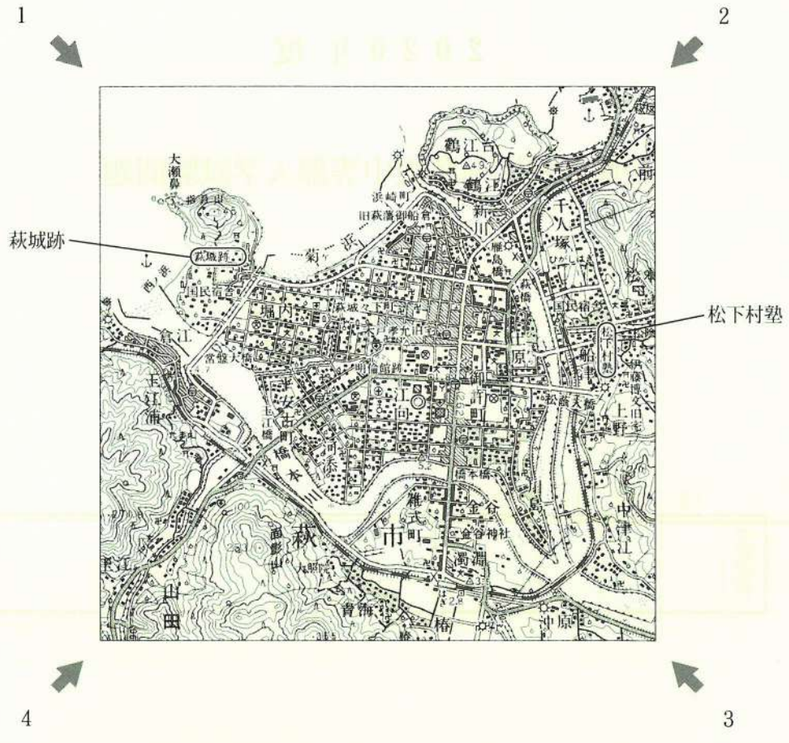

図１



図２

※図の作成にあたっては，国土地理院の電子国土webを使用した。水平方向に対して高さは1.5倍にしてあります。

問１　図１中には萩城跡があります。萩城の城下町となっている場所の地形としてもっとも適するものを選び，番号で答えなさい。

１　三角州　　２　扇状地　　３　カルデラ　　４　リアス海岸

問２　図１中には松下村塾があります。松下村塾から萩城跡までの直線距離を地図上では６cmでした。実際の距離は何mか答えなさい。

問３　図１から読み取れることとして適当でないものを選び，番号で答えなさい。

１　鉄道の線路は萩城の城下町を囲むように通っている。
２　市役所は鉄道の駅前にある。
３　萩城の城下町は直線の道路で区切られている。
４　萩城の城下町の中心部を通る送電線はない。

問４　図２は図１の１から４のいずれかの視点から見たときの地形の起伏を示したものです。図２の視点としてもっとも近いものを選び，番号で答えなさい。また，選んだ視点の矢印の先が向いている方位を八方位のいずれかで答えなさい。方位は漢字で書くこと。

【２】 次の文を読み，問いに答えなさい。

世界の人口は76億人を超え，現在も増え続けています。多くの人口を支えるためには，食料の中でも穀物は重要な作物であり，(ア)穀物生産のために工夫がされてきました。その結果，世界全体では穀物は足りていると考えられます。しかし，実際には近年，(イ)開発途上国を中心に飢餓に苦しむ人は増えています。さらには，(ウ)開発途上国の食料にかかわる問題は他の地球規模での問題とも結びついています。また，日本では食生活が変化することによって，食料の多くを(エ)特定の国からの輸入に頼っている状況がみられます。

食料問題は世界全体が取り組むべき課題であり，2015年に日本を含むすべての国連加盟国が採択した(オ)SDGsでは，2030年までに飢餓人口をなくすことを約束しています。

問１　下線（ア）に関して，穀物の生産を増やすための取り組みについての説明として適当でないものを選び，番号で答えなさい。

１　飲料水を確保するために，農業に使用する水の量を減らした。
２　同じ土地で一年に何度も作物を栽培した。
３　浅い海や湖を干拓して農地を増やした。
４　病気や虫などによる作物への被害を減らすために，遺伝子組み換え作物を開発した。

問２　下線（イ）に関して，飢餓の発生する原因や理由についての説明として適当でないものを選び，番号で答えなさい。

１　干ばつや洪水などの天候不順により作物を十分に作ることができない。
２　国際市場で食料の価格が上がり十分に買うことができない。
３　穀物が家畜のえさやバイオ燃料として使われてしまうため，必要な量が出回らない。
４　先進国向けの食料だけを生産しているために，自由に農業が行えない。

問３　下線（ウ）に関して，図１は問題の相互関係の一部をあらわしています（図中の矢印は影響を与えている方向をあらわしています）。図中の（あ）～（う）にあてはまるものをそれぞれ選び，番号で答えなさい。ただし，関係の一部は省略してあります。

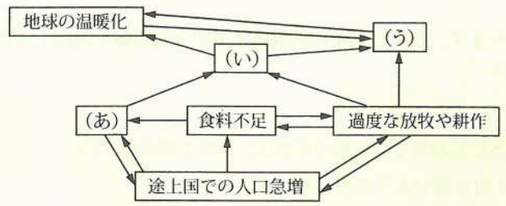

図１

１　化石燃料の使用　　２　熱帯林の減少　　３　貧困　　４　海洋汚染　　５　砂漠化

問４　下線（エ）に関して，図２は2018年の日本の農産物輸入について表したものです。図中の（え）～（か）は，それぞれ同じ国を表しています。（え）～（か）の組み合わせとして適当なものを選び，番号で答えなさい。



出典）農産物輸出入概況2018年（農林水産省）

図２

	1	2	3	4	5	6
（え）	アメリカ合衆国	アメリカ合衆国	カナダ	カナダ	オーストラリア	オーストラリア
（お）	カナダ	オーストラリア	アメリカ合衆国	オーストラリア	アメリカ合衆国	カナダ
（か）	オーストラリア	カナダ	オーストラリア	アメリカ合衆国	カナダ	アメリカ合衆国

問５　下線（オ）の日本語での呼び方について９文字で答えなさい。

【３】 次の文を読み、問いに答えなさい。

2019年７月，（　あ　）にある (ア) 百舌鳥・古市古墳群が世界文化遺産に登録されました。これらの古墳群は土を盛ったところだけで全長400ｍをこえる日本最大級の古墳を二つもふくんでいて，貴重なものです。埋葬された権力者の力を目に見える形で示すために，巨大な古墳はつくられました。

古墳の大きさは，百舌鳥・古市古墳群が造られた時期を過ぎると，小さくなっていきました。(イ) 中国や朝鮮半島の影響を受けて次第に国の支配のしくみが整えられてゆくと，大きな古墳をつくることではなく，(ウ) 仏教の寺院や仏像をつくることで権力を示すようになっていったのです。

問１　空らん（　あ　）にあてはまる都道府県の名前を漢字で答えなさい。

問２　下線（ア）が造られた時期の説明として正しいものを選び，番号で選びなさい。

１　倭は百済救援軍を出したが，白村江で戦いに敗れた。
２　倭の国ぐにのうち，奴の国王が中国に使いを送って金印を授かった。
３　倭の女王である卑弥呼は，中国に使いを送って金印や銅鏡を授かった。
４　倭王武は，中国に使いを送って朝鮮半島南部の支配を認めてもらおうとした。

問３　下線（イ）に関する次のできごとを古い順に並べなさい。

１　壬申の乱に勝利した皇子が即位する　　２　大化の改新が始まる
３　大宝律令が制定される　　４　冠位十二階を定める

問４　下線（ウ）に関して，Ａ～Ｄの寺院と最も関係が深い人物を１～12から選び，組み合わせて，古い順に並べなさい。

Ａ　中尊寺金色堂　　Ｂ　東大寺　　Ｃ　平等院鳳凰堂　　Ｄ　法隆寺

１　中大兄皇子　　２　厩戸皇子（聖徳太子）　　３　桓武天皇　　４　聖武天皇
５　天武天皇　　６　藤原道長　　７　藤原頼通　　８　藤原清衡
９　藤原純友　　10　藤原鎌足　　11　白河上皇　　12　後鳥羽上皇

【４】 慶子さんと慶一くんは大津周辺の地図を見ながら話をしました。次の会話を読み，問いに答えなさい。

慶一：現在の大津には新幹線や高速道路の経路が集中しているね。
慶子：むかしから京都につながる街道が通っていたし，(ア) 琵琶湖を使った水運の重要な場所でもあったのよ。
慶一：(イ) 織田信長が安土城を拠点にした理由のひとつだね。
慶子：江戸時代には，ここを通る (ウ) 東海道が整備され，江戸と自分の藩の間を定期的に往復する（　あ　）の大名行列が歩いていたのよ。
慶一：(エ) 朝鮮通信使と呼ばれる朝鮮からの使節団が大津を通ることもあったんだろうね。
慶子：人やものが行き来した活気あふれる場所だったんだね。

問１　下線（ア）についての説明として適当でないものを選び，番号で答えなさい。

１　北陸地方でとれた米などを舟で運んだ。
２　問が活やくし，琵琶湖を通って運ばれてきたものを倉庫で管理していた。
３　平安京へは琵琶湖から流れ出る川をつかって，海産物などを直接運ぶことができた。
４　大津以外にも多くの港があり，街道とつながっていた。

問２　下線（イ）の織田信長による経済に関する政策で適当なものには○，適当でないものには×を記しなさい。

１　堺などの港町や佐渡の金山を支配し，利益を独占した。
２　楽市楽座により，特権を与えた商人に経済活動の中心を担わせた。
３　各地にあった関所を廃止し，人やものの移動を円滑にした。

問３　下線（ウ）についての説明として適当なものを選び，番号で答えなさい。

1　大津は江戸と終点との間のほぼ中間にあたった。
2　いくつかの関所があったが，人は自由に行き来することができた。
3　海運業は発達せず，江戸と西国との間で米の輸送路に利用された。
4　宿場町が整備され，大津にも多くの人が宿泊した。

問４　空らん（　あ　）に当てはまる語句を漢字で答えなさい。

問５　下線（エ）についての説明として適当なものには○，適当でないものには×を記しなさい。

1　長崎に上陸し，陸路を用いて江戸に向かった。
2　将軍の代がかわったときに，お祝いを目的に訪れた。
3　通信使と沿道の庶民との交流は一切なかった。

【５】 慶子さんと慶一くんは，アジア太平洋戦争にいたるまでの日本の国内外の様子について話をしました。次の会話を読み，問いに答えなさい。

慶子：第二次世界大戦前の世界は３つの国のグループに分けられそうね。
慶一：広大な国土の中に資源を豊富に持つ（　あ　）と，植民地をたくさん持つ（　い　）などの国，そして資源や植民地の少ない（　う　）などの国だね。
慶子：日本は，（　う　）などの国と同じグループに分けられそうね。
慶一：だから資源や植民地を求めて，海外に積極的に進出すべきという動きが出てくるんだ。
慶子：（　え　）に敷かれていた鉄道が爆破されて始まった日中両軍の衝突がそのひとつね。
慶一：この時期，日本の国内政治を軍部が中心になって変えていこうという動きもみられたね。それが（　え　）に敷かれていた鉄道を爆破した事件の翌年の（　お　）に起きた事件だね。
慶子：慶應義塾出身の（　か　）首相が暗殺されたのね。
慶一：この事件のあと，（　き　）が皇帝となる新しい国が作られたんだね。
慶子：（　え　）に軍事的に進出したことが諸外国の反発を強め，日本は国際連盟から脱退し，国際的に孤立を深めていくことになるのね。

問１　空らん（　あ　）（　い　）（　う　）にあてはまる国の名前の組み合わせとして正しいものを選び，番号で答えなさい。

1　（　あ　）アメリカ　　（　い　）イギリス　　（　う　）ドイツ
2　（　あ　）アメリカ　　（　い　）ドイツ　　（　う　）イギリス
3　（　あ　）イギリス　　（　い　）ドイツ　　（　う　）アメリカ
4　（　あ　）イギリス　　（　い　）アメリカ　　（　う　）ドイツ

問２　空らん（　え　）にあてはまる地域名を選び，番号で答えなさい。

1　朝鮮　　2　台湾　　3　シベリア　　4　満州

問３　空らん（　お　）にあてはまる月日を選び，番号で答えなさい。

1　２月26日　　2　５月15日　　3　８月15日　　4　12月８日

問４　空らん（　か　）にあてはまる人物を選び，番号で答えなさい。

1　尾崎行雄　　2　犬養毅　　3　小村寿太郎　　4　陸奥宗光

問５　空らん（　き　）にあてはまる人物を選び，番号で答えなさい。

1　孫文　　2　蒋介石　　3　毛沢東　　4　溥儀

問６　アジア太平洋戦争にいたるまでのできごとを古い順に並べなさい。

1　アメリカによる日本への石油輸出の禁止　　2　日中戦争のはじまり
3　日独伊三国同盟の締結　　4　第二次世界大戦のはじまり

【６】 次の文を読み，問いに答えなさい。

参政権には選挙をする権利（選挙権）と(ア)選挙をされる権利（被選挙権）がありますが，選挙権は日本が近代国家として出発した明治維新の頃から，下の表のように人びとの権利として徐々に拡大しています。（表は「詳説日本史　改訂版」「第六十八回　日本統計年鑑」「総務省　目で見る投票率」より作成）

表　選挙権の拡大

	選挙実施年	人口（千人）	人口に占める有権者の割合（%）
1	1890	39,902	1.1
2	1920	55,473	5.5
3	1928	62,595	20.8
4	1946	75,750	50.4
5	2013	127,414	81.7
6	2016	126,933	83.7

問１　下線（ア）について説明した文として誤っているものを選び，番号で答えなさい。

1　現在の日本では，衆議院議員の被選挙権は満20歳以上の男女に与えられている。
2　現在の日本では，参議院議員の被選挙権は満30歳以上の男女に与えられている。
3　現在の日本では，市区町村長の被選挙権は満25歳以上の男女に与えられている。
4　現在の日本では，都道府県知事の被選挙権は満30歳以上の男女に与えられている。

問２　表の１から６の選挙の中で，「普通選挙法」にもとづいて行われた最初の選挙を選び，番号で答えなさい。

問３　表の１の選挙の実施に向けて力を尽くした人物を選び，番号で答えなさい。

1　原敬　　2　吉野作造　　3　黒田清隆　　4　板垣退助

問４　表の３と４の選挙を比べたときに，有権者の割合が大幅に増えた理由として，もっとも適当なものを選び，番号で答えなさい。

1　選挙権年齢が引き下げられ，女性にも選挙権が与えられたから。
2　有権者として納めるべき直接国税の額が減ったから。
3　有権者の条件がゆるやかになり，満25歳以上の男子に選挙権が与えられたから。
4　戦争が終わり，来日するようになった外国人にも選挙権が与えられたから。

問５　表の５と６の選挙を比べたときに，人口が減っているにもかかわらず有権者数が増えた理由として，もっとも適当なものを選び，番号で答えなさい。

1　政治に関心を示す若者が増えたから。
2　インターネットでの投票が認められるようになったから。
3　期日前投票が広く利用されるようになったから。
4　選挙権年齢が引き下げられたから。

【７】 次の文を読み、問いに答えなさい。

小学校で使用している教科書は(ア)税金によって無償で支給されています。これは義務教育が無償で行われることを定めた日本国憲法第26条の(イ)教育を受ける権利を保障したものといえます。また，教科書には必ず「(　あ　) 省検定済教科書」と記されていますが，(ウ)かつて教科書の検定をめぐって裁判が行われたことがありました。

教科書はそのほかにも多くの人に見やすいカラー(　い　)に配慮したつくりがほどこされています。誰もが使いやすいように工夫されているのも平等権や(エ)生存権を保障するためといえます。

問１　下線（ア）についての説明として適当でないものを選び，番号で答えなさい。

1　税には所得税や住民税などの国税と相続税や固定資産税などの地方税がある。
2　消費税は税を納める人と負担する人が異なる税である。
3　所得税は収入の多い人ほど多く税を納める仕組みとなっている。
4　法人税は企業の利益に対してかけられている税である。

問２　下線（イ）を保障するために1947年に制定された法律を選び，番号で答えなさい。

1　民法　　2　教育勅語　　3　教育基本法　　4　少年法

問３　空らん(　あ　) にあてはまる省名を漢字で答えなさい。

問４　下線（ウ）の裁判では何の自由の侵害について争われたか，もっとも適当なものを選び，番号で答えなさい。

1　信教の自由　　2　人身の自由　　3　経済活動の自由　　4　表現の自由

問５　空らん(　い　) にあてはまる語句を選び，番号で答えなさい。

1　バリアフリー　　2　ユニバーサルデザイン　　3　ノーマライゼーション　　4　トレーサビリティ

問６　下線（エ）の権利の保障を求めた裁判の説明として適当なものを選び，番号で答えなさい。

1　小説の登場人物のモデルとされた人物が，許可なく自分の私生活を公開されたとして，訴えを起こした。
2　生活保護を受けている人物が，家族から送金をしてもらえるようになったことを理由に，自治体から生活保護費を減らされたことに対して，訴えを起こした。
3　夫婦は同じ姓にしなくてはならないとする決まりは，憲法違反であるとして訴えを起こした。
4　身体に障がいを抱えた生徒が高校を受験し，障がいを理由に不合格となったことに対して訴えを起こした。