【１】次の先生と諭吉くん、信三くんの会話を読んで、各問に答えなさい。

諭吉「日本では、お金はいつごろから使われていたのかな。」
信三「発掘されている一番古いものは、683年ころの（　ア　）だよ。」
諭吉「僕は708年の（　イ　）だと思っていたけれど、もっと古いんだね。」
先生「平安時代には、十数種類の貨幣が作られました。」
諭吉「そんな昔に、日本ではたくさんの貨幣を作ることができていたんですね。」
信三「でも、貨幣が足りなくて、外国から大量に輸入していましたよね？」
先生「室町時代には、日明貿易で明銭を大量に輸入していました。貨幣経済に早くから注目していたことでも有名な戦国大名の［　A　］は、自軍の旗印にその明銭を使っていました。」
信三「江戸時代に入ると、国産の金・銀・銅の三貨が広く使われるようになりますね。」
諭吉「江戸時代の（　ウ　）はたくさん作られた貨幣だよ。」
先生「そうですね。庶民には金貨や銀貨は縁遠いものでした。もっぱら高額の取引で使われていたようです。また、銀山の多い西国では銀貨中心、江戸に近い東国では①金貨中心と、東西で違いがあったのです。」
信三「江戸時代の貨幣改鋳※によって、世の中が混乱したという話も聞いたことがあります。」
諭吉「財政難の幕府が、品質を落とした金・銀貨を作ったんですね。」
先生「②5代将軍徳川綱吉のときに行われた『元禄の改鋳』では、貨幣の価値が下がってしまったことから、物価が上昇して庶民の生活が混乱しました。その後も江戸時代には数回にわたって改鋳がくり返されました。」
信三「紙幣を使い始めたのは、明治時代以降ですよね。」
諭吉「当時のお金のデザインには、どんなものがあったんだろう。③今のお金のデザインとくらべてみたいね。」
先生「2024年には④新紙幣の発行も予定されています。最新の偽造防止技術に加えて、⑤視覚障害のある方や日本語のわからない外国人観光客を想定して、だれでも金額の違いがわかりやすく、使いやすい工夫を取り入れているそうです。こうした点にも注目してみてくださいね。」

※貨幣改鋳…古い貨幣を回収して新しい貨幣に作り直すこと

問１　（　ア　）～（　ウ　）に入る貨幣の正しい組み合わせを選び、数字で答えなさい。

1　（ア）寛永通宝　（イ）富本銭　（ウ）和同開珎
2　（ア）富本銭　（イ）和同開珎　（ウ）寛永通宝
3　（ア）和同開珎　（イ）寛永通宝　（ウ）富本銭

問２　［　A　］に入る人物名を**漢字**で答えなさい。

問３　下線部①に関して、当時の金の採掘地として有名な「佐渡金山」の場所を**＜地図＞**から選び、数字で答えなさい。

＜地図＞

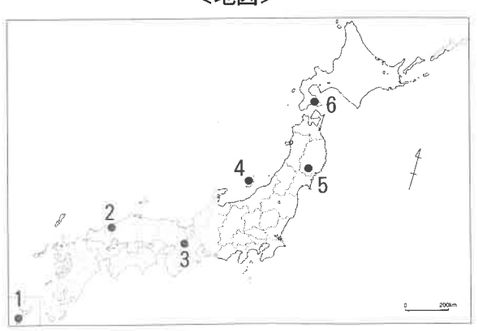

問４　下線部②のころに起きた出来事を選び、数字で答えなさい。

1　赤穂事件が起こる　3　大塩平八郎の乱が起こる
2　日光東照宮が建てられる　4　目安箱が設置される

問５　下線部③についてまとめた次の表１・２を見て、（１）～（４）の問いに答えなさい。

＜表１　現在の紙幣のデザイン＞

	表面	裏面
一万円	Ⓐ	鳳凰像
五千円	Ⓑ	燕子花図
二千円	建物**ア**	源氏物語絵巻とⒹ
千円	Ⓒ	富士山と桜

＜表２　現在の硬貨のデザイン＞

	表面	裏面
一円	Ⓔ	金額等
五円	稲穂・歯車・水	双葉
十円	建物**イ**・唐草	常盤木
五十円	Ⓕ	金額等
百円	Ⓖ	金額等
五百円	Ⓗ	竹・橘

（１）　Ⓐ～Ⓓに入る人物名の正しい組み合わせを選び、数字で答えなさい。

1　Ⓐ野口英世　Ⓑ紫式部　Ⓒ福沢諭吉　Ⓓ樋口一葉
2　Ⓐ野口英世　Ⓑ樋口一葉　Ⓒ福沢諭吉　Ⓓ紫式部
3　Ⓐ福沢諭吉　Ⓑ樋口一葉　Ⓒ野口英世　Ⓓ紫式部
4　Ⓐ福沢諭吉　Ⓑ紫式部　Ⓒ野口英世　Ⓓ樋口一葉

（２）　Ⓔ～Ⓗに入る植物の正しい組み合わせを選び、数字で答えなさい。

1　Ⓔ菊　Ⓕ桜　Ⓖ桐　Ⓗ若木　3　Ⓔ桐　Ⓕ若木　Ⓖ菊　Ⓗ桜
2　Ⓔ桜　Ⓕ桐　Ⓖ若木　Ⓗ菊　4　Ⓔ若木　Ⓕ菊　Ⓖ桜　Ⓗ桐

（３）　建物**ア・イ**の所在地を**＜地図＞**からそれぞれ選び、数字で答えなさい。

（４）　1948（昭和23）年に発行された五円硬貨の表面にあるデザインは、日本の原動力となる産業を表しています。「水」は水産業を表していますが、「**稲穂**」と「**歯車**」は何を表しているでしょうか、それぞれ**漢字**で答えなさい。

問６　下線部④について、（１）と（２）の問いに答えなさい。

（１）　新紙幣の肖像画に使用される人物名の正しい組み合わせとして正しいものを選び、数字で答えなさい。

1　［一万円札］：北里柴三郎　［五千円札］：渋沢栄一　［千円札］：津田梅子
2　［一万円札］：渋沢栄一　［五千円札］：津田梅子　［千円札］：北里柴三郎
3　［一万円札］：津田梅子　［五千円札］：北里柴三郎　［千円札］：渋沢栄一

（２）　新千円札の裏面で使われるデザインを選び、数字で答えなさい。

1　東海道五十三次　2　風神雷神図屏風　3　富嶽三十六景　4　見返り美人図

問７　下線部⑤について、このような工夫を表すものとして正しいものを選び、数字で答えなさい。

1　エコデザイン　2　バリアフリーデザイン　3　プロダクトデザイン　4　ユニバーサルデザイン

【2】 次の福沢諭吉についての年表を見て、各問に答えなさい。

1835年	（ ア ）藩の下級武士の子として、（ イ ）で誕生
1854年	（ ウ ）に出て［ A ］語の初歩を学習
1855年	（イ）で①適塾に入塾し、［ A ］語を本格的に学習
1858年	（ エ ）の築地鉄砲洲で［ A ］語の学塾を開設
1859年	（ オ ）に行くも［ A ］語が役に立たず、独学で英語の習得を開始
1860年	②船でアメリカにわたり、サンフランシスコやハワイに滞在
1868年	鉄砲洲から芝新銭座に塾を移し、慶應義塾と命名
1872年	③『学問のすゝめ』（初編）を出版

問1 （ ア ）～（ オ ）に当てはまる地名をそれぞれ選び、数字で答えなさい。

1　江戸　　2　大阪　　3　下田　　4　長崎　　5　中津　　6　横浜

問2 ［ A ］に入る国名を選び、数字で答えなさい。

1　イタリア　　2　オランダ　　3　ドイツ　　4　フランス

問3 下線部①について、この塾を開いた人物を選び、数字で答えなさい。

1　緒方洪庵　　2　勝海舟　　3　林羅山　　4　吉田松陰

問4 下線部②に関して、福沢のように渡米したことのある人物を選び、数字で答えなさい。

1　大久保利通　　2　西郷隆盛　　3　坂本龍馬　　4　吉田松陰

問5 下線部③の冒頭の文について、次の文中の「○」に共通して入る語句を答えなさい。

「天は◯の上に◯をつくらず◯の下に◯をつくらずといへり」

問6 福沢は、1901（明治34）年の元旦に、世界が新しい時代を迎えたことへの感慨を表し、「**独立自尊　迎新**［ B ］」という書を記しました。［ B ］に入る言葉を**漢字**2字で答えなさい。

【3】 次の地形図Ⓐ～Ⓒについて、各問に答えなさい。

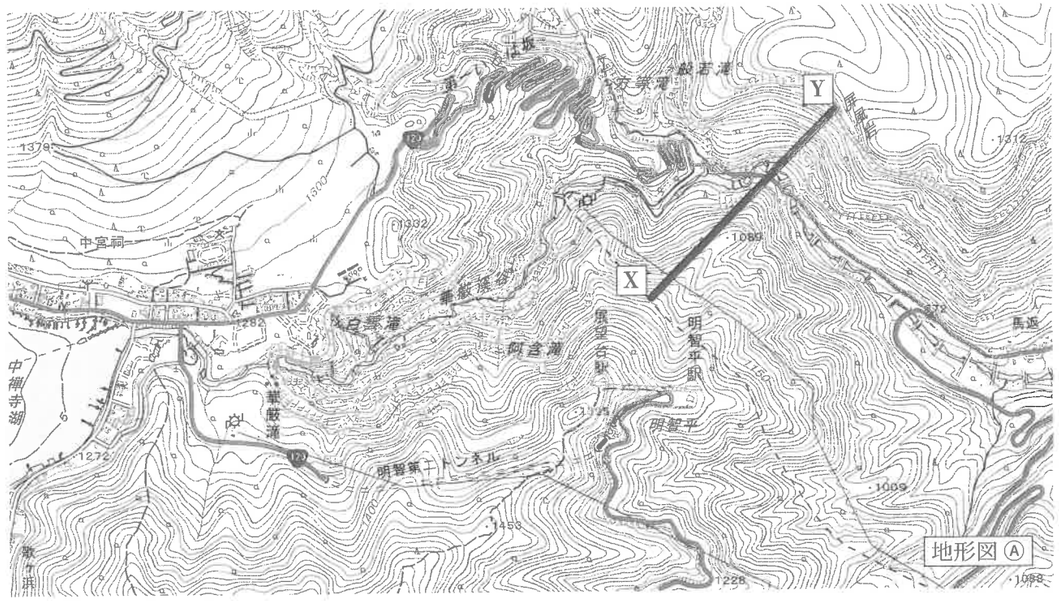



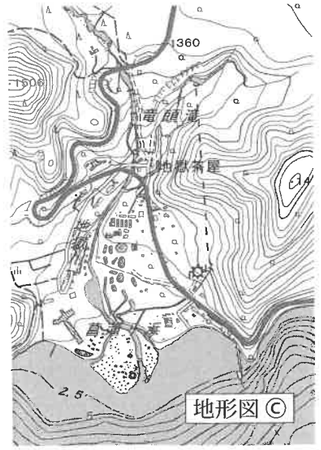

（国土地理院　2万5千分1地形図「日光南部」「男体山」より作成）
（注：編集上の都合により、縮小してあります。Ⓑ とⓒは同じ縮小の割合です。）

問1 地形図Ⓐ上のX－Y間の断面を簡略化してあらわした図として正しいものを選び、数字で答えなさい。

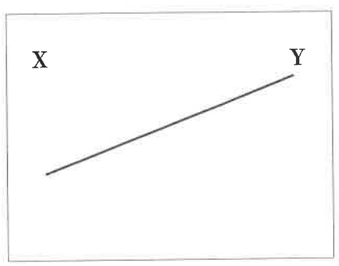

1

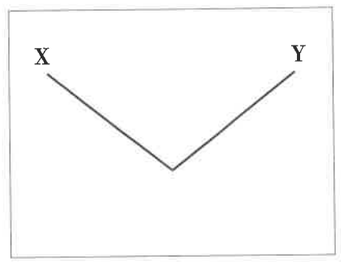

2

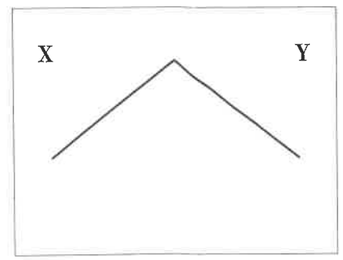

3

問2　地形図Ⓐから読み取れる内容として**正しくないもの**を1つ選び、数字で答えなさい。

1　明智平駅からロープウェイに乗ると、中禅寺湖畔に到着する
2　湖畔の住宅地には交番や消防署はあるが、病院はない
3　発電所は川沿いの斜面と、斜面の間の比較的平たんな場所にある
4　もっとも標高が高い場所は1450mより高い

問3　地形図Ⓑの湯滝とⓒの竜頭滝について、正しいものを1つ選び、数字で答えなさい。

1　どちらの滝もすぐ湖に流れ込んでいる
2　どちらの滝も道路が真上を横切り、車から滝を眺めることができる
3　湯滝は急斜面を流れ落ちているが、竜頭滝はゆるい傾斜を流れる
4　竜頭滝の方が湯滝よりも標高の高い位置にある

【4】次の感染症の歴史をまとめた年表をみて、各問に答えなさい。

前14世紀	①ツタンカーメンがマラリアで病死する
前5世紀	ペロポネソス戦争中の②アテネで疫病が流行する
3世紀頃	弥生時代の③古墳に結核の患者が埋葬される
7世紀	④仏教とともに中国大陸から天然痘※が持ち込まれる　※天然痘　ウイルスによる感染症
8世紀	天平の大疫病で天然痘が広がる
752年	社会不安を和らげるため（　ア　）が建立される
1181年	（　イ　）がマラリア※で病死する　※マラリア　蚊が媒介する原虫の寄生による感染症
14世紀	ヨーロッパでペスト（黒死病）が大流行する
⑤1858年	米国船由来のコレラが日本で流行する
19世紀	⑥日本の近代工業化とともに紡績工場で結核が流行する
1892年	初めてウイルスの存在が発見される
1894年	⑦北里柴三郎がペスト菌を発見する
1918年	⑧アメリカ起源のスペイン風邪が世界で大流行する
1980年	⑨世界保健機関が天然痘の根絶を宣言する
2003年	SARSがアジアに広まる

問1　下線部①について、その人物の説明として正しいものを選び、数字で答えなさい。

1　古代インドの王です　　3　古代ギリシャの王です
2　古代エジプトの王です　　4　古代ローマの王です

問2　下線部②について、現在ではオリンピックが2回開催された都市としても有名ですが、同様にオリンピックが2回以上開催された都市を選び、数字で答えなさい。

1　ソチ　　2　ピョンチャン　　3　リオデジャネイロ　　4　ロンドン

問3　下線部③について、その説明として**正しくないもの**を選び、数字で答えなさい。

1　遺体とともに鏡や玉、剣やかぶとなどが出土しました
2　大阪にある大仙古墳は世界最大の面積を持つ墓です
3　古墳の周辺にはさまざまな形の「どぐう」が並べられました
4　当時の王や豪族の墓だと言われています

問4　下線部④について、仏教を厚く信仰した聖徳太子の説明として**正しくないもの**を選び、数字で答えなさい。

1　家がらにとらわれず能力のある豪族を役人にしようとしました
2　天皇中心の国づくりを目ざして政治の改革を進めました
3　唐と対等のつきあいを求めて手紙を届けました
4　仏教を盛んにしようと法隆寺や四天王寺を建てました

問5　（　ア　）に入るものを選び、数字で答えなさい。

1　円覚寺舎利殿　　2　興福寺五重塔　　3　中尊寺金色堂　　4　東大寺大仏

問6　（　イ　）に入る人物を、次の説明文を参考にして、**漢字**で答えなさい。

> 太政大臣になりました
> 娘を天皇にとつがせ、政治の実権をにぎりました
> 厳島神社を厚く尊び、社殿を造営しました

問7　下線部⑤の年より前の出来事を選び、数字で答えなさい。

1　ペリーが江戸湾（東京湾）を測量する　　3　横浜で貿易が始まる
2　桜田門外で井伊直弼が暗殺される　　4　生麦村でイギリス人が薩摩藩士にきりつけられる

問8　下線部⑥について、当時の工業の発達や労働問題の説明として**正しくないもの**を選び、数字で答えなさい。

1　日清戦争のころから軽工業が、日露戦争のころから重工業が盛んになりました
2　工業の発展とともに農家の長男が工場労働者として働き一家を支えました
3　工業の発達は足尾鉱毒事件などの公害問題もひきおこしました
4　製糸・紡績工場の女子労働者の多くは貧しい農家の出身者でした

問9　下線部⑦に関して、北里の研究所で助手を勤めたのち、黄熱病研究に力を尽くした人物を選び、数字で答えなさい。

1　志賀潔　　2　鈴木梅太郎　　3　野口英世　　4　森鴎外

問10　下線部⑧に関して、（1）と（2）の問いに答えなさい。

（1）「スペイン風邪」は、スペインでの流行が広く報道されたことでこの名がつきましたが、現在のスペインについての説明として正しいものを選び、数字で答えなさい。

1　北米大陸にあります
2　首都はバルセロナです
3　モン・サン・ミッシェルが有名です
4　日本と同緯度に位置しています

（2）右のポスターは、日本でスペイン風邪が流行したころに感染予防をよびかけたものです。［　　］に入る言葉を答えなさい。なお、文字は右から左へ読みます。



（出典：国立保健医療科学院 ホームページより 『流行性感冒』（内務省衛生局著 1922.3））

問11　下線部⑨について、その略称名として正しいものを選び、数字で答えなさい。

1　WFP　　2　WHO　　3　WTA　　4　WTO

【5】次の日本の地震についての年表をみて、各問に答えなさい。

1891（明治24）年	濃尾地震
1896（明治29）年	明治三陸地震
1923（大正12）年	①関東地震（関東大震災）
1933（昭和８）年	昭和三陸地震
1946（昭和21）年	②南海地震
1978（昭和53）年	伊豆大島近海地震
1995（平成７）年	③兵庫県南部地震（阪神・淡路大震災）
2004（平成16）年	④新潟県中越地震
2007（平成19）年	新潟県中越沖地震
2011（平成23）年	⑤東北地方太平洋沖地震（東日本大震災）
2016（平成28）年	熊本地震

問１　下線部①について、午前11時58分に発生したこの地震では、揺れによる倒壊のほか、火災による家屋の焼失が多かったのですが、その理由を15字以上25字以内で答えなさい。

問２　下線部②について、この年の４月に行われた衆議院議員総選挙の説明として正しいものを選び、数字で答えなさい。

1　自由民主党が与党第一党となりました
2　一票の格差が問題となり、違憲判決を受けました
3　選挙法が改正され、18歳以上のすべての男女に選挙権が与えられました
4　初の女性議員39名が誕生しました

問３　下線部③について、この震災後、ボランティア活動の発展を促進することを目的として、1998年に特定非営利活動促進法が施行されましたが、この法律の略称名を選び、数字で答えなさい。

1　BKS法　　2　NGO法　　3　NPO法　　4　PKO法

問４　下線部④について、この地震では地すべりや液状化によりライフラインへの被害が多く発生しましたが、この「ライフライン」に**あてはまらないもの**を選び、数字で答えなさい。

1　飲料水の供給に必要な河川　　3　電力の供給に必要な電線
2　情報伝達に必要な電話線　　4　物資輸送に必要な鉄道

問５　下線部⑤について、都心で多くの帰宅難民を生んだこの地震以降、東京都内の私立小学校・中学校・高校は、震災発生時に、その学校だけでなく他の私立学校の生徒の避難も一時的に受け入れる約束を結びました。この約束を結んだ理由を20字以上50字以内で答えなさい。

2021年度

慶應義塾中等部

社会解答用紙

氏名

社 02　受験番号 10041

〔注意事項〕

1. 氏名を書くらんは1か所、受験番号を書くらんは2か所あります。
2. 氏名・受験番号・解答らん以外のところには何も書かないこと。
3. 左側の解答は、すべて番号で答えなさい。
   □の中に数字を1字ずつ記入しなさい。
4. 数字はまぎらわしくないように、はっきりと書きなさい。
   下のらんの数字を参考にして書きなさい。

0 1 2 3 4 5 6 7 8 9

受験番号

【1】

問1	問2	問3	問4	問5				
				(1)	(2)	(3) ア	(3) イ	(4)
	右欄							右欄

問6		問7
(1)	(2)	

記入しないこと！

【2】

問1					問2	問3	問4	問5	問6
(ア)	(イ)	(ウ)	(エ)	(オ)					
								右欄	右欄

【3】

問1	問2	問3

記入しないこと！

一

【4】

問1	問2	問3	問4	問5	問6	問7	問8	問9
					右欄			

問10		問11
(1)	(2)	
	右欄	

記入しないこと！

【5】

問1	問2	問3	問4	問5
右欄				右欄

記入しないこと！

一

【1】

問2

問5 (4)			
稲穂		歯車	

【2】

問5

問6

【4】

問6

問10 (2)

【5】

問1									

20

25

問5									

20

50