中【①】

２０２６年度

入学試験問題

社　会

注　意　事　項

１　試験開始の合図があるまで，この問題冊子の中及び解答用紙を見てはいけません。

２　問題の内容に関する質問には，一切答えられません。ただし，試験中に問題冊子の印刷不鮮明，ページの落丁・乱丁，解答用紙の汚れ等に気付いた場合は，静かに手をあげて試験監督に知らせてください。

３　この問題冊子も回収するため，試験開始前に試験監督の指示に従い表紙下の受験番号欄に，受験番号（数字）を記入してください。

４　解答用紙には，次の欄があります。

①　受験番号欄

試験開始後すぐに，受験番号を記入してください。

②　解答欄

解答は，解答欄をはみ出さずにていねいに記入してください。はみ出すと採点されない場合があります。

③　シール貼り付け欄

試験監督の指示に従い，ＱＲコードシールを１枚貼り付けてください。

受験番号			

1　エネルギー資源と鉱産資源に関する次の文章を読み，あとの問いに答えなさい。

エネルギー資源は，水力や①風力，太陽光などのように自然界にそのままで存在する1次エネルギーと，電力やガソリンなどのように1次エネルギーを加工した2次エネルギーがあります。18世紀の産業革命以後は，石炭を中心とする化石燃料がエネルギー資源として広く使われるようになり，様々な②産業が飛躍的に発展しました。

20世紀に入ると石油の利用が増加し，日本では1960年代後半に，エネルギー消費の中心が石炭に代わって石油となる［　A　］が起きました。最近では③燃焼時の汚染物質の排出が少ない天然ガスの利用も増えています。

また，人間の生活を大きく変えてきた資源として，金属資源があります。なかでも④鉄鉱石は埋蔵量が多く，あらゆる産業に幅広く利用されてきました。近年は，スマートフォンや電気自動車などの生産拡大に伴い，ニッケル，クロム，コバルトなどの［　B　］と呼ばれる金属資源の需要が増加しています。日本では，都市部に多くある使用済みのスマートフォンや電気機械製品などといった潜在的な資源が多くあるという観点で，金属資源を有効に回収し再生資源として活用する取り組みが進められています。

問 1　A ・ B に当てはまる語句を答えなさい。

問 2　下線部①に関して，次の図 1 中の D・E は，風力発電と太陽光発電の発電量を都道府県別に調べて，発電量の多い上位 2 地域を表しています。また，あとの説明文 F・G は，いずれかの発電方法の特徴について説明したものです。太陽光発電にあてはまる図と説明文の組み合わせとして正しいものを，下のア～エから 1 つ選び，記号で答えなさい。

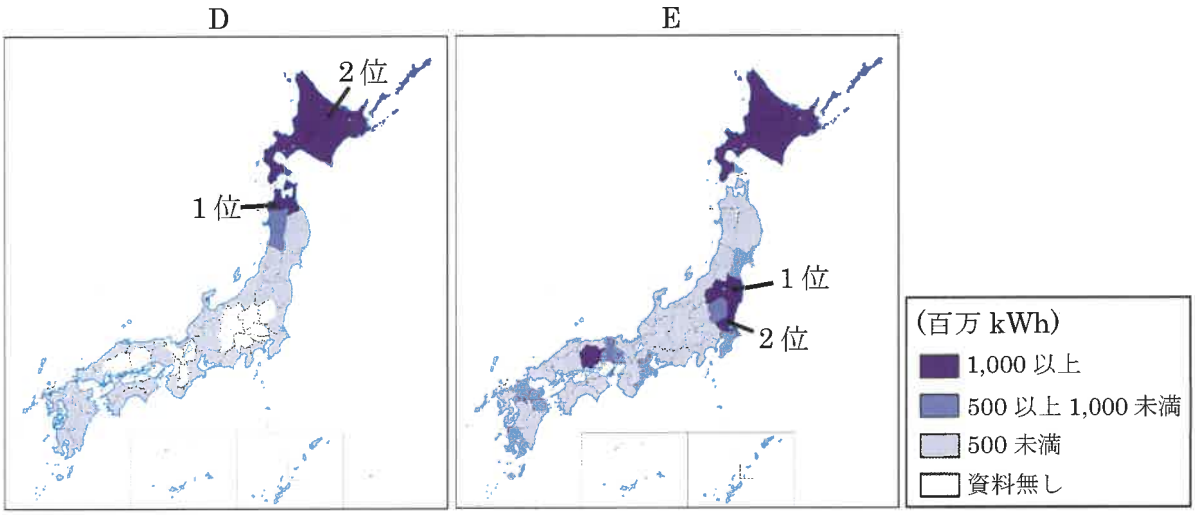

データでみる県勢 2022 による。

図 1

説明文　F.　環境に与える負荷が小さいだけでなく，災害時の非常用電源としての有用性が期待される発電であり，発電量も火力，水力，原子力，に次いで多い。季節や天候により発電量が大きく変動するデメリットがある。

G.　気象条件に左右されるだけでなく，地域住民への影響が懸念されるため，設置場所を適切に選定する必要がある発電である。また，最近では洋上での発電がより強いエネルギーを得られるため，導入を検討している地域もある。

	ア	イ	ウ	エ
図	D	D	E	E
説明文	F	G	F	G

問 3　下線部②に関して，次の表 1 のア～エは，前のページの図 1 中の風力発電と太陽光発電それぞれの発電量が 1 位・2 位の都道府県における産業別就業者の割合を表しています。風力発電量が 1 位の都道府県の割合に当てはまるものを，表 1 中のア～エから 1 つ選び，記号で答えなさい。

表 1

（単位：%）

	ア	イ	ウ	エ
第 1 次産業	6.1	5.4	12.0	6.3
第 2 次産業	17.4	30.6	20.8	31.1
第 3 次産業	76.5	64.0	67.2	62.6

データでみる県勢 2022 による。

問 4　下線部③に関して，次の表 2 は京都議定書とパリ協定のいずれかの内容を表しています。表 2 中の空欄 L ～ O に当てはまる語句の組み合わせとして正しいものを，下のア～エから 1 つ選び，記号で答えなさい。

表 2

L の主な内容
・すべての国に対して削減目標の作成・報告を義務化した ・世界の平均気温上昇を産業革命前より M ℃未満に抑える ・今世紀後半に温室効果ガスの排出と吸収を均衡するように設定

N の主な内容
・先進国の温室効果ガス排出量について，法的拘束力のある数値目標を国ごとに設定 ・発展途上国に対しては法的拘束力のある数値目標の設定を先送り ・先進国全体で定められた期間（5 年間）に 1990 年比で温室効果ガスの排出量を少なくとも約 O %減らすことを目指す

	L	M	N	O
ア	京都議定書	2	パリ協定	5
イ	京都議定書	10	パリ協定	10
ウ	パリ協定	2	京都議定書	5
エ	パリ協定	10	京都議定書	10

問5　下線部③に関して，天然ガスは東京湾に面した港での輸入が盛んです。次の表3は，東京湾に面した横浜港，千葉港，川崎港の輸入品目と輸出品目の上位3品目の輸出入額を表し，P～Rは3港のいずれかが当てはまります。P～Rと3港の組み合わせとして正しいものを，下のア～カから1つ選び，記号で答えなさい。

表3

P					
輸出品目	(百万円)	(%)	輸入品目	(百万円)	(%)
自動車	927，475	15.9	石油	255，394	6.3
プラスチック	271，828	4.7	有機化合物	139，093	3.4
内燃機関	258，556	4.4	液化天然ガス	136，264	3.4
計	5，819，977	100	計	4，054，454	100
Q					
輸出品目	(百万円)	(%)	輸入品目	(百万円)	(%)
石油製品	122，598	20.8	石油	1，280，862	51.7
鉄鋼	122，158	20.7	液化天然ガス	388，127	15.7
有機化合物	108，505	18.4	自動車	220，092	8.9
計	590，280	100	計	2，478，209	100
R					
輸出品目	(百万円)	(%)	(輸入品目)	(百万円)	(%)
自動車	349，529	39.1	液化天然ガス	532，892	29.3
有機化合物	93，343	10.4	石油	387，955	21.3
鉄鋼	63，376	7.1	肉類	327，686	18
計	894，102	100	計	1，821，534	100

統計年次は2020年。日本国勢図会による。

	ア	イ	ウ	エ	オ	カ
P	川崎港	川崎港	千葉港	千葉港	横浜港	横浜港
Q	千葉港	横浜港	川崎港	横浜港	川崎港	千葉港
R	横浜港	千葉港	横浜港	川崎港	千葉港	川崎港

問6　下線部④に関して，次の図2は2019年に生産された粗鋼（鉄鉱石を製錬したもの）の世界上位4か国の生産量の推移を表したものです。図2中のX国とY国に当てはまる国の組み合わせとして正しいものを，下のア～エから1つ選び，記号で答えなさい。

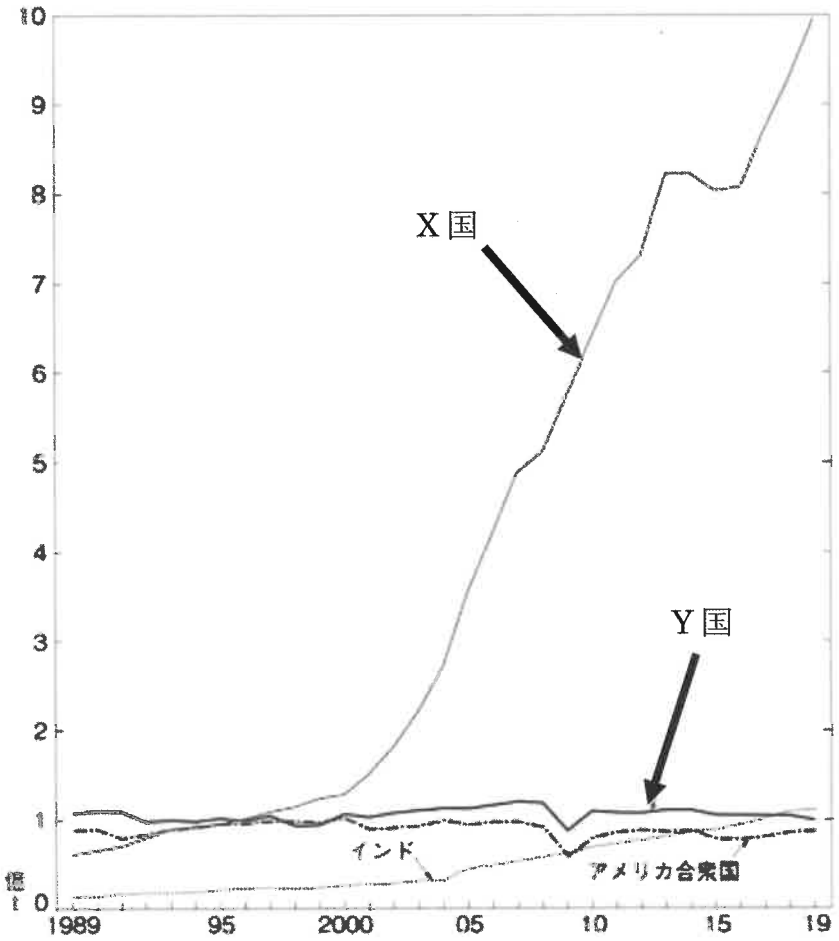

日本国勢図会による。

図2

ア．　X国：中国　　Y国：韓国
イ．　X国：中国　　Y国：日本
ウ．　X国：ロシア　　Y国：韓国
エ．　X国：ロシア　　Y国：日本

2は次のページからです。

2　次のA～Gの史料を読んで，あとの問いに答えなさい。

A　その一，昔在の天皇等が設置した子代※1の民，各地の屯倉※2，及び，別には臣・連・伴造・国造・村首の所有する部曲※3の民，各地の田荘※4を罷めよ。

その二，初めて都城※5の制を定め，……地方行政区画を定めよ。

その三，①初めて戸籍・計帳・班田収授の法を造れ。……

その四，旧の賦役※6を罷めて，田の調※7を行へ。……

※1 子代：天皇の直属民　※2 屯倉：ヤマト政権の直轄領

※3 部曲：豪族の私有民　※4 田荘：豪族の私有地

※5 都城：天皇の住居を中心とする宮と官僚や民衆の居住区で構成する京とでつくられた都

※6 賦役：従来の労働中心の税　※7 調：田に課せられた税

B・［　I　］の町は非常に大きく、大商人が大勢いる。この町はベニス市のように，会合衆の合議によって自治的に町が治められている。

・　日本全国のなかで，この［　I　］の町よりも安全なところはなく，他の諸国で戦乱があっても，この町では今まで起こったことはなく，敗れた者も勝った者も，この町に来て住めば皆平和に暮らし、人々は仲良くして，他人に危害を与えるようなものはいない。……町中にはすべて門があってそこに番人を置き，もめごとがあればすぐに門を閉じることも，町が安全である一つの理由である。……町は非常に堅固に守られており，西は海，他の側は深い堀で囲まれ，常に水が満ちている。

C　今年になって切米※1などの支給も困難となり，……。そこで，②代々の将軍からはご命令されなかったことであるが，一万石以上の大名から米を幕府に差し出す命令を下すように将軍がお考えになった。……石高一万石につき米百石の割合で差し出しなさい。……これによって江戸在府を半年短縮するので，国元でゆっくり休息をとるように，と命令された。

※1 切米：領知（領地）を与えられていない武士に対する給料

D　詔して曰く，「聞くところによると，墾田は③養老七年の格※1によって，期限が切れた後，例によって収公※2される。是に由りて農夫怠けて，開墾した土地も再び荒廃する，と。今後は，そのまま私財と為し，【　※　】を論ずること無く，みなすべて永年に収公してはならない。…」

※1 格：律令の修正や補足のために出された法のこと

※2 収公：国家や幕府が租税や土地を没収すること

【　※　】は問題の構成上，本文を示さないようにしています。

E　一　諸国の守護の職権のこと

右，右大将家の時に定められた職権は，大番催促・謀叛・殺害人の逮捕（ほかに夜討・強盗・山賊・海賊の逮捕を含む）である。

一　諸国の地頭が年貢をとどめ置くこと

年貢を納めていないという荘園領主からの訴訟があれば，すぐに既納・未納を決算し，裁定を受けなければならない。横領したことが間違いなければ，その分に応じて弁償すること。……

なお，この旨に背いてことを速やかに解決しなければ，地頭職をやめさせる。

F　［Ⅱ］については，慶長年間以来，将軍が代々信用されている学問で，林家でも代々［Ⅱ］の学風維持を命じられているのだから，怠りなく［Ⅱ］の修養に励み，門人たちを養成すべきである。ところが，近頃世間では様々な新しい学説を唱え，異学が流行し，風俗を乱すものがいるが，……よろしくないことである。……

このたび④湯島聖堂の学問所の取締りを厳重にするように命令され，……よくよくこの命令の趣旨を言い聞かせ，必ず門人たちに異学を学ぶことを禁止し，……［Ⅱ］の研究に励み，人材を養成するように心掛けなさい。

G　第二条　露西亜帝国政府は，日本が韓国で政治・軍事・経済における卓越した利益を持つことを認め，日本帝国政府が韓国で必要と認める指導・保護・監督管理の措置をとる際，それを妨害したり干渉したりしないことを約束する。

第五条　露西亜帝国政府は，清国政府の了解により，旅順港・大連，その付近の領土（関東州）と領海の租借権，その租借権に関連し，またはその一部を成すすべての権利・特権・譲与を日本帝国政府に移転し譲り渡す。

第九条　露西亜帝国政府は、サハリン島南部とその付近のすべての島々，そしてその地方のすべての公共建造物・財産を，完全な主権とともに永久に日本帝国政府に譲り与える。その譲り与える地域の北方の境界は，北緯［Ⅲ］度に定める。

問1　文章中［　Ⅰ　］～［　Ⅲ　］に当てはまる地名や語句，数字を答えなさい。

問2　下線部①に関連して，この後，朝廷によって定められた土地制度や税などの負担について述べた文として誤っているものを，次のア～オから1つ選び，記号で答えなさい。

ア．　戸籍にもとづいて，6歳以上の男子には2段，女子にはその3分の2の口分田が与えられました。
イ．　雑徭は，国司のもとで，1年に60日以内の労働をするという負担です。
ウ．　租は地方の特産物を納める税です。国（中央）の財源になりました。
エ．　兵士は，成年男子の約3人に1人の割合で徴発され，防人や衛士として九州や都の守りにつきました。
オ．　『万葉集』に収められた「貧窮問答歌」には，重税に苦しむ農民のつらい暮らしが描かれています。

問3　下線部②に関連して述べた次の文のX・Yと，その政策を行った江戸幕府の将軍a～dとの組み合わせとして正しいものを，下のア～エから1つ選び，記号で答えなさい。

X　幕府は質の悪い貨幣をつくって貨幣の量を増やし，収入を増やそうとしましたが，物価が上昇し，人々の生活は苦しくなりました。
Y　アヘン戦争で清がイギリスに敗れたことを知ると，幕府は異国船打払令を改めて，外国船に水や食料を与えて帰すようにしました。

a　徳川家綱　　b　徳川綱吉　　c　徳川家慶　　d　徳川慶喜

ア．　X－a　Y－c　　イ．　X－a　Y－d
ウ．　X－b　Y－c　　エ．　X－b　Y－d

問4　下線部③について，「養老七年の格」とはDの時代に出されたある法令を指しています。この法令の名前を答えなさい。また，この法令を出した天皇は誰ですか。次のア～エから1つ選び，記号で答えなさい。

ア．天武天皇　　イ．元正天皇　　ウ．推古天皇　　エ．持統天皇

問5　Eの時代の文化について述べているものとして正しいものを，次のア～オから1つ選び，記号で答えなさい。また，ア～オを左から時代の古い順に並べ替えなさい。

ア．　人々のいきいきとした姿を浮世草子とよばれる小説に書きました。代表作として『世間胸算用』や『日本永代蔵』があります。

イ．　浄土教が流行したことにより，平等院鳳凰堂や中尊寺金色堂など阿弥陀仏をまつる阿弥陀堂が各地に建てられました。

ウ．　和歌を上の句と下の句に分け，人々が交互によみ合う連歌がさかんになりました。

エ．　平家の興亡(こうぼう)を主題とした『平家物語』は琵琶法師(びわほうし)によって語り伝えられ，文字を読めない多くの人々にも広く親しまれました。

オ．　朝廷は，諸国に命じて，各国の産物や地名，伝説などを『風土記』として記録させました。

問6　下線部④について，湯島聖堂は，もともと上野忍ヶ岡にあった林羅山の邸内に設けられたある人物の霊廟(れいびょう)（霊をまつる建物）を1690年に五代将軍が湯島に移したものです。ある人物とは誰かを漢字2字で答えなさい。

問 7　以下の図は，G の条約が締結される前の国際関係を表しています。A～D に当てはまる国名をそれぞれカタカナで答えなさい。

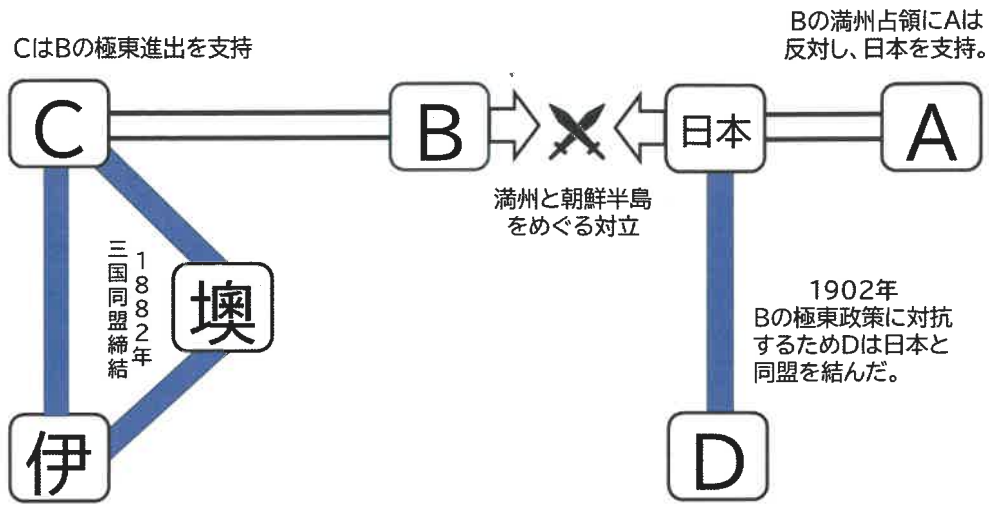

問 8　問題文の B～F について，左から時代の古い順に並べ替えたものとして正しいものを，次のア～クから 1 つ選び，記号で答えなさい。

ア．　D→B→C→F→E
イ．　D→B→E→C→F
ウ．　D→E→B→C→F
エ．　D→E→B→F→C
オ．　E→B→D→C→F
カ．　E→B→D→F→C
キ．　E→D→B→F→C
ク．　E→D→C→B→F

3は次のページからです。

3 次の文章を読んで，あとの問いに答えなさい。

私たちは毎日の生活を営むなかで，①テレビ，インターネット，新聞などによって多くの情報に接しています。このように大量の情報が生産,消費されている社会を情報社会といいます。情報の送り手としてマスメディアは，社会の様々な出来事を私たちに伝え，②主権者たる国民の多数意見である世論の形成に大きな役割を果たしています。その反面，マスメディアは企業であるため，視聴率を上げたり，購読者数の増大をはかることを第一とする商業主義に陥(おちい)る場合もあります。私たちはマスメディアから伝えられる大量の情報を同時に受け取るため，大多数の人が同じ意見を持つ可能性があり，時には，意図的に情報操作をして人々の考えを一定方向にむけさせる危険性があります。③選挙報道などで起こりうる現象で，マスメディアの報道には一般大衆の考えを加速させたり，変更させたりする効果があるといわれています。また，SNS（ソーシャル・ネットワーキング・サービス）などでは，発信者の意図が含まれたり，誤った情報が送られたりする可能性もあります。インターネットでは，見たい情報が優先的に表示され，見たくない情報が遮断(しゃだん)される環境により，情報に偏(かたよ)りが生じるフィルターバブルが起こることも指摘されています。だからこそ，④ふれる情報のなかで，自らの選択と判断によって，情報を価値のあるものとしていかなければならないのです。

情報社会が進んでくると，［ X ］などの⑤人権問題も発生しました。［ X ］とは，特許権などの工業所有権と，出版物や音楽 CD などの著作権との二つに大別されますが，誰もが情報を自由に入手し，加工することができる情報機器が普及したため，［ X ］が尊重されにくい状況になってしまいました。また，情報機器の普及により，多くの人がコンピューターに日々ふれており，コンピューターに関わる様々なことによって，新たな緊張状態を生み，精神的な不調を誘発しているケースが存在します。このような緊張や状況はテクノストレスと呼ばれています。

人工知能（AI）の開発や活用を促進する新しい法律が，2025 年 5 月に成立しました。⑥政府が法案を閣議決定するにあたっては，「AI 技術は⑦社会経済の発展の基盤である一方で，犯罪への利用や個人情報の漏(ろう)えいなど，国民の権利や利益が侵害される事態を助長するおそれがあり，適正な実施を図るための施策を講じる」としています。技術の進歩により，インターネットなどは生活に欠かせないものとなっていますが，大きく発展している AI も含め，我々はコンピューターや情報を適切に活用していく必要がより求められています。

問１　下線部①について，デジタル社会の実現に向けて，各府省を管理するために「デジタル庁」が設置されていますが，それ以前から，テレビや携帯電話などの「情報通信」関係を担当している行政機関を，次のア～エから１つ選び，記号で答えなさい。

ア．　総務省　　イ．　国土交通省　　ウ．　経済産業省　　エ．　文部科学省

問２　下線部②について，日本においては，主権者である国民は，行政権を持つ内閣に世論を通じて影響を与え，また，立法権を持つ国会に対しては，選挙を通じて意思を示すことができます。では，司法権を持つ裁判所に対しては，国民が主権を行使することができる仕組みとは何ですか。漢字で答えなさい。

問３　下線部③について，日本の選挙で採用されている「非拘束名簿式」に関する次の説明文において，空欄に入る語句の組み合わせとして正しいものを，下のア～シから１つ選び，記号で答えなさい。

非拘束名簿式は，（　A　）の選挙における，（　B　）制で採用されており，有権者は，（　C　）を記入して投票を行います。そのため，名簿には順位が決められていません。

ア．　A：衆議院議員　　B：小選挙区　　C：候補者名
イ．　A：衆議院議員　　B：小選挙区　　C：政党名
ウ．　A：衆議院議員　　B：小選挙区　　C：候補者名または政党名のいずれか
エ．　A：衆議院議員　　B：比例代表　　C：候補者名
オ．　A：衆議院議員　　B：比例代表　　C：政党名
カ．　A：衆議院議員　　B：比例代表　　C：候補者名または政党名のいずれか
キ．　A：参議院議員　　B：小選挙区　　C：候補者名
ク．　A：参議院議員　　B：小選挙区　　C：政党名
ケ．　A：参議院議員　　B：小選挙区　　C：候補者名または政党名のいずれか
コ．　A：参議院議員　　B：比例代表　　C：候補者名
サ．　A：参議院議員　　B：比例代表　　C：政党名
シ．　A：参議院議員　　B：比例代表　　C：候補者名または政党名のいずれか

問４　下線部④について，メディアが発信する情報を読解し，判断する能力のことを何といいますか。カタカナ９文字で答えなさい。

問５　本文中の空欄［　X　］に当てはまる語句を，漢字５字で答えなさい。

問６　下線部⑤について，世の中の変化によって，憲法の条文に直接定められていない「新しい人権」と呼ばれるものが主張されています。「新しい人権」について述べた文として誤っているものを，次のア～オから１つ選び，記号で答えなさい。

ア．　自分の生命，健康に関することがらを自らが決定するという「自己決定権」が主張されており，医療現場で，患者が事前に治療の内容についての説明を受け，合意するというインフォームド・コンセントもこれに当たります。

イ．　インターネットの発展によって過去の事象を容易に検索できるようになり，インターネット上に拡散された他人に知られたくない自身の情報の削除を求める「忘れられる権利」が主張されています。

ウ．　主権者である国民が正しく判断できるように，国や地方自治体が持っている情報にアクセス（接近）できる「アクセス権」が主張されており，この保障のため，マスメディアによる取材活動の自由も重要とされています。

エ．　他人に知られたくない個人の情報を無断で公開されない「プライバシーの権利」が主張されており，この権利には，自分に関する情報を自分で管理する権利も含まれていると考えられています。

オ．　人として生活するのにふさわしい環境を求める「環境権」が主張されており，高層建築に対して一定の日当たりを確保する日照権や，非喫煙者が煙草の煙から身を守る嫌煙権などが，これに含まれます。

問 7　下線部⑥について，政府が税金などを集めて，様々な公共の仕事のために使うことを財政といいます。以下の表は，ある国の国家財政における歳入と歳出の項目別の金額を表したものです。2024 年度から 2025 年度にかけてのこの国の財政状況の変化に関する記述として正しいものを，次のア～エから 1 つ選び，記号で答えなさい。ただし，各項目の意味は日本の税制および予算制度に基づくものとします。

		2024年度	2025年度
歳入	所得税	18	22
	法人税	17	21
	消費税	23	23
	公債金	35	27
	合計	93	93

		2024年度	2025年度
歳出	社会保障関係費	37	38
	文教及び科学振興費	5	5
	公共事業関係費	6	6
	地方交付税交付金	11	8
	防衛関係費	7	8
	国債費	27	28
	合計	93	93

ア．　租税収入のうち直接税の比率が上がり，国債の依存度は増加しました。
イ．　租税収入のうち直接税の比率が上がり，国債の依存度は減少しました。
ウ．　租税収入のうち直接税の比率が下がり，国債の依存度は増加しました。
エ．　租税収入のうち直接税の比率が下がり，国債の依存度は減少しました。

問 8　下線部⑦について，社会経済を支える雇用の形態は変化しています。1990 年代にバブル経済が崩壊すると，正社員など正規雇用は減少し，パートタイムやアルバイト，派遣社員など非正規雇用が増加しました。非正規雇用は，企業にとっては，労働者を必要な時だけ雇うことができ，人件費を減らすことができます。一方で，労働者は，収入が安定しないため，生活に不安を感じる人々も多くいます。日本での非正規雇用の割合（役員を除く）として正しいものを，次のア～オから 1 つ選び，記号で答えなさい。数値は，総務省統計局労働力調査 2025 年 5 月分。

ア．　6.1%　　イ．　16.1%　　ウ．　26.1%　　エ．　36.1%　　オ．　46.1%

4－Ⅰ　次の図は，初の本格的な武家政権といわれる鎌倉幕府のしくみを整理したものです。初代の侍所別当（長官）には関東の御家人和田義盛が任命されましたが，一方で，政所別当に任命された大江広元や問注所執事（長官）に任命された三善康信は朝廷に仕えていた貴族出身の人物でした。なぜ鎌倉幕府の中心に貴族が存在していたのでしょうか，以下の図と資料を参考にして説明しなさい。

図

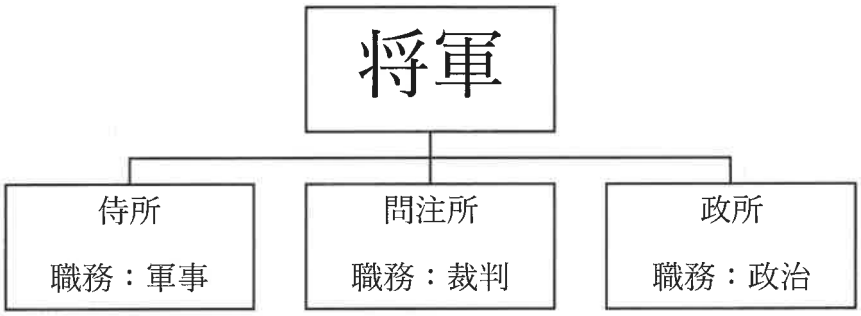

資料

＜承久の乱で鎌倉幕府の軍勢が京都にせまると，後鳥羽上皇からの使者が院宣（上皇の命令書）を持って北条泰時のもとを訪れた。＞

泰時は，「院宣を拝見しましょう。」と言って下馬した。共に勇士が五千人余おり，「この中で院宣を読むことができる者はいるか。」と岡村次郎を通して尋ねたところ，勅使河原三郎が言った。「武蔵国の住人藤田三郎は文書に通じている者です。」召し出すと，藤田が院宣を読んだ。

出典：五味文彦・本郷和人編（2010）『現代語訳　吾妻鏡　8　承久の乱』吉川弘文館

4－Ⅱ　みなさんはSNSをつかったことがありますか。SNSの中でもみなさんの世代に人気が高いのはInstagramやTikTokなどで，小学校高学年での利用率は2～3割程度，中学校での利用率は5割程度と言われています。画像や動画を投稿したり，共有したりすることで，交友関係を広げることのできる便利なツールです。最近では政治や選挙の世界でも多く使われており，自分の政党や立候補者の考え方を若者の有権者向けにアピールするためによく用いられるようになりました。



このようなSNSが広く普及した世の中において，「アテンション・エコノミー」（日本語に訳すと「関心経済」）という言葉が注目を集めています。インターネットの普及によって，私たちは膨大な量の情報に常にアクセスできるようになりました。しかし，私たちの1日の時間や集中力には限りがあります。そのため，動画などのコンテンツを制作するクリエイターや企業は，その限られた「関心」や「注目」を獲得するために激しい競争を繰り広げています。この競争を勝ち抜くために，SNSや動画配信サービスでは，利用者が思わず見てしまうような，興味を引くコンテンツを提供しています。見られる回数が多くなると，広告が表示される機会が増え，投稿者の広告収入が拡大します。つまり，「関心」や「注目」を多く集めれば集めるほど，利益が大きくなる，これがSNSや動画コンテンツサービスの特徴であり，これが「アテンション・エコノミー」なのです。しかし，「注目を集めること」が最大の価値となるため，その問題点も指摘されています。

問　選挙の際にSNSが用いられる場合，本文中にある「アテンション・エコノミー」という仕組みが，どのような問題を引き起こす可能性があるでしょうか。アテンション・エコノミーの特性を踏まえ，具体的にどのような問題が引き起こされるか（A），そしてその結果として，選挙にどのような悪影響があるか（B），をそれぞれ説明しなさい。

2026年度　入学試験問題　社会①　解答用紙

1

問1	A		B		問2	

問3		問4		問5		問6	

2

問１	Ⅰ		Ⅱ		Ⅲ		問2	

問3		問4	法令		天皇	

問5	正しい記号		並べ替え		→		→		→		→	

問6		

問7	A		B		C		D		問8	

3

問１		問2		問3	

問4								問5					

問6		問7		問8	

4-Ⅰ

4-Ⅱ

A	
B	

↓ここにシールを貼ってください↓

受験番号			

261214