中【①】

２０２５年度

入学試験問題

社　会

注　意　事　項

1　試験開始の合図があるまで，この問題冊子の中及び解答用紙を見てはいけません。

2　問題の内容に関する質問には，一切答えられません。ただし，試験中に問題冊子の印刷不鮮明，ページの落丁・乱丁，解答用紙の汚れ等に気付いた場合は，静かに手をあげて試験監督に知らせてください。

3　この問題冊子も回収するため，試験開始前に試験監督の指示に従い表紙下の受験番号欄に，受験番号（数字）を記入してください。

4　解答用紙には，次の欄があります。

①　受験番号欄

試験開始後すぐに，受験番号を記入してください。

②　解答欄

解答は，解答欄をはみ出さずにていねいに記入してください。はみ出すと採点されない場合があります。

③　シール貼り付け欄

試験監督の指示に従い，ＱＲコードシールを１枚貼り付けてください。

受験番号			

1　広尾学園中学校の１年生のリョウジさんは，夏休みの旅行で訪れた長崎県に興味を持ち，様々な地域と比較して調べることにしました。その内容に関してあとの問いに答えなさい。

問１　リョウジさんは，長崎県が九州・沖縄地方で最も海岸線の距離が長いことを知り，九州・沖縄地方にある県を海岸線が長い順に並べた表１を作成しました。表１中の空欄 A～C に当てはまる県の組み合わせとして正しいものを，下のア～カから１つ選び，記号で答えなさい。

表１

県名	海岸線の距離（km）
長崎県	4,183
A	2,665
沖縄県	2,037
B	1,077
大分県	774
福岡県	691
C	405
佐賀県	383

国土交通省　海岸統計より作成

小数点以下は切り捨てて表しています。

	ア	イ	ウ	エ	オ	カ
A	鹿児島県	鹿児島県	宮崎県	宮崎県	熊本県	熊本県
B	熊本県	宮崎県	鹿児島県	熊本県	宮崎県	鹿児島県
C	宮崎県	熊本県	熊本県	鹿児島県	鹿児島県	宮崎県

問2　リョウジさんは，長崎県が九州で最も漁業生産量が多いことを知り，同じく漁業生産量が多い北海道と比較する為に，漁業生産量※と漁業産出額，魚種別漁獲量（2019年）をまとめた表2を作成しました。この表に関して述べた文D・Eについて，その正誤の組み合わせとして正しいものを次のア～エから1つ選び，記号で答えなさい。

※漁業生産量は，漁業漁獲量と養殖業収穫量および内水面（河川・湖沼など）での漁業漁獲量と養殖業収穫量を含めたものです。

表2

	漁業生産量 (t)	漁業産出額 (億円)	魚種別漁獲量(t)		
			タイ類	タラ類	ブリ類
長崎県	275,244	1,013	4,533	-	16,020
北海道	964,320	2,307	3	185,660	10,817

データでみる県勢2022より作成

D　漁業生産量は，北海道の方が長崎県より3倍以上多く，漁業産出額も同じように北海道の方が長崎県より3倍以上高いことが読み取れる。

E　魚種別漁獲量を見ると，タラ類は北海道が多く，タイ類は長崎県で多いことが読み取れる。この要因の一つとして，海流や海水温の影響による地域差が出ていると考えられる。

ア．　D－正　E－正　　イ．　D－正　E－誤
ウ．　D－誤　E－正　　エ．　D－誤　E－誤

問3　リョウジさんは，漁業以外の産業についても興味を持ち，長崎県以外の九州・沖縄地方にある，福岡県，佐賀県，沖縄県の産業別人口の割合（2017年）と，1人当たりの県民所得（2018年）を示す表3を作成しました。表3のア～エには4県のいずれかが当てはまります。沖縄県に当てはまるものを1つ選び，記号で答えなさい。

表3

	第一次産業（%）	第二次産業（%）	第三次産業（%）	1人当たりの県民所得（万円）
ア	2.8	21.4	75.8	288.5
イ	8.4	24.9	66.7	275.3
ウ	7.4	20.3	72.3	262.9
エ	4.0	15.4	80.7	239.1

データでみる県勢2022より作成

問4　リョウジさんは，旅行で訪れた長崎県の「大浦天主堂」がUNESCOの世界遺産に登録されていることを知り，九州地方にある他の世界遺産についても調べることにしました。リョウジさんがまとめた次のア～ウのメモを読み，その世界遺産がある場所を南から北に並べて答えなさい。

ア．

この島は，「神宿る島」として，自然崇拝に基づく航海の安全や成就（じょうじゅ）を祈る祭祀（さいし）の変遷（へんせん）を示す伝統や遺跡が評価され，世界文化遺産に登録されている。

イ．

この集落は，17世紀以降の幕府による禁教政策の下，仏教や神道，キリスト教が共存し，特有のキリスト教信仰を育んだことが評価され，世界文化遺産に登録されている。

ウ．

この島は，「洋上アルプス」と表現され，樹齢数千年の杉などからなる原生的な天然林と自然植生の垂直分布，生態系が残されていることが評価され，世界文化遺産に登録されている。

問5　リョウジさんは，雲仙普賢岳（うんぜんふげんだけ）が1990年代に大規模な噴火活動に伴う災害を引き起こしたことを知り，高温の火山ガスが火山灰と一体となって山肌を下る［ J ］の被害が大きかったことを書籍や資料を見て学びました。［ J ］にあてはまる語句を答えなさい。

［ J ］が
発生している様子



雲仙砂防管理センター　ホームページより作成

問６　リョウジさんは，長崎市内のホテルに宿泊し，市内の様子を地形図で調べてみました。次の図１は長崎市付近をあらわした地形図です。図１に関する次の問いⅰ）・ⅱ）に答えなさい。

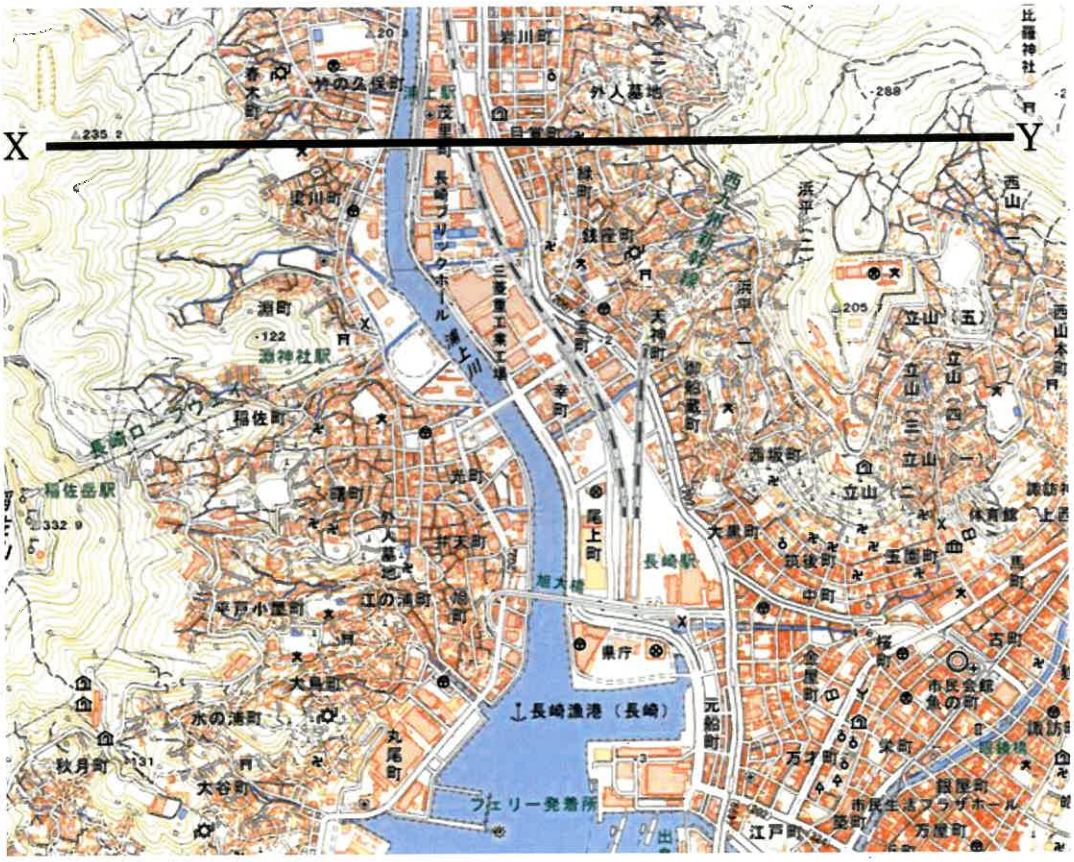

国土地理院地理院地図より作成

図１

i）リョウジさんは，長崎市内の起伏の変化を調べるために，図１中のX—Y間の断面図（図２）を作成しました。X－Y間の断面図として最も適当なものを，図２中のア～エから１つ選び，記号で答えなさい。

ア．



イ．

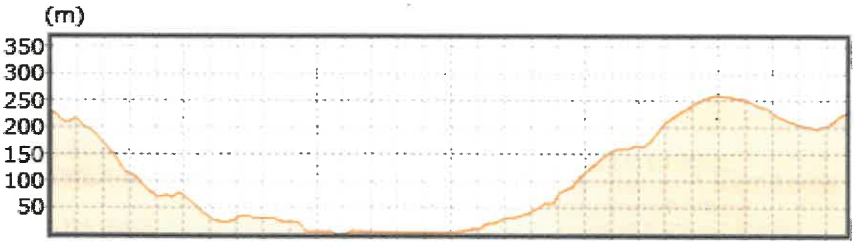

ウ．

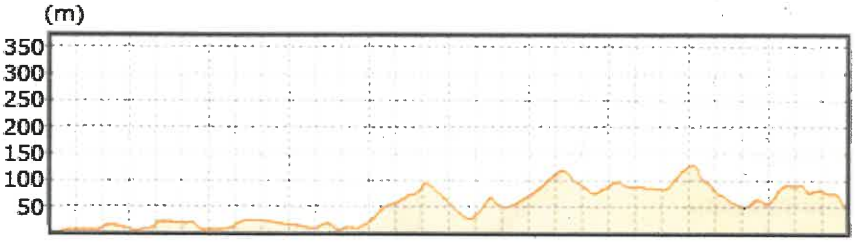

エ．

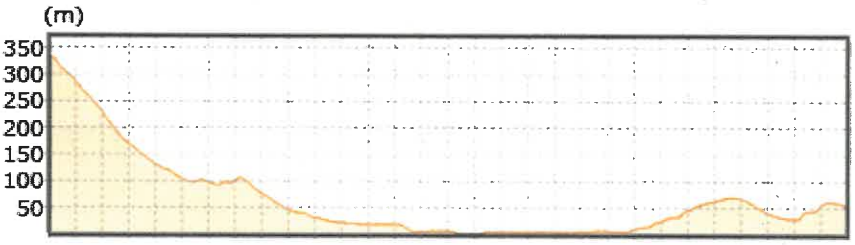

図２

ii）リョウジさんは，長崎市内の様子を図１の地形図で調べることにしました。図１から読み取れることとして最も適当なものを，次のア～エから１つ選び，記号で答えなさい。

ア．　長崎市役所の北西には，裁判所があります。
イ．　長崎市役所の北に位置する玉園町には，神社があります。
ウ．　長崎漁港は，埋め立て等によって港湾整備が行われたことが分かります。
エ．　地形図中には，老人ホームがいくつかありますが，いずれも傾斜地に分布しています。

2は次のページからです。

2 次の道路の歴史に関する文章を読んで，あとの問いに答えなさい。

日本における道路の整備は古代から行われていました。7 世紀～8 世紀頃にかけて都（畿内）と地方諸国を結ぶ①七道（東山道・東海道・北陸道・南海道・山陽道・山陰道・西海道）と呼ばれる駅路（官道）が整備され，有事の際の迅速な情報伝達，軍隊の移動，公用の役人の移動，租庸調の輸送に利用されました。また，30 里（約 16km）ごとに駅家が配置されました。駅家は役人の乗用馬，宿泊，休憩，食事などを提供する，今で言うサービスエリアのような施設でした。

中世になると，幕府が置かれた②鎌倉を中心として道路が整備されていき，鎌倉と地方を結ぶ「上道」「中道」「下道」と呼ばれる道路が作られ，それぞれ，信濃・上野，下野，③常陸・下総と鎌倉とを結んでいました。一方で，この時期以降，鎌倉と京の都を結ぶ東海道の役割が高まり，駅・宿も新設されました。その後，④室町・戦国時代は強大な政権が現れなかったため，全国的な道路網の整備などは行われませんでした。しかし，地方経済が徐々に発達していき，それに伴って領域内の各地をつなぐ道路が発達していきました。

近世に入り，関ヶ原の戦いに勝利した徳川家康は，⑤江戸と各地を結ぶ「五街道」の整備を進めました。一里塚を築き，並木を植え，標準幅員（道幅）を決め，砂利などで路面を固めるなど，幕府直轄のもとに街道整備が進められ，江戸には全国の大名や家臣団，商人・職人が集まり，日本の政治・文化の中心地として発展していきました。

江戸時代までは人や馬中心の道づくりがされていましたが，明治時代に入り自動車が通れるような道路が作られました。⑥1876 年に国道，県道，里道が定められ，初めて国道の路線が公表されるなど，近代国家として道路に関する制度づくりが進められます。しかし，当時の政府は鉄道を優先していたため，道路の建設はそれほど進みませんでした。本格的に道路づくりが始まったのは⑦第二次世界大戦後のことです。

戦後になって 1952 年に現在の道路法，翌年に揮発油税（いわゆるガソリン税）収入を道路の整備のみに使う法律が定められて道づくりを推進する体制が整い，1954 年には第 1 次道路整備五箇年計画が始まります。これにより，自動車が交通手段の主力となり，1965 年には名神高速道路，1969 年には東名高速道路が全線開通しました。自動車の生産台数も，⑧高度経済成長が始まる 1955 年には 7 万台でしたが，1970 年には 529 万台となり，性能の向上によりアメリカ合衆国などへの輸出も拡大しました。

現在も国道は交通の要として，車やバス，自転車，徒歩など多くの人々に利用されています。さらに，2023 年 4 月 1 日より改正道路交通法が施行され，いわゆる「レベル 4」の自動運転が解禁されました。遠隔監視などを条件に，自動運転車を活用した公道での巡回サービスが可能となります。今後の技術の発展によっては，さらに道路の役割が高まっていきそうですね。

問１　下線部①について，「七道」は都と地方を結ぶ主要幹線道路の名称であると同時に，古代の行政区分の名称でもありました。山陽道に属する国を示しているのはどれですか。次のア～オから１つ選び，記号で答えなさい。

ア．　紀伊・讃岐・阿波・伊予・土佐
イ．　若狭・越前・加賀・能登・越中・越後・佐渡
ウ．　出羽・陸奥・上野・下野・信濃・飛騨・美濃・近江
エ．　丹後・但馬・因幡・伯耆・出雲・石見
オ．　播磨・美作・備前・備中・備後・安芸・周防・長門

問２　下線部②について，鎌倉時代に関連することについて述べた文として，誤っているものを，次のア～オから１つ選び，記号で答えなさい。

ア．　農業では，技術が進歩して生産力が高まりました。牛馬を使って耕作し，西日本では稲を刈り取った後に麦を裏作としてつくる二毛作が広まりました。
イ．　彫刻では，運慶や快慶らによって力強い写実的な作品が数多くつくられました。その代表例が，東大寺南大門の金剛力士像です。
ウ．　文学では，琵琶法師によって語り伝えられた『平家物語』などの軍記物や，後鳥羽上皇の命令で藤原定家らが編集した『新古今和歌集』が有名です。
エ．　芸能では，観阿弥・世阿弥父子が幕府の保護を受けて能を大成させました。また，庶民の日常生活を明るく描いた，話しことばを使う喜劇である狂言が庶民に喜ばれました。
オ．　商業では，農業や手工業の発達によって，交通の便のよいところなどに月３回の市が定期的にたつようになりました。また，年貢を保管したり，運んだりする運送業者である問丸（問）も現れました。

問３　下線部③について，常陸国と下総国の一部は主に現在の何県にあたりますか。漢字で答えなさい。

問４　下線部④について，室町時代・戦国時代の史料として誤っているものを次のア～オから１つ選び，記号で答えなさい。また，残りの史料を時代が古い順に並べ替えなさい。

ア.

・・・越前の守護朝倉氏の軍勢が，加賀へ向かっていたが，一向一揆は二十万人にもなり，富樫政親の居城を取りまいていたので，六月九日には落城し，皆自害してはてた。そして，富樫一族の一人，富樫泰高を加賀国の守護として取り立てた。

富樫泰高は百姓が立てた守護であったので，百姓の力が強くなり，最近はまるで百姓が支配する国のようになっている。

イ.

六波羅殿の御一家達といえば，たとえ花族や英雄※などの名門の貴族でも対等にはりあう人がいない。だから入道相国の妻の弟の大納言時忠卿は「平家一門でない者は人でない」とまで言ったという。それほどの威勢なので，誰もが何とか工夫して平氏と縁故を結ぼうとしたのである。・・・・・・

※花族や英雄：公家の家格を指す言葉で，摂関家につぐ家柄のこと。

ウ.

・・・天下がおおいに乱れ，それ以来長く全国が乱れた。その原因を考えると，八代将軍義政公が，天下の政務を徳をそなえた管領らに任せなかったことにある。夫人の日野富子や香樹院・春日局などという物の道理もわからず，裁判や政治を何も理解していない未熟な女房や尼達に，酒宴や遊興の入り乱れた場で処置させたことにある。

エ.

一　・・・許可を受けずに，他国へ進物や手紙を遣わすことは，一切禁止する。但し，信濃にいる甲州人が策略のため，物や手紙を通わせるのはやむをえないことである。

一　喧嘩の事については，どちらがよいか悪いかにかかわらず，罪科とする。但し仕掛けられたけれども怒りをこらえた者については処罰しない。しかし，どちらかに肩入れしたり，えこひいきをして，助太刀をした者は，事の正邪にかかわらず同罪とする。・・・

オ.

…国書を大明皇帝陛下(へいか)に差し上げます。日本国が始まって以来，挨拶(あいさつ)の使者を貴国に遣わさなかったことはありません。私は幸いにも国家を統治し，国内に不安はありません。特に昔からの遣唐使のしきりに従い（僧）祖阿(そあ)に（商人の）肥富(こいつみ)を同行させ，友好を結ぶしるしに，日本の産物を献上させます。・・・

問 5　下線部⑤に関連して，江戸時代の道路の発達は全国を結ぶ商品流通市場を形成しました。次のⅠ～Ⅳは，城下町・港町・宿場町・門前町の代表的な都市です。その組み合わせとして正しいものを，下のア～カから１つ選び，記号で答えなさい。

Ⅰ　長野・宇治山田・日光・坂本
Ⅱ　江戸・仙台・金沢・姫路
Ⅲ　博多・酒田・長崎・兵庫
Ⅳ　品川・下諏訪・草津・神奈川

ア.　城下町：Ⅰ　港町：Ⅱ　宿場町：Ⅲ　門前町：Ⅳ
イ.　城下町：Ⅰ　港町：Ⅲ　宿場町：Ⅳ　門前町：Ⅱ
ウ.　城下町：Ⅰ　港町：Ⅳ　宿場町：Ⅲ　門前町：Ⅱ
エ.　城下町：Ⅱ　港町：Ⅲ　宿場町：Ⅳ　門前町：Ⅰ
オ.　城下町：Ⅱ　港町：Ⅰ　宿場町：Ⅲ　門前町：Ⅳ
カ.　城下町：Ⅱ　港町：Ⅳ　宿場町：Ⅲ　門前町：Ⅰ

問 6　下線部⑥について，日本政府は武力を用いて朝鮮に開国をせまり，1876 年に不平等な条約を朝鮮におしつけて開国させました。条約締結以後の朝鮮半島の情勢について述べた次のア～オについて，誤っているものをすべて選び，記号で答えなさい。

ア．　1894 年，朝鮮半島で甲午農民戦争が起こりました。朝鮮政府はこの反乱を抑えることができず，ロシアに助けを求めました。一方，日本もすぐに朝鮮に大軍を送ったため，日露戦争が始まりました。

イ．　1905 年，日本は韓国を保護国とし，首都の漢城（現在のソウル）に統監府という役所を設置しました。韓国の民衆は激しく抵抗しましたが，1910 年には日本は韓国を併合して日本の植民地にしました。

ウ．　1919 年，日本からの独立を求める人々が独立宣言を発表し，三・一独立運動が起こりました。運動は 3 ヶ月にわたり，約 200 万人が参加しました。しかし，日本の軍隊や警察に弾圧されました。

エ．　1950 年，北朝鮮は武力で朝鮮半島を統一しようと，北緯 38 度線を越えて南下し，朝鮮戦争が始まりました。1953 年，ようやく戦争が終結し，平和条約が結ばれました。

オ．　1965 年，中曽根康弘内閣において，日韓基本条約が両国政府の間で結ばれ，両国の外交関係の再開，韓国併合条約の失効などを確認しました。

問 7　下線部⑦について，戦争で空襲が激しくなると，都市に住む小学生は親元を離れて，地方の寺などに集団で避難しました。このことを何といいますか。漢字 4 字で答えなさい。

問 8　下線部⑧について，日本が高度経済成長（1955～1973）の時期に起こった出来事として誤っているものを，次のア～オからすべて選び，記号で答えなさい。

ア．　佐藤栄作首相の時に，小笠原諸島の返還に続き，沖縄返還協定が調印され，沖縄の日本復帰が実現しましたが，広大なアメリカ軍の基地は存続することになりました。

イ．　五ヵ国大蔵大臣（財務大臣）・中央銀行総裁会議において，ドル高の是正（ぜせい）が合意されると，円高が一気に加速し，日本は不況が深刻化しました。

ウ．　ソ連のゴルバチョフ書記長は国内体制の立て直し（ペレストロイカ）を試み，市場原理の導入，情報公開などを通じて政治・社会の自由化を進めました。

エ．　田中角栄首相は訪中して日中共同声明を発表し，日中国交正常化を実現しました。

オ．　経済・文化面での日本の発展を世界に示す国家的なイベントとして，大阪で日本万国博覧会が開催されました。

3 次の文章は，広尾学園の社会科の授業で，先生と生徒のAさん，Bさんが最近のニュースについて話し合いを行った内容です。以下の文章を読んで，あとの問いに答えなさい。

先　生：①政府は，2023年の日本の合計特殊出生率が1.20になったと発表しました。2022年の1.26から低下し，過去最低の水準です。また，東京都では，0.99となり，初めて「1.0」を下回りました。

Aさん：なぜ，日本では出生率が低下しているのでしょうか。

Bさん：結婚する人が減っているからじゃないのかな。

先　生：確かにそれは要因の一つですね。ただ，他にも理由があります。

Aさん：子育てにおける②男女の不平等に原因があるのではないかと思います。子育ての負担が女性に偏(かたよ)っており，子育てと仕事の両立が難しい人が多いと聞きます。そうなると育児の負担の大きさを考えて，子どもを産むことを控えているのではないでしょうか。

先　生：そうですね。育児の負担を減らすために行われている育児休業制度の取得率は女性が80%を超えていますが，男性が30%程度と低く，取得する期間も男性が短いようです。また，子どもを保育園に預けるにしても，希望するタイミングで入園することが難しいとも言われています。

Aさん：でも，出生率の低下自体は，何が問題なのでしょうか。

Bさん：出生率が低下するということは，少子化がさらに進展し，日本の人口が減少するということにつながってしまうよ。人口が減少すれば，③労働する人が足りなくなり，企業の生産が思うように進まなくなってしまうし，物を買う人も少なくなってしまうので④消費も減って，⑤日本経済が衰退してしまうよ。

Aさん：そうなると税収や社会保険料収入も減ってしまうので，社会保障制度が維持できなくなってしまう可能性がでてきます。これは大きな問題ですね。

先　生：実は，少子化や人口減少は，「静かなる⑥有事」とも呼ばれています。政府が2023年の合計特殊出生率を発表したまさにその日に，⑦国会では少子化対策関連法が成立しました。これにより，児童手当の支給対象が高校生まで延長され，それまであった児童手当に対する所得制限が廃止されることになる予定です。

Aさん：国も少子化に対して対策を考えているのですね。でも，⑧その対策で本当に出生率の低下が食い止められるのでしょうか。

問 1　下線部①について，この発表を行った政府の「省」の名前を漢字で書きなさい。

問 2　下線部②について，男女の間にどれだけの格差が存在しているかを示すものさしとして有名なものに世界経済フォーラム（WEF）が発表している「ジェンダー・ギャップ指数」というものがあります。この指数は 1 に近づくほど男女格差が少ないことを意味しています。日本は世界 146 ヵ国中 118 位で男女格差が世界の平均値よりも大きいと判断されました（2024 年）。次の図 1 は，このジェンダー・ギャップ指数を分野別に示したものですが，日本の状況やこのグラフから判断して誤っているものを，下のア～エから 1 つ選び，記号で答えなさい。

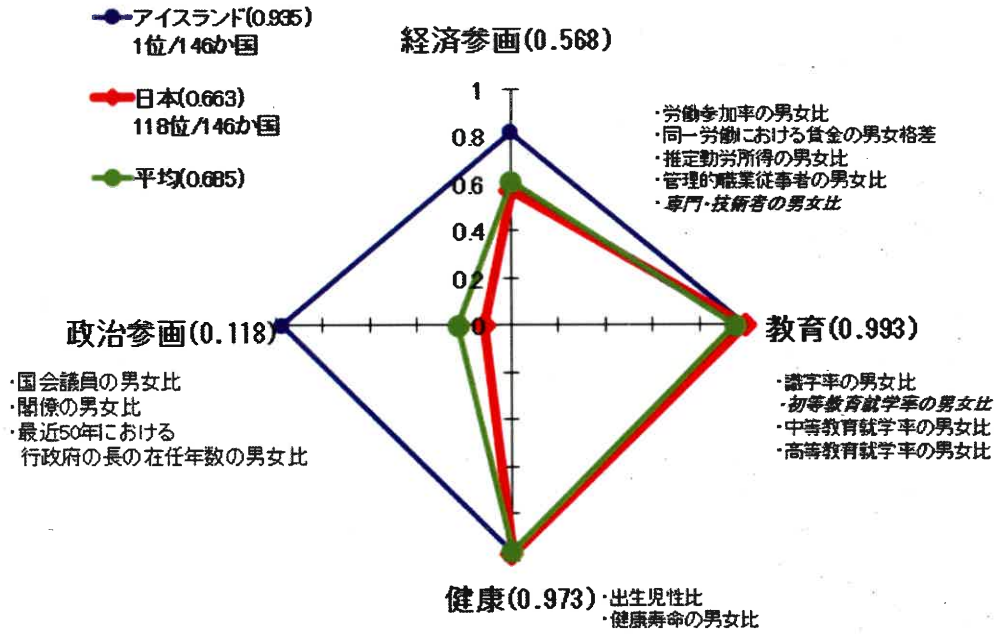

注）各分野の（　）内の数値は日本の指数を示しています。

出典：男女共同参画局ホームページより

図 1

ア．　教育分野では日本の数値は平均より高く，教育分野において，男女格差が少ないことを示しています。

イ．　健康分野では日本の数値は平均より高く，出生児性比や健康寿命の男女比などが均衡していることを示しています。

ウ．　政治参画分野では日本の数値は平均より低く，政治の場において女性が男性に比べて多く進出していることを示しています。

エ．　経済参画分野では日本の数値は平均よりやや低く，労働分野における男女格差が依然として解消されていないことを示しています。

問 3　下線部③について，労働力不足を補うために，国は出入国管理法などを改正し，これまでの外国人［ A ］制度を廃止して新たに育成就労制度というものを設けました。外国人［ A ］制度では日本に来る外国人はあくまで日本における研修としての受け入れであり，過酷（かこく）な労働環境での雇用や人権侵害と見られるケースも起きていました。この［ A ］にあてはまる言葉を漢字 4 字で答えなさい。

問 4　下線部④について，次の図 2 は架空のコンビニエンスストアで発行されたレシートです。このレシートの商品の価格の横に記されている「軽」の文字は何を意味しているでしょうか。漢字 4 字で答えなさい。

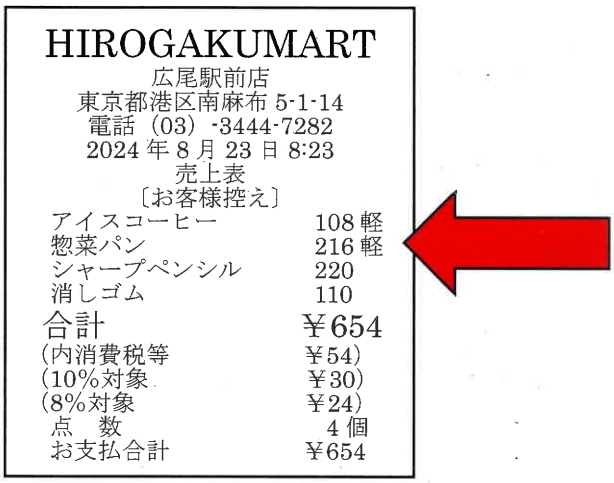

HIROGAKUMART
広尾駅前店
東京都港区南麻布 5-1-14
電話（03）-3444-7282
2024 年 8 月 23 日 8:23
売上表
〔お客様控え〕

アイスコーヒー	108 軽
惣菜パン	216 軽
シャープペンシル	220
消しゴム	110
合計	￥654
(内消費税等	￥54)
(10%対象	￥30)
(8%対象	￥24)
点　数	4 個
お支払合計	￥654

図 2

問 5　下線部⑤について，2023 年の日本経済についての説明として誤っているものを，次のア～エから 1 つ選び，記号で答えなさい。

ア．　これまで世界第 2 位であった名目 GDP（国内総生産）の値が，ドイツに抜かれて世界第 3 位となってしまいました。

イ．　日本とアメリカでお金を貸したり預けたりするときにかかる金利に差があることから，記録的な円安が起きました。

ウ．　コロナ禍を乗り越え，海外からの旅行客が多く訪れたことなどの影響で，経済全体は緩やかに回復していきました。

エ．　日本国民の給与額の平均値は上昇しましたが，物価も上昇しているため，実質賃金は伸びませんでした。

問６　下線部⑥について，「有事」という言葉は通常「戦争などの非常事態が起こること」を意味します。その有事の時のための法律を「有事法制」といい，日本が外国から武力攻撃をされたり，武力攻撃をされそうだったりする時の対応を法律で規定しています。上記のような有事が起きた場合に，日本政府および自衛隊が，日本国憲法や法律に基づいて取ることができる対応として誤っているものを，次のア～エから１つ選び，記号で答えなさい。

ア．　有事の際は，自衛隊の最高指揮監督権をもつ防衛大臣が自衛隊を指揮し，日本を守ります。
イ．　有事の際は，日米安全保障条約に基づき，自衛隊はアメリカ軍と協力して日本を守ります。
ウ．　武力攻撃をされるおそれがない場合には，自衛隊は他国に対して武力でおどしたり，武力を使ったりすることはできません。
エ．　有事を広くとらえれば自然災害も含まれるため，自衛隊は大規模災害の救助活動も行います。

問７　下線部⑦について，国会議員にはさまざまな特権が与えられていますが，その特権に関する説明として正しいものを，次のア～エからすべて選び，記号で答えなさい。

ア．　国会議員は任期中，原則として逮捕されません。
イ．　国から給料として歳費や期末手当が支払われます。
ウ．　国会の中で行った演説については，その外で法的な責任は問われません。
エ．　人数の制限はありますが，国会議員につく秘書の給与を国が負担します。

問８　下線部⑧について，Ａさんは，先生が話した国の対策の内容では，出生率低下の問題は根本的には解決されないのではないかと考えました。会話文の内容を踏まえた上で，Ａさんがそのように考えた理由として最も適当なものを，次のア～エから１つ選び，記号で答えなさい。

ア．　Ａさんは，出生率低下を食い止めるためには，日本の経済の衰退を防ぐことが大切だと思っており，先生が話した対策はその対策として不十分なものであると考えたから。

イ．　Ａさんは，出生率低下を食い止めるためには，結婚をしたいと思える人を増やすことが大切だと思っており，先生が話した国の対策は結婚した後や出産した後の対策であると考えたから。

ウ．　Ａさんは，出生率低下そのものを特に問題がある事態とは思っておらず，その背景にある男女差別そのものの方が，解決が必要である根本的な問題であると考えたから。

エ．　Ａさんは，出生率低下を食い止めるためには，女性の育児負担を減らすことが必要であると思っており，先生が話した国の対策は負担そのものの解消には直接つながらないものだと考えたから。

4－Ⅰ　次の文章を読んで，あとの問いに答えなさい。

イギリスでは，チャールズ国王の即位を記念して，2024年6月から新紙幣の発行が始まっています。日本でも2024年7月から新紙幣が発行されましたが，国内での様子は異なります。

イギリスでは，市民の新紙幣への関心が日本と比べて薄く，新紙幣が広く社会に流通するには，かなりの時間がかかるといわれています。その背景には，イギリスにおいて，現金を使わない「キャッシュレス決済」が進んでいることがあるようです。（キャッシュレスの決済比率 イギリス85%，日本39%）。下記の写真の路上演奏家もチップをキャッシュレスで受け取れるようにしています。

ただ，「キャッシュレス決済」が進んでいることに伴い，新たな課題が懸念されています。イギリスでは「現金難民」という言葉が生まれ，市民からは「現金を選ぶ権利」が主張されるようになりました。消費者が「現金を選ぶ権利」を主張している理由を2つ説明しなさい。

「ロンドンの路上演奏家（2024年6月24日）」
出典：読売新聞2024年7月4日



4－Ⅱ　鎌倉時代には新しい仏教がおこりました。以下の資料①は浄土宗の開祖である法然が弟子に残した教え，資料②は時宗の開祖である一遍が弟子たちと鉦をうち，床を踏みならして踊念仏をしている様子を描いたもの，資料③は平安時代末期から鎌倉時代の年表です。資料①②③を踏まえたうえで，鎌倉新仏教の特徴と庶民に流行した理由について説明しなさい。

資料①

わたし（法然）が勧めている念仏は，中国や日本において，慧遠や源信※等の智者たちが理解している仏さまの姿や浄土の様子を思い浮かべる念仏（観想念仏）ではなく，また学問を重ねて念仏の意義や功徳（人や世の中のためになる善行）を悟ったうえで申す念仏でもありません。ただ極楽に往生するためには，南無阿弥陀仏と申すことです。阿弥陀仏の救いの力に疑いをはさむ余地もなく，必ず往生できるのだという思いをいだいて念仏を申す外には，別にあれこれと修行する方法はありません。・・・

※慧遠や源信：僧の名前

参考：一枚起請文 宗教法人光明寺 HP

資料②



出典：聖戒 撰，円伊 画『一遍上人絵伝』（国立国会図書館所蔵）

資料③


1130 1140 1160 1180 1200 1220 1240 1260 1280 1300
保元の乱
平治の乱
源氏、挙兵
養和の大飢饉
頼朝、征夷大将軍
承久の乱
寛喜の飢饉
御成敗式目
宝治合戦
鎌倉、大地震
正嘉の飢饉
文永の役
弘安の役
鎌倉、大地震
開宗の年
1133
1175（42歳）
1212 法然（79歳）
1173
1224（51）
1262 親鸞（89）
日蓮（60）1222
1253（31）
1282
一遍（50）1239
1274（35）
1289

2025年度　入学試験問題　社会①　解答用紙

1

問1		問2		問3					
問4	南		→		→		北	問5	
問6	i			ii					

2

問1		問2		問3			県				
問4	誤っているもの		並べ替え		→		→		→	問5	
問6			問7					問8			

3

問1				省	問2				
問3					問4				問5	
問6		問7			問8				

4-Ⅰ

4-Ⅱ

↓ここにシールを貼ってください↓

受験番号			

251214