1 次の文章は，中学1年生のつよし君が書いた「アジアと日本の気候」に関するレポートです。これを読んで，あとの問いに答えなさい。

アジアには，世界に分布する5つの気候帯のすべてがみられます。赤道付近には年中高温な熱帯がみられます。緯度が高くなるにしたがって，温帯，夏が短く冬の長い【　A　】帯，年間を通じて気温が低い寒帯へと変化していきます。また，西アジアから中央アジア一帯には，降水量の少ない【　B　】帯が広がっています。

日本の気候は，上記の気候帯のうち，北海道および東北地方の一部が【　A　】帯，本州の大部分と九州・四国が温帯に属しています。日本の気候は四季がはっきりしていることが特徴ですが，これは季節風が日本列島に大きな影響を及ぼしているからです。また，地球の【　C　】が傾いているために，夏と冬では日照時間の長さが違うということも，日本で四季がはっきりしている理由の一つです。また，日本列島の中央部には山地や山脈が連なっているため，太平洋側地域と日本海側地域では，降水量の特色に違いが見られます。さらに，梅雨前線の活動，台風の襲来なども影響して，日本は世界でも降水量の多い地域の一つとなっています。このような気候の特徴は，日本の農業や人々の生活に大きな影響をおよぼしています。

問1　文章中の空欄【　A　】～【　C　】にあてはまる語句を漢字で答えなさい。
※アルファベットが同じ空欄には同じ語句が入ります。

問2　次ページの図1中のA～Cは秋田・東京・那覇の3つの都市のうち，いずれかの都市の各月における平均気温，図2中のD～Fは秋田・東京・那覇のうち，いずれかの都市の各月における平均降水量を示したものです。図1，図2のA～Fのうち，東京に該当するものの組み合わせとして正しいものを，次ページのア～ケから1つ選び，記号で答えなさい。

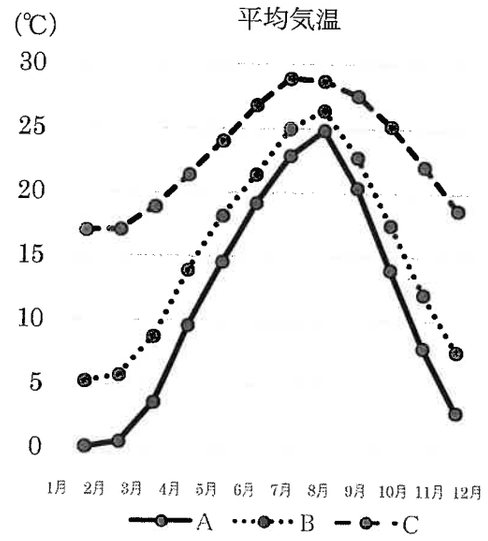

図1

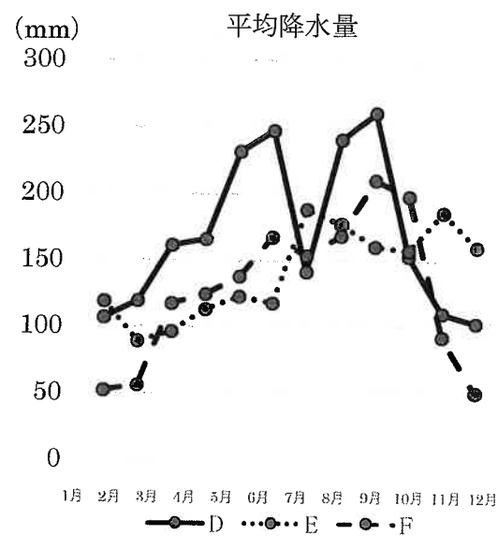

図2

出典：データブック オブ・ザ・ワールド2021

	図1	図2
ア	A	D
イ	A	E
ウ	A	F
エ	B	D
オ	B	E
カ	B	F
キ	C	D
ク	C	E
ケ	C	F

問３　日本列島の日本海側地域に関する，あとの問いｉ，ⅱに答えなさい。

ｉ）以下の文章は「日本海側に雪が降るメカニズム」について説明したものです。
空欄【　A　】・【　B　】にあてはまる語句を漢字で答えなさい。

冬のシベリアで発達した高気圧から吹く冷たい北西の季節風は，ユーラシア大陸上では乾燥していますが，日本海を通過するときに暖流の【　A　】海流から水蒸気の供給を受けて湿潤（しつじゅん）な状態に変化します。これが日本列島の中央部に位置する山脈にぶつかると，【　B　】気流が生じ温度を低下させて雪雲をつくり，日本海側に雪を降らせます。

ⅱ）日本海に面していない都道府県について説明しているものを次のア～エから１つ選び，記号で答えなさい。

ア．　南部では茶の生産が盛んに行われています。また西陣織，清水焼などの伝統工芸品の生産も盛んです。

イ．　雨の多い尾鷲（おわせ）市では林業が盛んでひのきの産地として有名です。リアス海岸（リアス式海岸）の広がる地域では，真珠の養殖もさかんです。

ウ．　稲作だけでなく，米沢盆地では畜産が盛んで，牛肉の産地として有名です。近年では高速道路が整備され，工場が進出しています。

エ．　漁業がさかんで，ふぐの水揚げ量が多くなっています。工業では石油化学などの工業が盛んです。また，萩（はぎ）市では陶磁器の生産が盛んです。

問４は次のページです。

問 4　次の図 3 は，2 万 5 千分の 1 の地理院地図で愛媛県の宇和島付近を示したものです。山地斜面では，この地域の気候の特色を生かしておもに［　X　］が生産されています。これについて，あとの問い i，ii に答えなさい。なお，図 3 は実物の地形図と同じ縮尺ではありません。



図 3

i）文中の空欄［　X　］にあてはまる農産物の名称を答えなさい。

ii）次ページの図 4 中のア～エは，図 3 中の地点 A～D の上空 250m付近から矢印の方向を眺めたときの風景画像です。地点 A の上空 250m 付近から眺めたものとして，最も適当なものを，次ページの図 4 中のア～エから 1 つ選び，記号で答えなさい。

ア



イ



ウ



エ



出典：Google Earth

図 4

問５　次の図５中の①～③は，日本国内における肉用牛の飼育頭数，小麦の生産量，さけ・ます類の漁獲高がそれぞれ多い上位３都道府県をぬり示したものです。また，次ページの図６中のA～Cは，日本が輸入する牛肉，小麦，さけ・ます類の輸入額が多い相手先国上位５か国を示したものです。小麦に該当する組み合わせとして最も適当なものを，次ページのア～ケから１つ選び，記号で答えなさい。

①

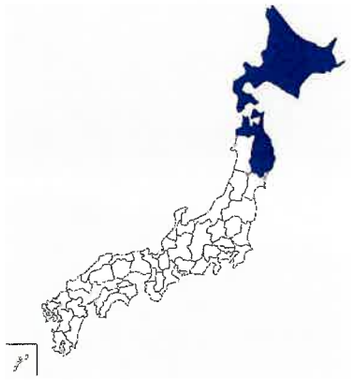

②



③



※①～③は，日本国内すべての島嶼（島々のこと）を含めたものではありません。

図５

A



B



C



図６

出典：データブック オブ・ザ・ワールド 2021 および農林水産省資料

統計年次は，小麦の生産量・肉用牛の飼育頭数は 2018 年，さけ・ます類の漁獲高は 2019 年，輸入額の多い国・地域は 2019 年。

ア．①－A　イ．①－B　ウ．①－C　エ．②－A　オ．②－B
カ．②－C　キ．③－A　ク．③－B　ケ．③－C

2　次の文章を読んで，あとの問いに答えなさい。

人類は，生活スタイルの発展段階に応じて，エネルギー利用の用途を徐々に高度化・多様化させてきました。エネルギー消費量も，エネルギーの利用用途の拡大に加え，石炭や石油，天然ガスなど使い勝手の良いエネルギー源の普及により，一貫して上昇してきました。

人類とエネルギーの関係は，約 50 万年前に薪などを使って火を利用し始めたときから始まったといわれています。その後，①原始時代に農耕や牧畜を始めた人類は，移動や輸送に家畜や風力（帆船）を利用したり，②穀物を製粉するために③水の力や風の力を利用したりしていましたが，そのエネルギー消費量及びエネルギーの利用用途は，非常に限られたものでした。

18 世紀に入り産業革命が起こると，石炭をエネルギー源とする蒸気機関が工場や輸送機器（蒸気機関車等）において動力源として利用されるなど，④工業化の進展に伴いエネルギー消費量が急速に増加するとともに，エネルギーの利用用途も広がりました。これによって社会の生産力が上昇し，より便利でより豊かな生活を享受することができるようになりました。

さらに，エネルギーの利用用途が広がるに従って，エネルギー源にも一層の万能性が求められるようになります。このため，20 世紀中頃に石炭よりも使い勝手が良く，利用用途を拡大しやすい石油が主要なエネルギー源としての地位を占めるようになると，工場や輸送機器（船舶，自動車，航空機），発電用の燃料として，また，暖房用の燃料や化学製品の原料等として石油が大量に消費されるようになりました。また，電気エネルギーの利用が産業部門においても家庭部門においても普及して消費量も拡大したことで，発電に利用できるエネルギー開発も進められました。このようなエネルギー消費量及び利用用途の更なる拡大に応じて社会の生産力もまた大きくなり，それに伴って生活水準や公衆衛生も向上するので，人口の増加ペースも急速に伸び，それがまた一層のエネルギー消費量の増加をもたらすようになると考えられます。

また，今後も世界人口は増加する見込みであり，加えて新興国におけるエネルギー消費量も工業化やモータリゼーションの進展等により増加しています。このため，2030 年の世界のエネルギー消費量は 1990 年の約 2 倍に達するなど，エネルギー消費量はこれからも増加し続けていくものと考えられています。

参考：「人類の歴史とエネルギー」経済産業省　資源エネルギー庁 HP サイト
　　一部改変

問 1　　下線部①について，以下は原始時代に関するカードです。縄文時代について説明したカードを，次のア～カからすべて選び，記号で答えなさい。

ア.
この時代は，住居のつくりや大きさ，死者の葬り方にあまり差がないため，貧富の差や身分の違いがほとんどない社会であったと考えられています。

イ.
この時代は，飲み水を得やすい水辺に，地面を掘り下げて柱を立て，その上に屋根をかけた住居が全国で作られるようになりました。

ウ.
この時代は，石包丁で収穫した穀物が倉庫に蓄えられました。その倉庫には，ネズミなどが入れないように階段や柱の上の板は工夫がほどこされていました。

エ.
この時代の三内丸山遺跡からは大量の土器や土偶のほか，新潟県産のひすい，北海道産の黒曜石が出土しました。

オ.
この時代は，金属器が大陸から伝えられました。鉄器は武器や道具として，青銅器は祭りの道具として用いられました。

カ.
この時代の日本列島は大陸と陸続きであったことが，大陸にいたマンモスなどの化石が日本列島の各地から発見されていることから分かります。

問２　下線部②について，過去の歴史において，米などの穀物が税として徴収されていましたが，税の徴収に関して述べた文として誤っているものはどれですか。次のア～エから１つ選び，記号で答えなさい。また，選んだ文から誤っている語句を抜き出し，正しい語句に書き改めなさい。

ア．　律令制度の下で課された「租」は，収穫の 3%の稲を地方の役所に負担する税で，女性にも負担義務がありました。

イ．　鎌倉時代，将軍と主従関係を結んだ御家人は守護に任命されました。守護は荘園などにおかれ，土地の管理や年貢の取り立てを行いました。

ウ．　江戸時代，幕府や藩は，農民から取り立てた年貢を大阪の蔵屋敷に送り，ここで現金に交換して幕府や藩の財政をまかなっていました。

エ．　明治時代，政府は地租改正を実施し，土地所有者に地価を基準とした地租を納めさせることにしました。

問３　下線部③について，古来より水の力や風の力は，戦いの際の防御や，時に交易の後押しなど様々な場面で利用されてきました。以下の資料 A～D を見ながら次のページの問いｉ，ⅱに答えなさい。

【資料 A】

白村江の戦いに敗れた中大兄皇子は，唐や［　（い）　］が再び攻撃してくることに備えて，九州の拠点である大宰府の守りを固めました。九州の博多湾の近くに，山に石垣をめぐらせた山城や堀を用いた水城（みずき）を築きました。また，防人と呼ばれる兵士を九州北部に配置しました。

【資料 B】

朝廷は，中国を統一した王朝のすぐれた政治の仕組みや文化・制度を取り入れるため，小野妹子を［　（ろ）　］として派遣しました。この当時の中国への帆船（はんせん）での航海は命がけのものでした。

【資料 C】

風神雷神図とは，風袋から風を吹き出し風雨をもたらす風神と，太鼓（たいこ）を叩いて雷鳴と稲妻をおこす雷神の活動の姿を描写（びょうしゃ）する絵画です。俵屋宗達（たわらやそうたつ）筆の屏風画（びょうぶが）が有名で，模写（もしゃ）も多数あります。



出典：尾形光琳筆『風神雷神図屏風』（東京国立博物館所蔵）

【資料 D】

二度にわたる元の襲来（しゅうらい）は暴風雨によって難を逃れましたが，命がけで戦った御家人たちは困窮（こんきゅう）してしまいました。そこで幕府は永仁の［　（は）　］を出し，御家人を救済しようとしました。以下は［　（は）　］の一部です。

領地の売買は，御家人の生活が苦しくなるもとなので今後は禁止する。…御家人以外の武士や一般の人々が御家人から買った土地は，売買から何年過ぎても，本来の持ち主に返さなければならない。

ⅰ）　前ページの資料中の空欄［　（い）　］～［　（は）　］に入る適切な語句を漢字で答えなさい。※［　（い）　］は国名を答えること。

ⅱ）　前ページの資料A～Dを年代の古い順に並び替えたものとして正しいものを，次のア～カから1つ選び，記号で答えなさい。

ア．　【資料A】→【資料B】→【資料C】→【資料D】
イ．　【資料A】→【資料B】→【資料D】→【資料C】
ウ．　【資料A】→【資料C】→【資料B】→【資料D】
エ．　【資料B】→【資料A】→【資料D】→【資料C】
オ．　【資料B】→【資料A】→【資料C】→【資料D】
カ．　【資料B】→【資料D】→【資料A】→【資料C】

問4　下線部④について，広尾君は日本の工業が大きく発展した幕末から明治時代までを年表にまとめました。以下の年表を見ながら次のページの問いⅰ，ⅱに答えなさい。

できごと		結果・影響
1858	A 日米修好通商条約を結ぶ	関税自主権の欠如・領事裁判権の承認など条約の内容は不平等だった。
1868	明治政府ができる	五箇条の御誓文を公布して，公議世論の尊重と開国和親など新政府の方針を示した。
1871～73	B 岩倉使節団が外国を訪れる	条約改正の目的は果たせず，欧米を視察して帰国した。
1883	【（い）】が建てられる	欧米の人々を招いて舞踏会などが開かれた。
1886	【（ろ）】号事件がおこる	条約改正を求める声が強まった。
1889	大日本帝国憲法が発布される	憲法を持つ東アジアでただ1つの国となった。
1880年代	日本の産業は繊維産業を中心に急速に発展する	大阪紡績会社が設立された。
1894	C イギリスと条約を結ぶ	領事裁判権の廃止を実現した。
1894～95	日清戦争	清に勝利したが，三国干渉により遼東半島を清に返還した。
1902	【（は）】を結ぶ	日本は対等な国家として認められたが，ロシアとの対立を深めた。
1904～05	日露戦争	ロシアに勝利し，国際的地位が向上した。
1910	韓国併合	韓国を日本の植民地とした。
1911	D アメリカ合衆国との条約を改正	関税自主権の回復を実現した。

ⅰ） 前ページの年表中の空欄（い）～（は）に入る適切な語句を答えなさい。
※（い）と（は）は漢字で，（ろ）はカタカナで答えること。

ⅱ） 広尾君は年表中の下線部A～Dに関わった重要な人物をピックアップしてみました。A～Dに当てはまる組み合わせとして最も正しいものを，次のア～オから1つ選び，記号で答えなさい。

ア.	A：伊藤博文	B：陸奥宗光	C：小村寿太郎	D：井伊直弼
イ.	A：井伊直弼	B：伊藤博文	C：小村寿太郎	D：陸奥宗光
ウ.	A：井伊直弼	B：陸奥宗光	C：伊藤博文	D：小村寿太郎
エ.	A：伊藤博文	B：井伊直弼	C：陸奥宗光	D：小村寿太郎
オ.	A：井伊直弼	B：伊藤博文	C：陸奥宗光	D：小村寿太郎

3 次の文章を読んで，あとの問いに答えなさい。

2022年4月1日より，日本における①成人年齢が18歳に引き下げられます。これにより，2022年4月1日時点で18歳に達している人，つまり2002年4月2日生まれから2004年4月1日生まれの人は，4月1日に同時に成人を迎えることになります。これらの人が一斉に成人になるなんて不思議な感じがしますね。

この成人年齢を定めているのは「民法」という法律です。民法は，物の所有権や契約，②家族・親戚（せき）関係，遺産などについて扱う法律です。今回の成人年齢引き下げに伴い，男女における結婚開始年齢もこれまでは男子18歳以上，女子16歳以上と男女で異なっていましたが，男女とも18歳以上に変更されました。このように，民法は私たちの生活にとても身近な法律です。最近では民法で定められた「結婚した後は夫婦同姓（せい）でなければならない」という規定が，③憲法に違反しているのではないか，という訴えが出されました。最高裁判所はその訴えを退けましたが，その一方，判決でこの件に関する④国会での議論を促（うなが）しています。

この成人年齢の引き下げですが，この引き下げよりも前の2014年に，⑤憲法改正の国民投票の投票開始年齢が18歳以上に引き下げられました。その後，2016年からは⑥公職選挙法における選挙の投票開始年齢が18歳に引き下げられ，最後に成人年齢の引き下げとなりました。なぜ，成人年齢や選挙の開始年齢が引き下げられたのでしょうか。⑦政府の法制審議会はこの引き下げが「若年者が将来の国づくりの中心であるという国としての強い決意を示すことにつながり，若年者及び社会にとって大きな活力をもたらすことにつながる」と述べています。この法律の改正が，単に制度上の年齢の引き下げだけにとどまらず，若い人の意識の変化につながるといいですね。

問 1　下線部①について，成人年齢引き下げに伴う変更点に関する説明（あ）～（う）の正誤の組み合わせが正しいものを，次のア～クから 1 つ選び，記号で答えなさい。

（あ）　これまで 18 歳が契約を行う際は，親などの親権者の同意が必要でしたが，今後は同意なしにクレジットカードの契約や，ローンを組むことができます。

（い）　これまで 18 歳がたばこを吸うことやお酒を飲むことは認められていませんでしたが，今後はこれらが 18 歳から認められることになります。

（う）　これまで 18 歳が罪を犯した場合には少年法が適用されていましたが，少年法の改正により今後は 18 歳では一切，適用されなくなります。

ア.	（あ）○	（い）○	（う）○	イ.	（あ）○	（い）○	（う）×
ウ.	（あ）○	（い）×	（う）○	エ.	（あ）○	（い）×	（う）×
オ.	（あ）×	（い）○	（う）○	カ.	（あ）×	（い）○	（う）×
キ.	（あ）×	（い）×	（う）○	ク.	（あ）×	（い）×	（う）×

問 2　下線部②について，家族に関しては日本国憲法の条文でも定められています。以下の憲法の条文の空欄［ A ］，［ B ］にあてはまる言葉を漢字で答えなさい。

第 24 条　①婚姻は，［ A ］の合意のみに基いて成立し，夫婦が同等の権利を有することを基本として，相互の協力により，維持されなければならない。
②配偶者の選択，財産権，相続，住居の選定，離婚並びに婚姻及び家族に関するその他の事項に関しては，法律は，［ B ］の尊厳と［ A ］の本質的平等に立脚して，制定されなければならない。

問 3　下線部③について，憲法違反かどうかを裁判所が審議・判断する権限は違憲立法審査権と呼ばれます。この違憲立法審査権に関する説明として正しいものを，次のア～オから 2 つ選び，記号で答えなさい。

ア.　この権利は法律を審査するための権利であり，内閣の政令や行政処分などには適用されません。

イ.　この権利は「憲法の番人」と呼ばれる最高裁判所だけが持つ権利であり，その他の裁判所は行使することはできません。

ウ.　この権利は裁判で実際に訴えられた時にだけ行使できるため，法律が制定される前の法案段階で，裁判所が違憲判断を下すことはできません。

エ.　この権利は具体的な事件における訴えを通じて行使されるため，裁判所の独自の判断で法律の違憲審査を始めることはできません。

オ.　この権利は裁判官の全員一致で行われるため，裁判に出席している裁判官の内，違憲と考える人が過半数であったとしても，違憲の判決は下せません。

問 4　下線部④について，国会にはある特定の事項に関して衆議院の優越が認められています。このことに関する説明として正しいものを，次のア～エから 2 つ選び，記号で答えなさい。

ア.　衆議院と参議院で与党と野党の議席数が逆転しているねじれ状態になった場合，国会が物事を決められなくなることを避けるためにこの制度があります。

イ.　衆議院は参議院と比べて任期が長く解散があり，国民の意思を反映させやすいため，衆議院の優越が定められています。

ウ.　予算の議決で衆議院と参議院が異なる議決をした場合，衆議院の議決が国会の議決となりますが，予算を先に議論する権利は参議院にあります。

エ.　内閣総理大臣の指名で衆議院と参議院で異なる議決をした場合，必ず両院協議会を開き，議論が一致しなければ，衆議院の議決が国会の議決となります。

問 5　下線部⑤について，以下は憲法改正に関する手続きの流れを示したものになります。空欄 C と D に当てはまる言葉を漢字 2 字で答えなさい。

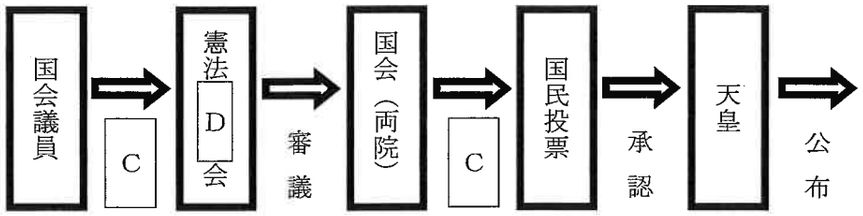

問 6　下線部⑥について，衆議院議員総選挙のルールとして正しいものを，次のア～カからすべて選び，記号で答えなさい。

ア．　1 回の選挙で決まる議席数（定数）は 245 名です。
イ．　大選挙区制と比例代表制の 2 つの選挙制度が採用されています。
ウ．　比例代表選挙では，全国を 11 のブロックに分けています。
エ．　比例代表選挙では，政党だけでなく個人への投票も有効です。
オ．　比例代表選挙では，政党への得票数に応じドント式で議席が配分されます。
カ．　候補者は，選挙区と比例代表の両方に重複して立候補できます。

問 7　下線部⑦について，「政府」という言葉は細かく分けると，国を表す中央政府と，地方公共団体を表す地方政府の 2 つに分かれます。次のア～オの実際に行われたことのある政策や施策の中から，地方政府（都道府県または市町村）が実施の主体となるものを 2 つ選び，記号で答えなさい。

ア．　感染症への対策として緊急事態宣言やまん延防止等重点措置を発令しました。
イ．　地方の活性化に向け，ふるさと納税制度を作りました。
ウ．　原子力発電所に関し，住民投票の結果に基づき建設の可否を判断しました。
エ．　食中毒が出た飲食店に対して，営業停止の行政処分を行いました。
オ．　地元企業の国際競争力を高めるため，法人税の減税を行いました。

4－Ⅰ　次の史料を読んで，次のページの問いに答えなさい。
※史料は読みやすいように現代語に改めています。

①六波羅殿のご一家の②ご子息達といえば，……名門の貴族でも対等にはりあう人はいない。だから③入道相国の妻の弟の④平時忠は「平家一門でない者は人ではない」と言われた。それほどの勢いが盛んなので，誰もが何とか工夫をして平氏に繋がろうとした。……

（平清盛が）一身の栄華をきわめただけでなく，平家一門がともども繁栄し，⑤嫡子重盛は内大臣・左大将，次男宗盛は中納言・右大将，三男知盛は三位の中将，⑥嫡孫維盛は四位の少将と，全部で一門の⑦公卿十六人，⑧殿上人三十余人，諸国の国司や役人などを合わせると六十余人に達し，世の中には平家の他に人がいないように思われた。……

そのほかに⑨ご息女が八人おられた。……そのうち一人は皇后になられた。二十二歳で皇子がお生まれになり，皇太子に立ち，即位されたので，……

日本全国は六十六か国であるが，平家の⑩知行国は三十余か国で全国の半数を超えている。その他に（平家所有の）荘園や田畑はどれほどあるかわからない。（邸宅には）華やかな服装の人々が大勢いて，まるで花が咲いたようである。門前には車馬がたくさん集まって大変なにぎわいである。⑪中国（宋）の揚州の金，莉州の珠，呉郡の綾，蜀工の錦，などめったに手に入らない宝物が集まり，何ひとつ欠けたものがない。

（平家物語）

注①　六波羅殿：平清盛のこと。京都の六波羅に邸宅があったのでこう呼ばれる。
注②　ご子息：目上の人など敬意を表する相手の息子をさす。
注③　入道相国：出家した太政大臣のこと。つまり平清盛のこと。
注④　平時忠：平清盛の妻，時子の弟。
注⑤　嫡子：長男
注⑥　嫡孫：清盛の長男の子ども。
注⑦　公卿：日本の律令の規定に基づく太政官の最高幹部として国政を担う職。
注⑧　殿上人：天皇の日常生活の場である清涼殿の殿上間に昇ること（昇殿）を許された者。
注⑨　ご息女：目上の人など敬意を表する相手の娘をさす。
注⑩　知行国：貴族や寺社などに支配権が与えられた国のこと。
注⑪　中国（宋）の揚州の金，莉州の珠，呉郡の綾，蜀工の錦：
揚州・莉州・呉郡・蜀工はいずれも中国の都市。それらの名産物をあげている。

問い　史料中の波線部にもあるように，平清盛は「平家一門でない者は人ではない」と言われるほど絶大な力を持っていました。前ページの『平家物語』を読むと，それが良く分かります。この『平家物語』を読んで平清盛が権力や経済力を確立できた4つの要因を分かりやすく説明しなさい。

4－Ⅱ　みなさんは一日にインターネットをどのくらい使っていますか。インターネットには様々な使い道がありますが，情報を得るために使うという人が多いようです。YAHOO（ヤフー）ニュースやLINE（ライン），はたまたFacebook（フェイスブック）やInstagram（インスタグラム）など，私たちは様々なインターネットサービスから情報を得る時代に入っています。これらのサービスはその場ですぐに欲しい情報が調べられますし，多くの人が注目しているニュースもすぐにわかります。新聞社もインターネットを用いて情報を提供しており，新聞が発行されるよりも前に情報を知ることもできます。さらにインターネットでは，利用している人が普段よく見ている情報をもとに，サーチエンジンなどの学習機能によって，利用者が好むと思われる情報が優先的に表示されます。これは探さなくても知りたい情報が入ってくるため大変便利です。一方で，このような状況は「フィルターバブル」と呼ばれています。この言葉は，私たちがバブル（泡）の膜に包まれているような状態をたとえた言葉ですが，情報が自動的に提示されることにより，自分の興味のない情報が入ってこないことを表しています。このような状態は，私たちの民主主義社会において，大きな問題があると言われています。

民主主義社会において，このフィルターバブルという状態は，なぜ問題なのでしょうか。民主主義社会がどのような社会かを述べた上で，なぜ問題なのか，説明しなさい。

2022年度　入学試験問題　社会①　解答用紙

1

問1	A		帯	B		帯	C		問2	

問3	i	A		B		ii	

問4	i		ii		問5	

2

問1		問2	記号		誤っている語句		正しい語句	

問3	i	い		ろ		は		ii	

問4	i	い		ろ		は		ii	

3

問1		問2	A		B	

問3			問4		

問5	C			D			問6	

問7		

4-Ⅰ

4-Ⅱ

221214

↓ここにシールを貼ってください↓

受験番号			