1　次の文章を読んで，あとの問いに答えなさい。

①日本は中国，アメリカ合衆国，ドイツに次ぐ世界第４位の「貿易大国」※です。貿易は，国内外の経済動向や産業構造の変化などによって，取り引きされる品目が変化します。

日本は資源にとぼしく，原油などの燃料資源や工業原料の大部分を海外から輸入して，それらを利用して生産した工業製品を輸出する【　A　】貿易を中心に経済成長を遂げてきました。②日本の輸出品目はさまざまな移り変わりを経て今日にいたっています。

第二次世界大戦後は，原材料・素材加工型製品，軽工業製品の輸出が中心でしたが，その後，1960 年代には重化学工業が発展し，【　a　】の輸出が盛んになりました。1970～80 年代は，日本の産業の競争力が大幅に高まり，電子・電気機器，【　b　】，精密機器などの輸出が主力となりました。1980 年代は，外国との間で貿易摩擦が生じるようになったことや，生産コストが上昇したことなどから，日本の企業は工場を海外に移すようになり，日本国内の工場が減りました。この影響で，国内の工業生産・雇用が縮小することを産業の【　B　】といいます。1990 年代に入ると，【　b　】や【　c　】などの高度な技術力や知識力を必要とする高付加価値なハイテク製品の輸出が盛んになりました。

現在では，③国内での商業活動の活発化に加え，経済のグローバル化時代を迎えています。また，太陽光発電などの新エネルギーやバイオテクノロジーに代表される新たな産業分野も生まれています。このため，産業・ビジネスの環境はめまぐるしく変化しています。また，④少子高齢化が社会に与える影響も深刻です。さらに，韓国など新興国の台頭や，自由貿易協定（FTA）の締結などもあって，日本の産業・貿易構造は大きな転換期を迎えています。

※統計年次はドイツが 2016 年，中国が 2017 年，日本・アメリカ合衆国が 2018 年の輸出額をみたもの。2019/2020 世界国勢図会より。

参考文献：JTEC　キッズサイト　日本の貿易の特徴　一部改変
https://www.jftc.or.jp/kids/kids_news/japan/tokucho.html

問１　文章中の【　A　】・【　B　】にあてはまる語句を，漢字で答えなさい。

問２　文章中の【　a　】～【　c　】には，それぞれ自動車，鉄鋼，IT 機器のいずれかがあてはまります。【　a　】～【　c　】の組み合わせとして正しいものを次のア～カから１つ選び，記号で答えなさい。

	ア	イ	ウ	エ	オ	カ
a	自動車	自動車	鉄鋼	鉄鋼	IT 機器	IT 機器
b	鉄鋼	IT 機器	自動車	IT 機器	自動車	鉄鋼
c	IT 機器	鉄鋼	IT 機器	自動車	鉄鋼	自動車

問３　文章中の下線部①に関して，次の（i）（ii）の問いに答えなさい。

（i）　次の図１中のａ・ｂは，それぞれ「アメリカ合衆国の日本との貿易」，「アメリカ合衆国の中国との貿易」における 1990 年，2000 年，2010 年のアメリカ合衆国の輸出額と輸入額の推移を示したものです。図１中のａ・ｂのうち「アメリカ合衆国の日本との貿易」を示したものはどちらですか。また，図１のＸ・Ｙのうち，「輸出額」を示しているものはどちらですか。両者の組み合わせとして正しいものを，下のア～エから１つ選び，記号で答えなさい。

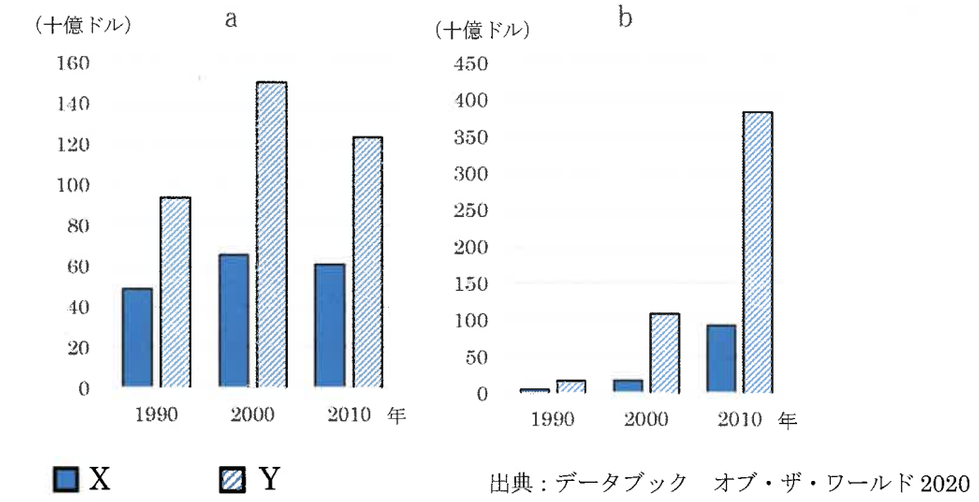

出典：データブック　オブ・ザ・ワールド 2020

図１

	ア	イ	ウ	エ
アメリカ合衆国の日本との貿易	a	a	b	b
輸出額	X	Y	X	Y

(ii)　次の雨温図は，ほぼ同緯度帯に位置する中国の青島（チンタオ）と，日本の石川県金沢市の気候の特色を示したものです。これについて述べた下の文中の【　Ⅰ　】～【　Ⅲ　】にあてはまる語句を漢字で答えなさい。なお，【　Ⅰ　】については8方位で答えなさい。

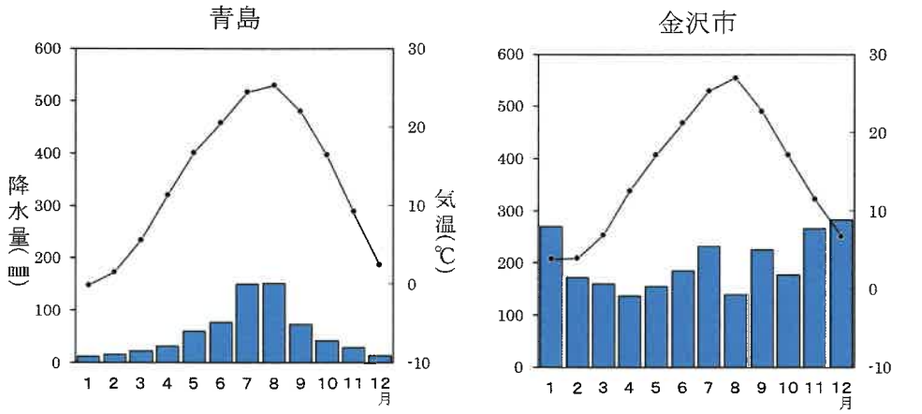

出典：データブック　オブ・ザ・ワールド2020

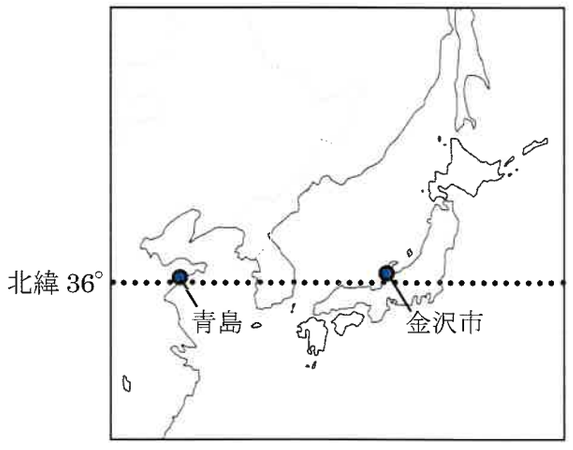

図2

先生　　「図2を見ると中国の青島と日本の石川県金沢市はともに北緯36°付近に位置していますが，気候の特色に違いがあることがわかりますね。これにはどのような理由があるのでしょうか？」

マナブくん「石川県の気候といえば“日本海側の気候である”ということを授業で習ったよね。確か，冬季に【　Ⅰ　】の方向から吹いてくる【　Ⅱ　】風の影響で降水量が多くなるのが特徴だったね。」

ヒロコさん「両者の気候の特色の違いは日本海との位置関係にあるのかもしれないな！　金沢市の方が冬季の気温が高いのは，日本海を流れる【　Ⅲ　】海流の影響が考えられそうだね。」

問4　文章中の下線部②に関して，各貿易港から輸出される品目の特徴には違いがみられます。次の表1は名古屋港，東京港，関西国際空港，博多港の輸出額とそれが日本の総輸出額に占める割合および輸出額上位5品目とその割合を示したものです。東京港はどれですか。表1中のア～エから1つ選び，記号で答えなさい。

表1

	輸出額（億円）	日本の総輸出額に占める割合（%）	輸出額上位5品目とその割合（%）
ア	124,845	15.3	自動車（25.0） 自動車部品（17.5） 金属加工機械（4.4） 内燃機関（4.2） 電気計測機器（3.5）
イ	60,398	7.4	自動車部品（6.9） コンピュータ部品（5.5） 内燃機関（5.3） プラスチック（4.5） 電気回路用品（3.3）
ウ	52,660	6.5	集積回路（15.0） 科学光学機器（7.8） 電気回路用品（6.7） 個別半導体（6.3） 通信機（3.6）
エ	27,665	3.4	集積回路（25.2） 自動車（23.2） タイヤ・チューブ（5.2） 半導体製造装置（4.7） 二輪自動車（4.0）

統計年次は2018年。

出典：データブック　オブ・ザ・ワールド2020

問 5　文章中の下線部③に関して，次の表 2 は，日本の小売業の業態別年間商品販売額の構成比（%）を示しています。これは，「百貨店」，「大型スーパー（総合スーパー）」，「コンビニエンスストア」の 3 つの小売業の業態がそれぞれどのような場所に立地しているかを示したものです。また，下の図 3 はその 3 つの業態それぞれの販売額の推移を示したものです。表 2 中の Ⅰ～Ⅲ と図 3 中の A～C のうち「コンビニエンスストア」の組み合わせはどれですか。下のア～ケから正しい組み合わせを 1 つ選び，記号で答えなさい。

表 2

	商業集積地区※1			オフィス街地区	住宅地区	その他地区
	駅周辺型※2	ロードサイド型※3	その他			
Ⅰ	58.4	1.6	33.4	6.4	0.1	…
Ⅱ	22.7	27.4	27.6	4.7	6.4	11.3
Ⅲ	11.7	1.8	10.7	13.8	30.4	31.6

※1 商店が集まり，商店街を形成している地域のこと。

※2 JR や私鉄などの駅周辺に立地する商業集積地区のこと。

※3 国道などの主要道路沿いを中心に立地している商業集積地区のこと。

※四捨五入により，合計が 100%にならない場合があります。

統計年次は 2014 年。

出典：データブック　オブ・ザ・ワールド 2020

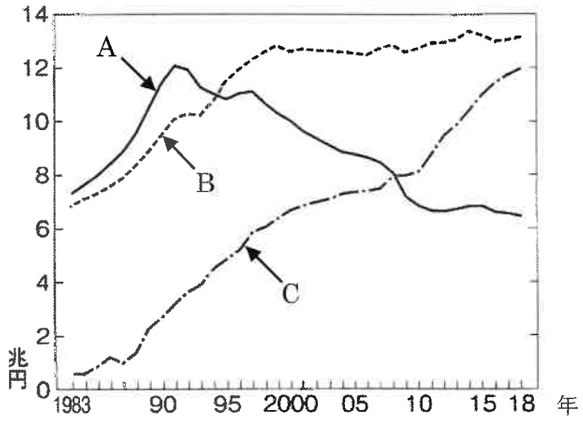

図 3

出典：日本国勢図会 2019/20

ア．　Ⅰ－A　　イ．　Ⅰ－B　　ウ．　Ⅰ－C
エ．　Ⅱ－A　　オ．　Ⅱ－B　　カ．　Ⅱ－C
キ．　Ⅲ－A　　ク．　Ⅲ－B　　ケ．　Ⅲ－C

問 6　文章中の下線部④に関して，次の図 4 中のア～エは，イギリス，エジプト，日本，ブラジルにおける人口の高齢化の推移と予測※を 2 示したものです。イギリスを示したものはア～エのどれですか。1 つ選び，記号で答えなさい。

※2019 年までは推計人口，2030 年は将来推計人口の中位推計値。

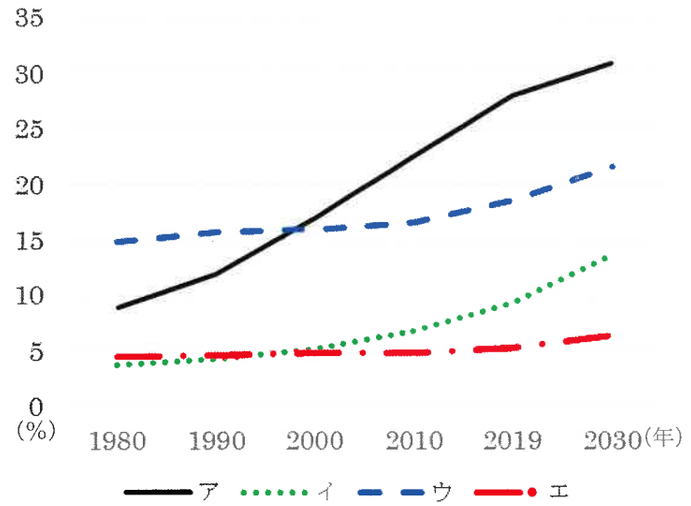

図 4

出典：世界国勢図会 2019/20

2　次の文章は日本の海運（海上を利用した旅客輸送・貨物輸送のこと）の歴史について書かれたものです。これを読んで，あとの問いに答えなさい。

大小無数の島によって形成された自然条件から，日本では古くから海上交通が盛んだったと考えられています。

607年に厩戸王が【　A　】を遣隋使として派遣しました。この時代の日本の船は，刳舟と呼ばれる丸木舟をベースにしたものです。その後，唐の時代になって，①630年から894年まで遣唐使が19回任命され15回渡海しましたが，この当時の船は，ジャンク船（三本マストで角形の帆が特徴の木造船）型だったと言われています。

室町時代に入ると，1404年，【　B　】が明との間で勘合貿易を開始し，外国との貿易が盛んになりました。この頃から日本海測の航路が発達をみせはじめ，近畿地方の産物や，昆布を中心とする蝦夷地の産物を運んでいました。

②安土桃山時代は織田信長や豊臣秀吉が，江戸時代に入ると徳川家康が，貿易で得られる利益を重視して，海外貿易に力を入れました。海外に渡ることを認める【　C　】を大名や大商人に与え，東南アジアの国々などと貿易をすすめました。その後，3代家光の時代になって江戸幕府は鎖国政策をとり，以後約220年間海外との隔絶時代が続きます。

幕末になり，ペリーが浦賀を訪れたことがきっかけとなり，鎖国は終わり，明治時代を迎えます。明治政府は，近海・沿岸の海運を③国内企業に掌握させ，また有事の際に軍事輸送をおこなわせるため，【　D　】藩出身の岩崎弥太郎が経営する三菱（郵便汽船三菱会社）に手厚い保護を与えました。さらに，1885年には共同運輸会社が合併して日本郵船会社が誕生しました。

その後も明治政府の助成政策は続き，日本海運は積極的に外国航路に進出するようになります。さらに日清・日露の両戦争による特需も，発展の大きなバネになります。こうした海運の発展に伴って，造船業も次第にその基盤を固めて外国航路に就航する大型汽船の多くが国内で建造されるようになりました。長い鎖国の眠りからさめてわずか数十年ほどで，日本は世界を代表する海運国の１つとして華々しく歴史の舞台に登場します。

参考資料：一般社団法人　日本船主協会 HP 「日本の海運史」より　一部改変

問１　文章中の空欄【　A　】～【　D　】に入る語句をそれぞれ漢字で答えなさい。
※【　A　】と【　B　】は人名を答えること。

問２　文章中の下線部①について，この期間と関連がない資料はどれか。次のア～エから１つ選び，記号で答えなさい。

ア

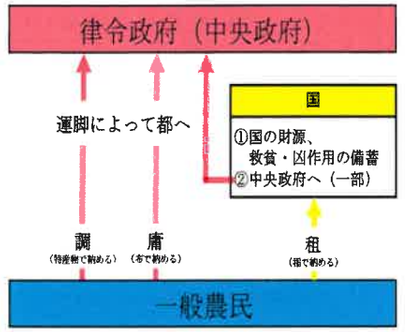

イ

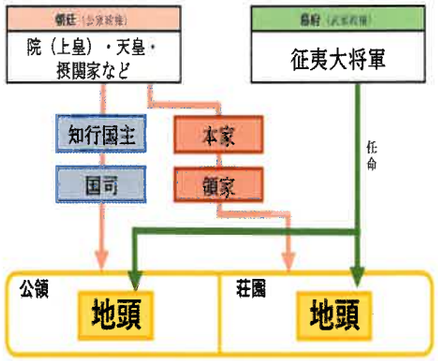

ウ

天平十五年，詔が出された。私は，仏のめぐみを世の中に広めるために，金銅の盧舎那仏をつくろうと思い立った。……天下の富を持っているのは，私である。天下の権力を持っているのも私である。この富と力で，この尊い像をつくる。……もし，一本の草やひとにぎりの土をもって協力しようと願うものがあれば，これを許しなさい。

エ

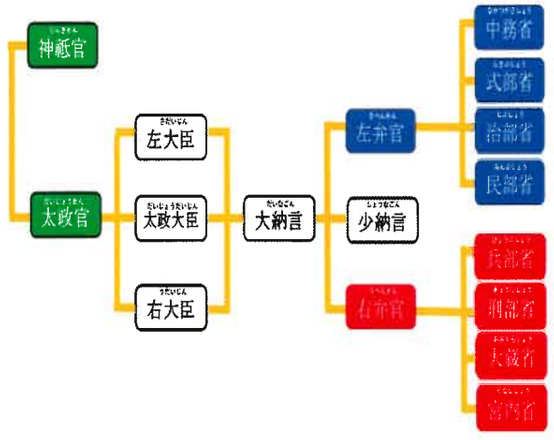

問3　文章中の下線部②について，15世紀～16世紀に起きた出来事の説明として正しいものを次のア～エのうちから1つ選び，記号で答えなさい。

ア．　織田信長は仏教勢力が全国統一のさまたげになると考え，東大寺を焼き討ちにしたり，石山本願寺を攻めたりしました。

イ．　南蛮貿易において日本は，主に銀・銅・海産物などを輸入し，火薬・生糸・絹織物などを輸出しました。

ウ．　この時期に初めてキリスト教が日本に伝来し，各地に教会や学校・病院などがつくられ，布教が広まりました。

エ．　豊臣秀吉は四国や九州の大名を従えた後，伊達氏の本拠地である小田原城を攻め落として，全国統一を成し遂げました。

問4　この文章には10～14世紀の海運史に関する記載がありません。この期間は「外国との交流が少なかった時代」という見方に対する反論として成り立つものを次のア～エのうちから1つ選び，記号で答えなさい。

ア．　この時代には，中国との正式な国交はなかったが，僧侶や商人の往来をとおして民間の貿易はあり，外国との交流は少なくなかった。

イ．　この時代には，長崎の出島にある商館を窓口にして，ヨーロッパの文物を受け入れており，外国との交流は少なくなかった。

ウ．　この時代には，中国に公式の使節が派遣され，先進的な政治制度や文化などがもたらされており，外国との交流は少なくなかった。

エ．　この時代には，将軍が代わるごとに朝鮮通信使という使節が来日し，朝鮮と貿易も行われていたので，外国との交流は少なくなかった。

問5　文章中の下線部③について，次の資料A～資料Cは日本国内の企業が起こした足尾銅山鉱毒事件に関するものです。これらの資料を読んで，あとの問いに答えなさい。

資料A

年	出来事
1877	古河市兵衛が足尾銅山（栃木県）を買い取る
1891	衆議院議員の【　Ⅰ　】が，帝国議会で初めて足尾銅山鉱毒事件を問題化し政府を追及した
1900	【　Ⅱ　】流域の数千の農民が鉱毒事件を訴えに上京しようとし検挙された(川俣事件)
1901	【　Ⅰ　】は代議士を辞職し，天皇に直訴を試みるが果たせなかった
1907	政府は谷中村を廃村とし，遊水地の設置のため，強制立ち退きを執行した

資料B

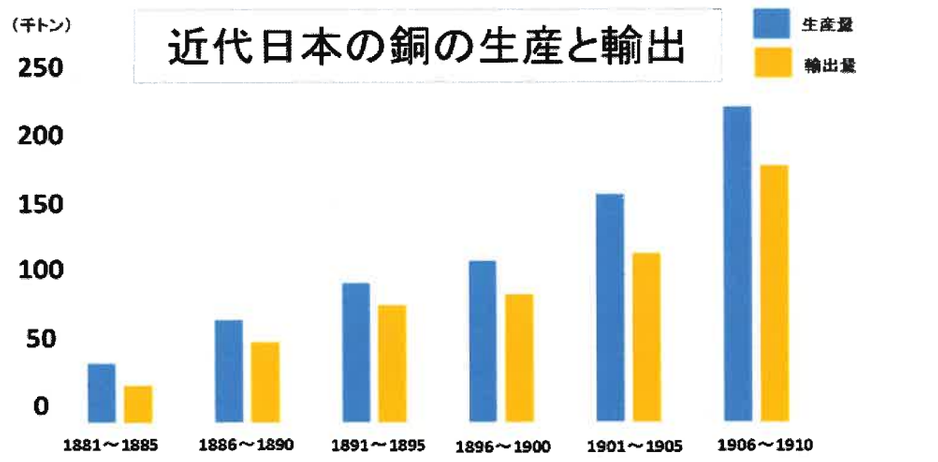

（武田晴人『日本産銅業史』により作成）

資料C

【　Ⅱ　】流域の村々では，作物は根から腐って枯れてしまい，川の魚は白い腹を見せて浮き上がってしまっておるのであります。……足尾銅山が鉱毒を流すからでございます。……政府は，ただちに足尾銅山に鉱石を掘ることをやめさせ，鉱山の経営者は，百姓衆の被害に対してつぐないをすべきであります。

出典：上笙一郎「【　Ⅱ　】の叫び」

設問１　資料Ａと資料Ｃの空欄【　Ⅰ　】・【　Ⅱ　】にあてはまる語句の組み合わせとして正しいものはどれですか。次のア～エから１つ選び，記号で答えなさい。

ア．Ⅰ－田中正造　　Ⅱ－渡良瀬川　　イ．Ⅰ－田中正造　Ⅱ－阿賀野川
ウ．Ⅰ－尾崎行雄　　Ⅱ－渡良瀬川　　エ．Ⅰ－尾崎行雄　Ⅱ－阿賀野川

設問２　資料Ａ～資料Ｃから考えられることとして誤っているものを，次のア～エから１つ選び，記号で答えなさい。

ア．　明治時代を通じて，銅の生産量と輸出量は順調に伸びており，生産量の大半が輸出向けであったと考えられる。
イ．　地域の人々の鉱毒被害の訴えよりも，政府は富国強兵政策や経済成長を優先したと考えられる。
ウ．　【　Ⅰ　】の人物は，満25歳以上のすべて男子に選挙権が与えられた普通選挙制のもとで選出された衆議院議員であったと考えられる。
エ．　日本の銅の輸出量が10万ｔを超えたのは，日清戦争が開戦したよりも以後のことだと考えられる。

3　次の文章を読んで，あとの問いに答えなさい。

国際平和を維持しようと設立された国際連盟は，大国が加盟しなかったことなどの問題点があり，第二次世界大戦を防ぐことはできませんでした。そのため，第二次世界大戦の後，国連憲章をもとに新たなしくみとして国際連合が設立され，平和維持をはじめ，世界が抱えるさまざまな問題に対処しています。設立当初51か国だった加盟国は，その後増え続け，①日本も1956年に加盟しました。

国際連合の主要機関は，②総会・［　A　］・経済社会理事会・③安全保障理事会・信託統治理事会・事務局の６つですが，そのうち信託統治理事会は，活動停止中です。安全保障理事会は，世界の平和と安全を守るために，経済制裁や武力行使をする権限が与えられています。経済社会理事会は，多くの専門機関を設置し，世界中の人々の健康増進や④教育，⑤労働問題など，安全保障以外の分野で幅広く活動しています。

国際連合の活動には，平和を守る以外の大きな役割として⑥人権を守るというものがあります。2006年には国連人権理事会が設置され，人権問題に関する研究や人権に関する決まりが守られているかの監視などを行っています。

問１　文章中の下線部①について，日本が国際連合に加盟した時点で，日本と国交があった国を次のア～エから１つ選び，記号で答えなさい。

ア．　ソビエト社会主義共和国連邦
イ．　大韓民国
ウ．　中華人民共和国
エ．　朝鮮民主主義人民共和国

問２　文章中の下線部②について，総会の説明として誤っているものを次のア～エから１つ選び，記号で答えなさい。

ア．　総会は全加盟国が参加し，一国一票の投票権を持ちます。
イ．　常任理事国の５か国は拒否権を持っており，１か国でも反対すれば決議はできません。
ウ．　一般的な案件は出席した投票国の過半数で議決されますが，重要な案件に関しては出席した投票国の３分の２以上の賛成が必要です。
エ．　通常総会は毎年９月に開かれますが，それ以外にも必要に応じ，加盟国の過半数の要請などによって特別総会が開かれることもあります。

問 3　文章中の空欄［ A ］には，国同士の国際紛争を法的に解決するために設置されている機関の名称が入ります。あてはまる語句を漢字で答えなさい。

問 4　文章中の下線部③について，この機関の常任理事国 5 か国は，すべて第二次世界大戦のときの連合国であり，核保有国でもあります。また，［ B ］は，サミット（主要国首脳会議）の参加国でもあります。それらをふまえて，次の空欄［ B ］・［ C ］にあてはまる国名をそれぞれ答えなさい。

常任理事国：「アメリカ合衆国・イギリス・ロシア・［ B ］・［ C ］」
非常任理事国：「ベルギー　・ドミニカ共和国・ドイツ・
南アフリカ共和国　・インドネシア・ニジェール・
エストニア　・チュニジア　・ベトナム・
セントビンセントおよびグレナディーン諸島
※ 2020 年現在

問 5　文章中の下線部④について，日本国憲法は，教育を受ける権利を「すべて国民は，法律の定めるところにより，その能力に応じて，ひとしく教育を受ける権利を有する」と定めています。教育を受ける権利は，「平等権」「自由権」「社会権」「基本的人権を守るための権利」のいずれかに分類されます。教育を受ける権利と同じものに分類される権利を次のア～エから 1 つ選び，記号で答えなさい。

ア.　何人も，裁判所において裁判を受ける権利を奪われない。
イ.　学問の自由は，これを保障する。
ウ.　すべて国民は，法の下に平等であって，人種，信条，性別，社会的身分又は門地により，政治的，経済的又は社会的関係において，差別されない。
エ.　勤労者の団結する権利及び団体交渉その他の団体行動をする権利は，これを保障する。

問 6　下線部⑤について，現在と 1990 年の頃を比べた日本の労働者に関わる説明 A・B・C のうち，正しい場合を「○」，誤っている場合を「×」とした場合，その正しい組み合わせを次のア～クから 1 つ選び，記号で答えなさい。

A　1990 年の頃と比べて現在では，やりがいのある仕事と充実した私生活を両立させる「ワーク・ライフ・バランス」の実現が求められています。
B　派遣社員や契約社員，パート・アルバイトなどの非正社員の数は，1990 年と比べて増加しています。
C　民間企業における女性の管理職の割合は，1990 年と比べて減少しています。

ア.　A ○　B ○　C ○
イ.　A ○　B ○　C ×
ウ.　A ○　B ×　C ○
エ.　A ○　B ×　C ×
オ.　A ×　B ○　C ○
カ.　A ×　B ○　C ×
キ.　A ×　B ×　C ○
ク.　A ×　B ×　C ×

問 7　文章中の下線部⑥について，日本では人権を守るために憲法が存在し，国家権力は憲法の規定に従わなくてはなりません。裁判所は，法律や行政処分などが憲法に違反していないかを判断する権限を持っています。この権限を漢字 7 字で答えなさい。

4—Ⅰ　奈良時代に関する次の史料A・Bについて，［Ⅰ］・［Ⅱ］に入る語句を考えながら，あとの問いに答えなさい。史料は一部加筆しています。また，史料文の空欄の同じ記号には同じ語句が入ります。

A　太政官が天皇に申し上げた。「最近人口がしだいに増えてきて口分田が足りなくなってきました。そこで，全国に勧めて田地を耕させるようお願いいたします。新しく灌漑施設をつくり耕す者には面積の広い狭いにかかわらず［Ⅰ］に渡って所有させましょう。すでにある溝や池を利用して耕した場合には，［Ⅱ］に限り所有させることとしましょう」と。

B　聞くところによると，耕された田地は養老七年の法律により，期限がきたあとは律令の規定によって国家が公地として回収している。そのため農民が怠けてしまい耕した田地が再び荒れてしまうという。これからは，耕した者が思うままに私有することを認め，［Ⅰ］または［Ⅱ］という期限とせずにすべて永久に私有地とする。

問　史料Aの内容は，新しく耕した田地の私有を認めた法律です。しかし，史料Aが出されたにもかかわらず，その後に史料Bの内容の法律が出されました。その理由について，史料A，Bの内容を参考にしながら説明しなさい。

4 - Ⅱ　次の文章を読んで，あとの問いに答えなさい。

日本で裁判員制度が導入されてから，はや10年が過ぎました。

裁判員制度とは殺人などの重大な犯罪にかかわる刑事裁判の第一審において，満20歳以上の国民から事件ごとにくじで選ばれた裁判員6名が専門の裁判官3名とともに裁判に参加する日本の司法制度のことを言います。

この裁判員制度の元となったものが海外で行われている「陪審制」や「参審制」という仕組みです。「陪審制」は国民の中から事件ごとに抽選で選ばれた人々（陪審員）が，裁判官から独立して事実認定を行う（事実の判断と有罪・無罪を決定する）制度です。刑の重さを決める量刑には陪審員は関わりません。量刑を決めるのは裁判官（判事）が行います。陪審制を導入している代表的な国はアメリカ合衆国です。

これに対して「参審制」は裁判官と国民の中から政党の推薦などで選ばれた人々（参審員）が話し合って裁判を行う制度です。参審員に選ばれると一定の期間任務に就きます。基本的に裁判官と同等の権利を持っていて，事実認定，そして量刑を裁判官と一緒に判断します。参審制を導入している代表的な国はドイツです。

この2つの仕組みを合わせたものが日本の裁判員制度です。ただ，この日本の裁判員制度では問題点が指摘されています。それは，裁判員を務める一般の国民の精神的な負担が重いというものです。なぜ日本の裁判員制度では裁判員の精神的負担が重いのでしょうか。以下の表1と表2の両方を用いて，アメリカ合衆国やドイツの制度と比較しながらその理由を文章で説明しなさい。

表1　陪審制，参審制，裁判員制度の比較

	アメリカの陪審制	ドイツの参審制	日本の裁判員制度
事実認定は誰が行う？	国民から選ばれた人々	国民から選ばれた人々と裁判官	国民から選ばれた人々と裁判官
量刑は誰が行う？	裁判官（判事）	国民から選ばれた人々と裁判官	国民から選ばれた人々と裁判官
選び方	事件ごとに陪審員を選ぶ	一定の任期で，参審員を選ぶ	事件ごとに裁判員を選ぶ

表2　アメリカ，ドイツ，日本の死刑制度

	アメリカ	ドイツ	日本
死刑制度	維持（一部の州は廃止や執行せず）	廃止	維持

2021年度　入学試験問題　社会①　解答用紙

1

問1	A		B		問2	

問3	i					
	ii	I		II		III

問4		問5		問6	

2

問1	A		B		問2			
	C		D					

問3		問4		問5	設問1		設問2	

3

問1		問2		問3	

問4	B		C			問5	

問6		問7					

4-Ⅰ

4-Ⅱ

↓ここにシールを貼ってください↓

211214

受験番号			