1　次の1～4の文章は，4人の広尾学園の生徒が書いた夏休みの旅行のレポートです。各文章を読んで，以下の問いに答えなさい。

1　私は山形県に行きました。東京から東北新幹線で宮城県の古川駅まで行き，古川駅からは陸羽東線を走るリゾート列車に乗り換え，山形県に入りました。新庄駅から在来線に乗り継ぎ，【　A　】に到着しました。日本三大急流の 1 つである【　A　】を船でくだった時は非常にスリルが味わえました。また，夜は川沿いのキャンプ場でキャンプをしました。①電気を使わない生活はしたことがなかったので心細かったですが，東京と比較して電灯等の街明かりが少ない分，夜は満点の星空が見られて感動しました。

2　私は父の運転で群馬県の尾瀬国立公園に行きました。尾瀬国立公園は群馬・栃木・【　B　】・新潟の 4 県にまたがる日本最大の山岳湿原である尾瀬ヶ原や尾瀬沼を中心とした国立公園です。私たちを含め，多くの観光客がいましたが，②ごみが全く落ちていないのが印象的でした。尾瀬では，昭和 47 年からゴミ箱を置いておらず，持ち帰り運動が行われているそうです。雄大な自然の中でのハイキングによって，足は疲れましたが心はとても癒されました。

3　私は香川県に行きました。香川県は降水量が少なく，農業用水を確保するための【　C　】が飛行機からたくさん見えました。また，香川県は金刀比羅宮や栗林公園ほか，直島や小豆島など瀬戸内海の③島旅など多彩な楽しみが凝縮されていました。また，“うどん県”とも呼ばれる讃岐うどんの本場でもあり，あまりの美味しさに 3 杯も食べてしまいました。

4　私は④福岡県に行きました。新幹線で本州から【　D　】海峡を渡って福岡県に入りました。今回の旅行で特に印象に残ったのは，北九州にある官営八幡製鉄所に関連した施設です。この施設は 2015 年に明治日本の産業革命遺産として世界遺産に登録されています。かつて日本の⑤鉄鋼業の発展を支えた施設が，今はただ静かに佇んでいる姿に心が動かされました。

問１　1～4 の文章中の【　A　】～【　D　】にあてはまる語句を答えなさい。

問 2　下線部①について，次の表は日本の 4 つの地域（沖縄・九州・東北・北海道）における夏（7～9 月）と冬（12～2 月）の最大需要電力（万 kW）を示したものです。北海道にあたるものはどれですか。ア～エから 1 つ選び，記号で答えなさい。

	7～9 月	12～2 月
ア	1302	1461
イ	1585	1575
ウ	433	525
エ	154	114

『日本国勢図会（2019/20)』より作成。
統計年度は 2017 年度。

問 3　下線部②について，以下のグラフ 1 は，ごみ（一般廃棄物）を埋め立てによって最終的に処理する「最終処分場」の全国の残余容量（千㎥）と，残余年数（年）を示したものです。グラフを見ると，最終処分場に捨てることが出来るごみの最大容量（残余容量）は年々減少しているものの，処分場がごみで一杯になってしまうまでの年数（残余年数）は増加していることがわかります。このような変化となる理由を 1 行以内で説明しなさい。

グラフ 1

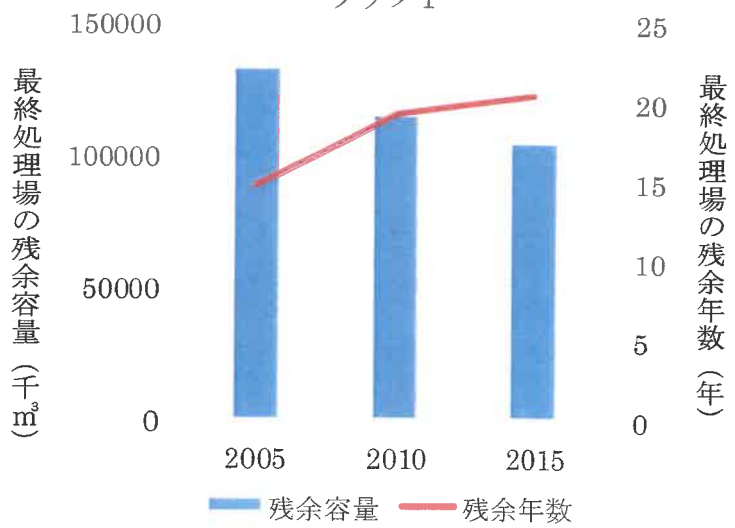

『日本国勢図会 2019/20』より作成。

問 4　下線部③について，日本国内の島について述べた次の文ア～エから誤っているものを 1 つ選び，記号で答えなさい。

ア．屋久島は，鹿児島県南部にある円形の島です。年間を通して降水量が多く，樹齢(じゅれい)数千年といわれる縄文杉は有名です。

イ．対馬は，九州と朝鮮半島との間にあり，福岡県に属しています。漁業を主産業としており，古くから朝鮮半島との中継地でした。

ウ．佐渡島は，日本海上にある島です。島の平野は米作が盛んで，両津港を中心に水産業も活発です。江戸時代は幕府の直轄(ちょっかつ)領で，佐渡金山で栄えました。

エ．与那国島は，八重山諸島西端の島で，日本の最西端に位置します。製糖業，鰹節(かつおぶし)の生産が行なわれ，面積約 30 平方キロメートルです。

問 5　下線部④について，次の地図 1～3 は 2 万 5000 分の 1 地形図「福岡」の一部をとりあげたもので，それぞれ地図 1 は昭和 36 年，地図 2 は昭和 57 年，地図 3 は平成 20 年に発行されたものです。これらの地形図について説明した次ページの文章ア～エのうち，地図から読み取れることとして適当なものを 1 つ選び，記号で答えなさい。



地図 1（昭和 36 年）　0　1km



地図 2（昭和 57 年）　0　1km



地図 3（平成 20 年）　0　1km

ア．　地図 2 では，飛行場の東部にある亀山炭坑(たんこう)の跡(あと)地付近に工業団地が形成されています。

イ．　地図 1 では飛行場の東部にある炭坑付近に鉄道が通っていますが，地図 3 でも増加した周辺住民による鉄道の利用が続いています。

ウ．　地図 1 から地図 2，地図 3 まで，空港の東部の地名はすべて変わっていないので，古くからの住宅地であることがわかります。

エ．　地図 1 から地図 2，地図 3 のまで，市街地が拡大していますが，これに合わせて，河川が直線化されています。

問6　下線部⑤について，次のグラフ2中のア～エは1970から2017年にかけての日本の工業製品（合成繊維織物，自動車，鉄鋼，半導体電子部品）ごとの輸出額に占める割合の推移を示したものです。「鉄鋼」を示したものはどれですか。ア～エから1つ選び，記号で答えなさい。

グラフ2

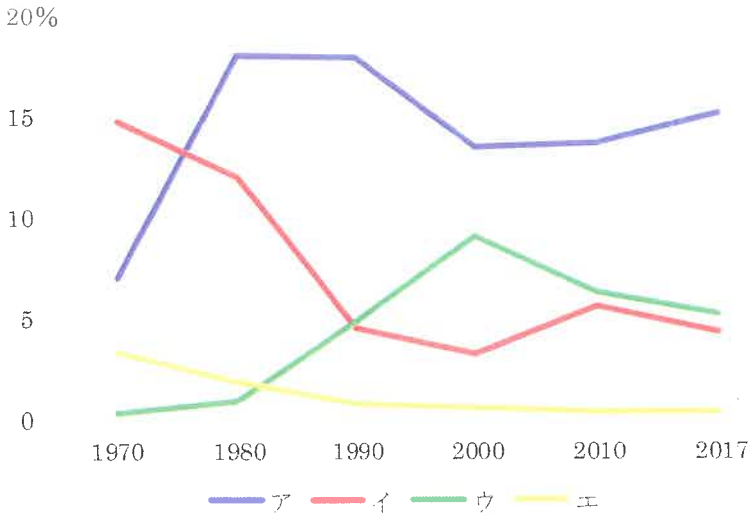

『データブック　オブ・ザ・ワールド2019』より作成。

2 以下の文章を読んで，あとの問いに答えなさい。

「情報通信」は，人類の誕生と同時に始まったといわれています。いつの時代にあっても情報をいかに早く届けるかを努力し，そのためにさまざまな手段を開発してきたようです。古代，王の命令の伝達や戦いの情報などのやりとりで活躍したのが「のろし」です。ギリシャ，中国はもちろん，日本でもすでに①弥生時代には海岸沿いの高台にのろし台が設けられ，外洋からの侵入者の情報を統治者に伝えたようです。

その後，ローマ帝国，モンゴル，インカ帝国など巨大帝国の出現で，人や馬を利用した伝令による中継点を経由した情報伝達が発展しました。各地に道路網を建設できる強い統治力，経済力があったから実現できたわけで，この道路網こそが現在でいう通信回路の役割を担っていました。

日本でも②鎌倉時代より飛脚制度が現れ始め，③江戸時代には江戸・京都を早ければ3日で書状を届けたそうです。それよりも早い情報を求めたのが大阪堂島の米相場の商人たちで，手旗による通信は大阪から和歌山まで3分，京都まで4分で相場情報を伝達し，これは20世紀初めまで機能していました。

1844年にアメリカのモールスが，ワシントン・ボルティモア間60kmを有線による電気信号の通信（モールス信号）を行って以降，大西洋横断線（1858年）に始まり，南北アメリカ，アジア，アフリカなどに電信線が張り巡らされました。日本でも④1869年に東京・横浜間が開通し，1874年には東京・青森間が，そして数年後には北海道から九州までの列島電信縦断ルートが完成しました。

有線の通信に音声を乗せるのを試みたのがアメリカのベルで，1876年に電話の特許を得ています。一方，有線電信では船舶などとの通信ができないため，無線通信の研究が盛んに行われ，1895年にイタリアのマルコーニが無線通信に成功。1903年に日本の海軍軍艦に搭載（とうさい）され，⑤日露戦争を勝利に導きました。

20世紀前半に入ると日本でもラジオが普及し，その後はテレビの時代が到来します。第二次世界大戦後，⑥1955年のテレビ放送開始直後の受信機は1500台でしたが，経済成長とともに爆発的に増加していきました。テレビのカラー化，ラジオのFM放送など次々と技術が発展しました。現在の通信の主流は，携帯電話でありインターネットです。短時間に普及したこれらの技術や製品が今後，どのような姿に変化し，我々の生活をどう変えていくのか，ネットワーク社会の今後に目が離せませんね。

参考資料：「通信の歴史」サイトより

問１　下線部①の時代について述べた以下の文章の中で明らかに誤りを含むものを，次のア～オからすべて選び，記号で答えなさい。

ア．　中国や朝鮮半島を経由して稲作と鉄器・青銅器が伝わりました。また，土器は，薄くて硬く，文様の少ないものが作られました。

イ．　稲作の広まりとともに水や土地などをめぐり，村落同士の争いが多発しました。そのため，敵の侵入を防ぐために周囲を濠（ほり）や柵（さく）で囲んだ環濠集落が見られました。

ウ．　稲作が広まると，人々の生活には貧富の差が生まれ，また，農作業を指図するものや，豊作を占う指導者が現れるようになりました。

エ．　稲作は，九州北部から日本各地に広まり，北は北海道まで広がりましたが，南は沖縄までは広がらず，狩猟や漁を中心とする生活が続けられていました。

オ．　人々は，木製のすきやくわで田を耕し，石包丁で収穫した稲は，高床倉庫にたくわえられ，うすや田げたを使って脱穀しました。

問２　下線部②について，以下の文章を読んで，あとの設問に答えなさい。

中国を支配したモンゴル民族は国号を元と定め，朝鮮半島の高麗(こうらい)を従えて，当時の日本に何度か使いを送った。幕府の執権【　あ　】がこれを拒(こば)むと元は博多湾に上陸し，新兵器を用い集団戦法で攻め込んだ。元による 1274 年の襲来は【　い　】と呼ばれ，日本は苦戦しながらもこれを退けた。7 年後，元は再び攻め込んできたが，暴風雨にあい，大きな損害を受けて撤退した。この二つの戦いを元寇という。

(1)　上記文章中の【　あ　】・【　い　】に入る適当な語句を答えなさい。

(2)　上記文章中の出来事による影響に関して述べた文として正しいものはどれですか，次のア～エから１つ選び，記号で答えなさい。

ア．　幕府の力は朝廷が勢力を保っていた西国にまでおよび，朝廷をしのぐようになりました。武士の法律や制度も整えられて，北条氏を中心とする幕府の支配は強まりました。

イ．　村落の住民に対して，武器を回収する命令が出され，それらの武器が博多湾へと送られました。また，武士や町人を城下町に住まわせ，身分がはっきり区別されるようになりました。

ウ．　御家人たちは多額の費用を投じ，幕府のために命懸けで戦ったにも関わらず，幕府からはほうびの土地を十分にもらうことが出来ず，不満が高まりました。

エ．　幕府の法律に背いた大名は他の領地に移されたり，領地を取り上げられたりしました。守護大名は元寇における功績に応じ，幕府の都合で各地に配置されました。

問３　下線部③の時代に関する以下の資料Ａ～Ｄを，古いものから，時代順に並べかえなさい。解答用紙には，左から古い順に書くこと。

Ａ
長州のおかげで百文にお米が一升する　えいじゃないか　えいじゃないか
おめしちりめん一反が二分する　えいじゃないか　えいじゃないか
追々諸色（物価）が安くなる　えいじゃないか　えいじゃないか

Ｂ
西洋は禁令のキリスト教国だから，どこの海辺に来ても居合わせたものが有無を言わさず，ひたすら打ち払い，上陸すればとらえるか，または打ち殺してよい。

Ｃ
世の中に　蚊ほどうるさきものはなし　ぶんぶというて　夜も寝られず
白河の　清きに魚の　すみかねて　もとのにごりの　田沼恋しき

Ｄ
第二条　伊豆（静岡県）の下田と松前（北海道）の函館の２港は，アメリカ船が薪・水・食料・石炭などの不足する品物を買う目的に限り，来港を許す。
第九条　日本が，アメリカ以外の外国に対して，現在アメリカに許していないことを許すときは，ただちにアメリカにも同じように許すこと。

問 4　下線部④の時期に，以下の資料 E が政府によって発布され，学制が始まりました。明治の末期になると就学率は 100%に近づきますが，資料 F を見ると，開始当初は小学校への出席率が低かったことが読み取れます。なぜ，当初子供を小学校に通わせることに反対する親が多かったのでしょうか。資料 E～G を参考にして 1 行程度で説明しなさい。

【資料 E】

およそ人の営むすべてのことで，学ぶことを必要としないものはない。道をあやまって飢えにおちいったり，家を破産させて身を滅ぼすような者は，結局不学によってこのようなあやまちが生じているのである。

このたび文部省で学制を定め，今後は身分を問わず，必ず村に不学の家がなく，家に不学の人がいないことを目標とする。人の父兄である者は，この意味をよく理解して，自分の子弟を必ず学校に通わせなければならない。

（公布前日の「学事奨励に関する太政官布告＜被仰出書＞」）

【資料 F】

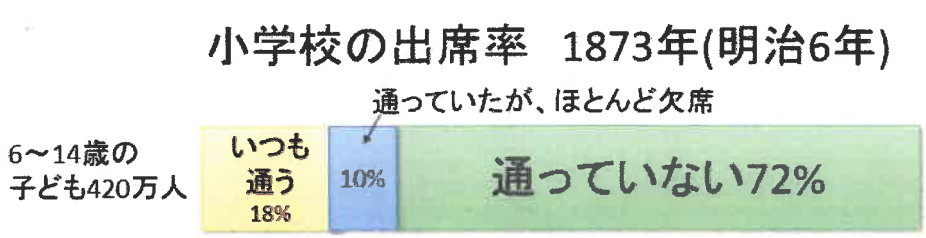

文部省「学制八十年史」より作成

【資料 G】

●「･･･授業料は 1 か月 50 銭くらいが適当である。」

（『学制』第 94 章より）

●明治 11 年当時の有業者（職業に就いている人）平均所得が年収 21 円

（参考：文部科学省調査局「日本の成長と教育」昭和 37 年より）

●1 円=100 銭

●明治時代の平均的な農民の生活費は 1 日 4 銭ほど

問 5　下線部⑤に関して，以下の H～J は戦争後に結ばれた条約の締結地が入ります。H～J の場所を以下の地図中のア～クから，それぞれ 1 つずつ選び，記号で答えなさい。

H 条約
- 清朝は，朝鮮が独立国と認める。
- 清朝は，日本に賠償金を 2 億両支払う。
- 台湾・遼東半島・澎湖諸島を日本の領土とする。

I 条約
- 樺太の南半分は日本の領土とする。
- 旅順・大連の租借権および南満州の鉄道の権利を日本に譲る。
- 沿海州とカムチャツカの漁業権を日本に認める。

J 平和条約
- 日本は朝鮮の独立を認める。台湾・千島列島・南樺太などを放棄する。
- 沖縄・奄美・小笠原諸島をアメリカが治めることに日本は同意する。
- 日本占領の軍隊は引き上げるが，協定により外国軍が留まるのを認める。

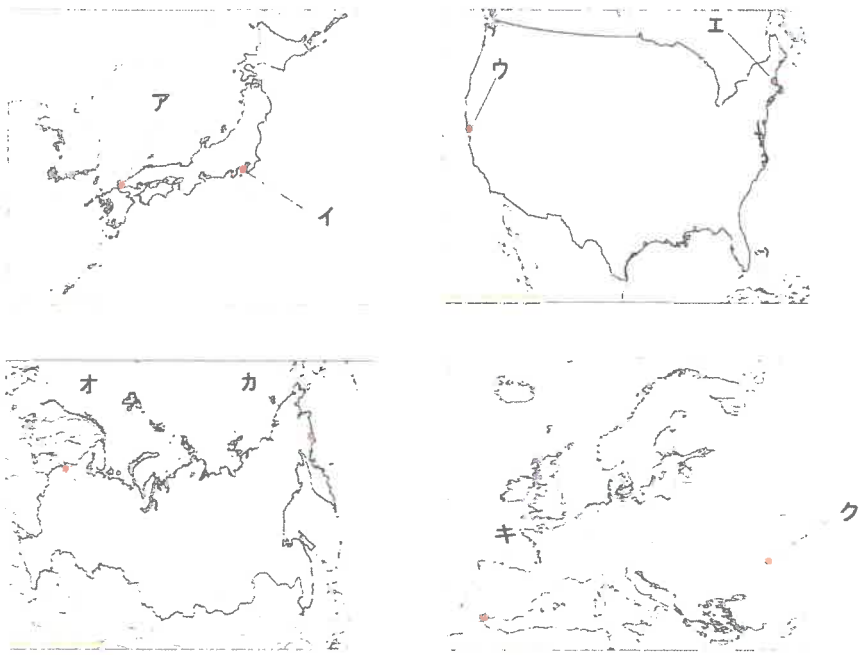

問6　下線部⑥の1950年代の出来事について述べた文として，明らかに誤りを含むものを，次のア～オからすべて選び，記号で答えなさい。

ア．　ソ連との国交は回復しましたが，北方領土の問題が未解決のため，平和条約は結ばれませんでした。

イ．　日本は朝鮮半島における戦争の影響で，特需景気と呼ばれる好景気を経験し，鉱工業の生産額が戦前の水準を回復しました。

ウ．　世界はアメリカを中心とする資本主義諸国（西側諸国）とソ連を中心とする社会主義諸国（東側諸国）とが対立していました。

エ．　佐藤栄作内閣のとき，小笠原諸島と沖縄がアメリカより返還されました。しかし、返還後もアメリカ軍基地の多くが存続することになりました。

オ．　急速な工業化は日本を経済的に豊かにする一方，公害やごみ問題をもたらしました。特に，水俣病や四日市ぜんそくなどの四大公害病などへの対策として，政府は環境庁を設置しました。

3 以下の文章を読んで，あとの問いに答えなさい。

2019 年 10 月，①消費税が 8%から 10%に引き上げられました。消費税とは私たちが購入した商品にかかる税金ですが，この税金と②国政選挙は大きなつながりがあります。日本には，私たち個人の 1 年間のもうけにかかる税金である［ A ］や，会社や協同組合などの 1 年間のもうけにかかる税金である［ B ］などがあるにもかかわらず，なぜ消費税が選挙と大きなつながりがあるのでしょうか。そのことを理解するために，消費税と選挙の歴史をひも解いてみましょう。

消費税がはじめて導入されたのは 1989 年 4 月，竹下③内閣のときです。以前からこの形式の税の導入が検討されていたものの，この導入を発表したときの選挙で自民党が議席を大きく減らし，導入はできませんでした。消費税導入発表前の選挙で大勝した自民党は，竹下内閣の時に消費税に関する法案を発表し，多くの反対がある中，④国会で成立にこぎつけました。しかし，その年の参議院選挙で自民党は国民の支持を得られず，歴史的な大敗をしました。その後，1997 年に消費税が 5%に引き上げられました。引き上げ後の参議院選挙では，またしても経済政策の失敗などもあり，自民党は敗北しました。「消費税増税を行うと選挙で負ける」と思われたことから，以降，政権を担った与党は消費税の引き上げに慎重になりました。

潮目が変わったのは 2009 年，民主党が政権についた時です。当時の野田内閣は消費税を 5%から 8%，10%へと段階的に上げ，その税収増加分を⑤社会保障関係費にあてるという内容を，野党である自民党と合意しました。その後の選挙で自民党に政権が戻ったのちも，この合意は守られ，消費税は 8%に上がりました。しかし，2014 年，2017 年の衆議院選挙の直前，安倍首相は 10%に引き上げる予定だった消費税増税の延期を表明し，その上で衆議院選挙にのぞみ，勝利を収めました。当時の経済情勢を踏まえた上での判断でしたが，消費税引き上げが選挙に与える影響も頭にあったのかもしれません。

昨年の参議院選挙で，与党は 10%への増税を公約に選挙を戦い，勝利を収めましたが，その前には，税金による子育て対策の表明や「今後，10 年は消費税を上げない」など国民の⑥世論を意識した発表がなされました。増税は私たちの生活に直結するものですので，選挙に大きな影響を与えるものです。私たちが，消費税の引き上げに対してどのような感情を抱くかは，その使われ方が正しいものなのか，そして政治家がどのような形で国民を説得するのかが重要なのかもしれません。

問1　空欄［ A ］，［ B ］にあてはまる語句を漢字で答えなさい。

問2　下線部①について，この引き上げの際に「軽減税率」という制度が導入されましたが，この制度では食料品や新聞に関して消費税率10%が適用されず，消費税8%が維持されています。なぜ，食料品の場合に軽減税率が適用されるのですか。その理由を1行程度で書きなさい。

問3　下線部②について，以下のグラフは参議院議員選挙の投票率の推移を示したものです。このグラフに関連する説明として正しいものを，次のア～エから1つ選び，記号で答えなさい。

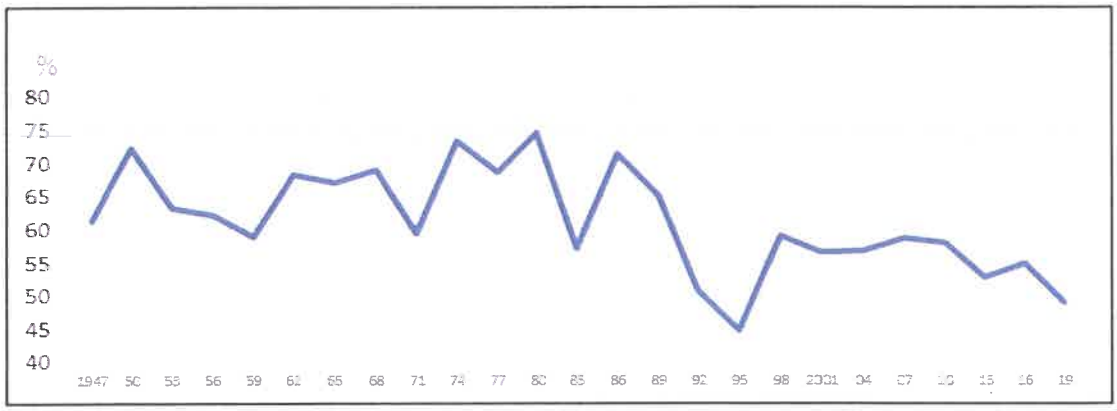

出典：総務省ホームページ

ア．　阪神・淡路大震災が起きた年の参議院選挙では，その直前の参議院選挙と比べ投票率が上昇しました。

イ．　第一次石油危機発生翌年の参議院選挙では，その直前の参議院選挙と比べ投票率が下落しました。

ウ．　はじめて18歳に選挙権が与えられた参議院選挙では，その直前の参議院選挙と比べ投票率が上昇しました。

エ．　東京オリンピック開催翌年の参議院選挙では，その直前の参議院選挙と比べ投票率が上昇しました。

問 4　下線部③について，内閣に関する説明（あ）～（う）の正誤の組み合わせが正しいものを，次のア～クから 1 つ選び，記号で答えなさい。

（あ）　内閣の仕事には外交関係を処理することが含まれており，国会で締結した条約を承認する働きを担っています。

（い）　内閣は 1 府 12 省庁で構成されているため，13 人以上の数の国務大臣は存在してはいけません。

（う）　内閣総理大臣は国務大臣を任命する権利や，やめさせる権利を持っているため，自分の考えに合わない大臣を自由に交代させることができます。

ア．（あ）○（い）○（う）○　　イ．（あ）○（い）○（う）×
ウ．（あ）○（い）×（う）○　　エ．（あ）○（い）×（う）×
オ．（あ）×（い）○（う）○　　カ．（あ）×（い）○（う）×
キ．（あ）×（い）×（う）○　　ク．（あ）×（い）×（う）×

問5　下線部④について，国会には，衆議院の優越がはたらくものと，衆議院と参議院で対等な権限を持っているものがあります。完全に対等な権限をもっているものを，次のア～オからすべて選び，記号で答えなさい。

ア．　弾劾裁判所の設置　　イ．　国政調査権　　ウ．　憲法改正の発議
エ．　予算案の議決　　オ．　内閣総理大臣の指名

問6　下線部⑤について，以下の写真Aは今年の参議院選挙ののちに開かれた国会の様子を表したものです。この写真に最も関連する社会保障の分野として適切なものを，次のア～エから1つ選び，記号で答えなさい。

写真A



BBC　ニュースジャパン　2019年8月1日　より引用
「重度障害のれいわ2議員，車椅子で初登院　国会中央玄関にスロープ」

ア．　雇用保険　　イ．　公的扶助　　ウ．　社会福祉　　エ．　公衆衛生

問7　下線部⑥に関連して，最近の選挙の結果はそのときどきの世論に大きく左右される傾向があります。それは，支持する政党が元から決まっている人々の数が少なくなり，その時々の判断で投票する政党を決めている人が増えているからです。このような「特定の支持する政党を持たない人々」を何と呼びますか。漢字4字で答えなさい。

4 以下の文章を読んで，あとの問いに答えなさい。

次の文章は日本国憲法第二十条です。

第二十条
1 信教の自由は，何人に対してもこれを保障する。いかなる宗教団体も，国から特権を受け，または政治上の権力を行使してはならない。
2 何人も，宗教上の行為，祝典，儀式または行事に参加することを強制されない。
3 国およびその機関は，宗教教育その他いかなる宗教的活動もしてはならない。

この条文に見られるような政治と宗教の関係についての考え方は，近代以降多くの国々で憲法の条文として規定されるようになりました。それ以前の奈良時代の日本の支配者は，宗教をどのように取り扱っていましたか。具体例をあげながら，上記の日本国憲法の条文で示されている内容との違いを具体的に述べなさい。

2020年度　入学試験問題　社会①　解答用紙

1

問1	A		B		
	C		D		

問2	

問3	

問4		問5		問6	

2

問1							
問2	(1)	あ		い		(2)	
問3	→	→	→				
問4							
問5	H		I		J		

問6	

3

問1	A		B	

問2	

問3		問4		問5	
問6		問7			

4

↓ここにシールを貼ってください↓

受験番号

201214